ÔN TẬP HÌNH HỌC

Câu 1

Quan sát hình vẽ sau:

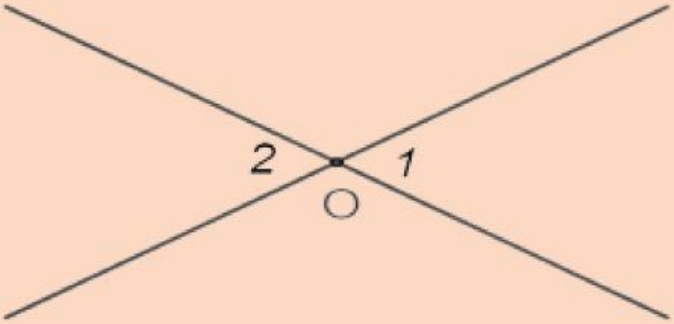

Góc O_1 và góc O_2 là:

Câu 2

Hai góc được đánh dấu trong hình dưới đây là hai góc kề nhau

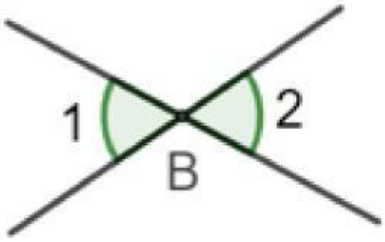

Hình 1

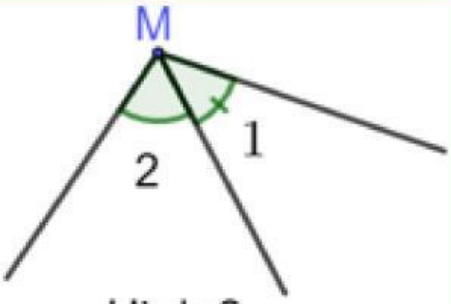

Hình 2

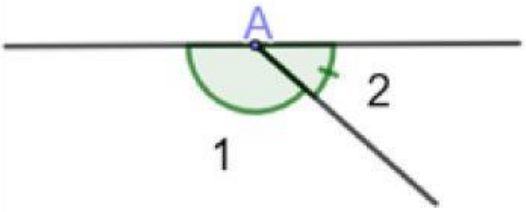

Hình 3

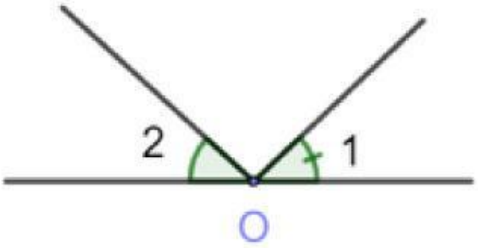

Hình 4

LIVEWORKSHEETS

ÔN TẬP HÌNH HỌC

Câu 3

Cho hình vẽ sau, biết tia Oz là tia phân giác của $\widehat{xOy}$. Số đo của $\widehat{xOy}$ là:

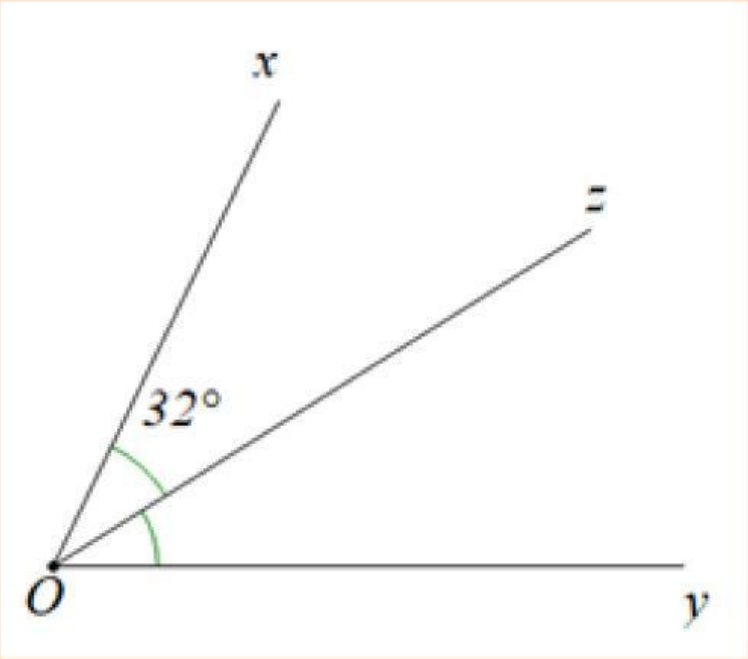

A. $32°$.

B. $64°$.

C. $16°$.

D. $33°$.

Câu 4

Hai góc được đánh dấu trong hình dưới đây là hai góc kề bù

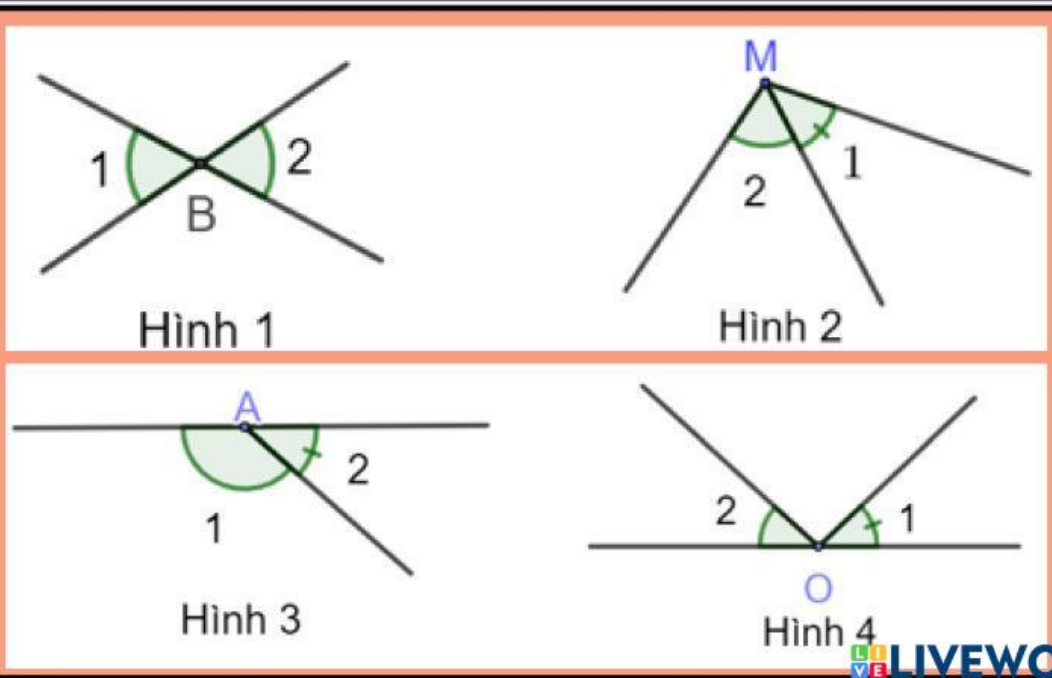

LIVEWORKSHEETS

ÔN TẬP HÌNH HỌC

Câu 5

Tia phân giác của $\widehat{MON}$ trong hình vẽ sau là:

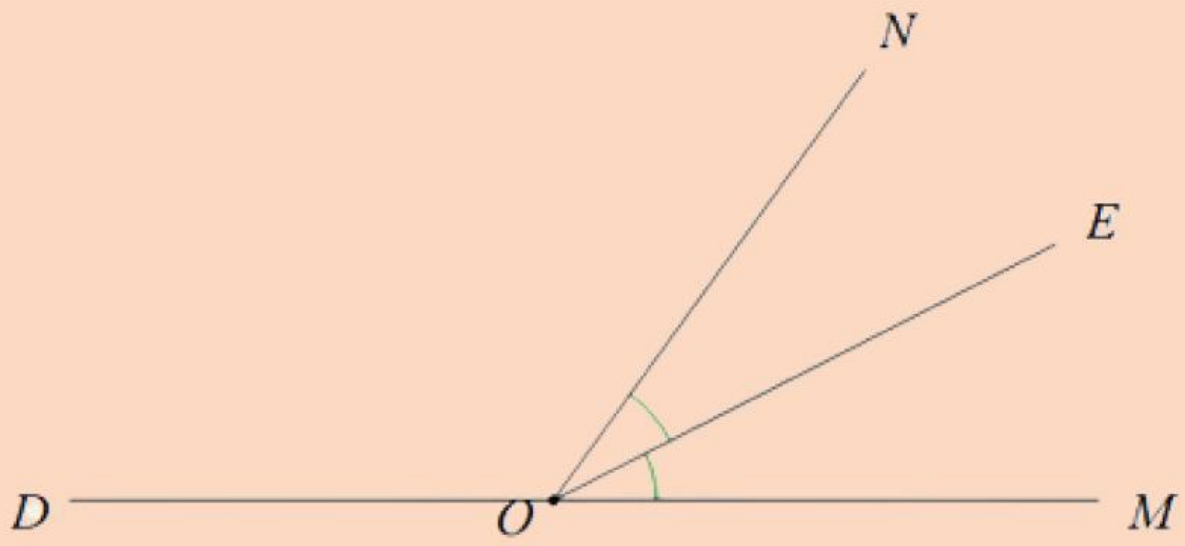

Câu 6

Chọn một cặp góc đồng vị trong hình vẽ sau:

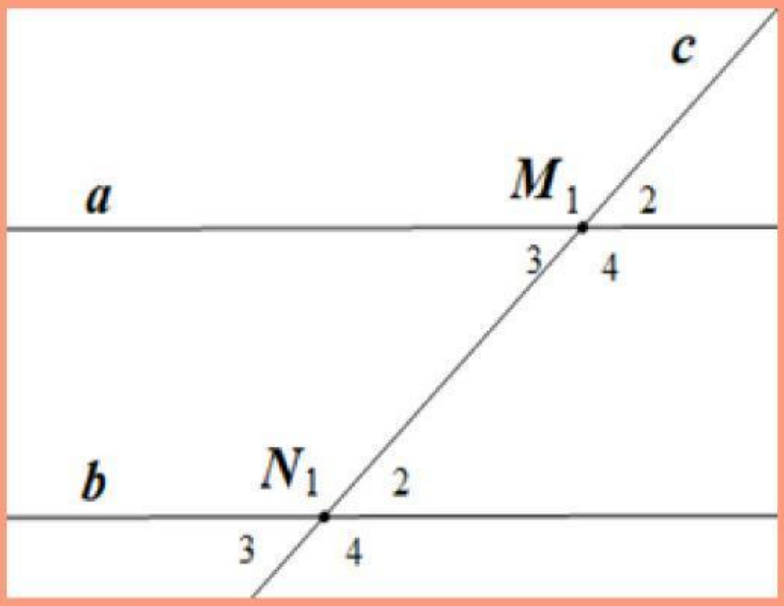

A. $\widehat{M_1}$ và $\widehat{N_3}$.

B. $\widehat{M_1}$ và $\widehat{M_4}$.

C. $\widehat{M_1}$ và $\widehat{N_2}$.

D. $\widehat{M_1}$ và $\widehat{N_1}$.

LIVEWORKSHEETS

ÔN TẬP HÌNH HỌC

Câu 7

Cho hình vẽ, kết luận nào sau đây là đúng:

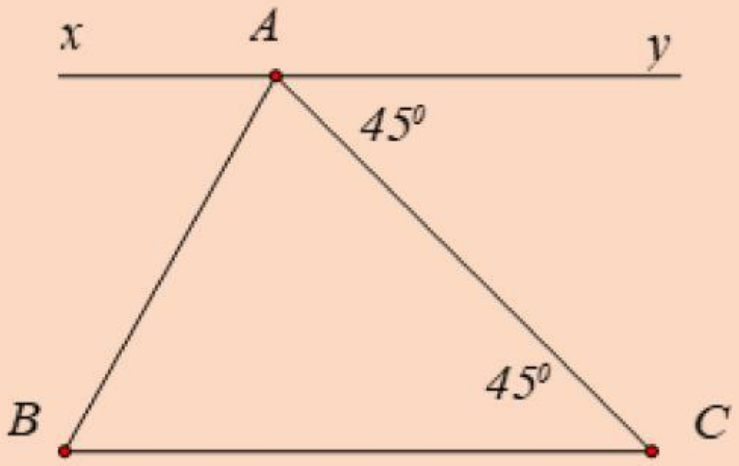

Câu 8

Cho hình vẽ sau, biết $a//b$, $\widehat{A} = 45°$ Số đo của $\widehat{B_1}$ bằng bao nhiêu?

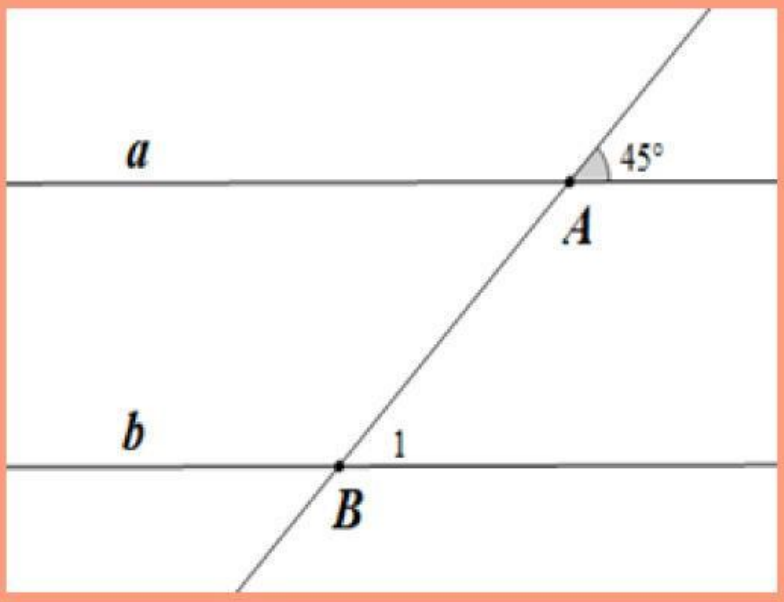

A. 135°.

B. 35°.

C. 45°.

D. 145°.

LIVEWORKSHEETS

Câu 9

Điền cụm từ thích hợp vào chỗ trống:

"Qua một điểm nằm ngoài đường thẳng ..... đường thẳng song song với đường thẳng đó".

Câu 10

Cho hình vẽ dưới đây, Biết $AB \perp AD$; $DC \perp AD$, tính số đo $\widehat{DCB}$ ta được

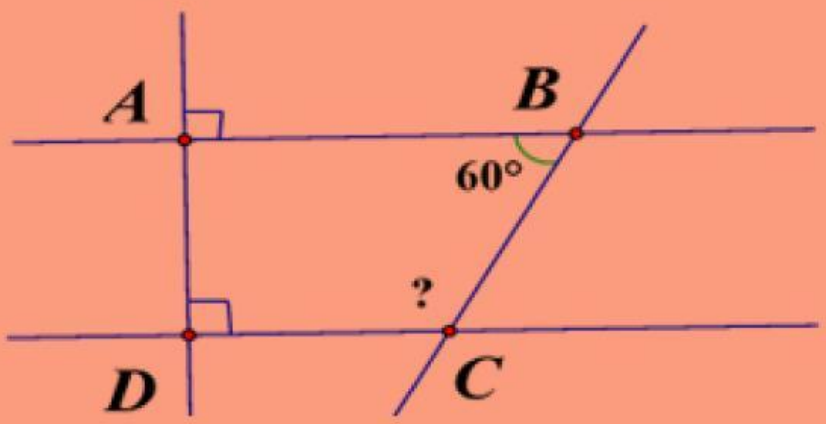

A. $90°$.

B. $30°$.

C. $60°$.

D. $120°$.

LIVEWORKSHEETS