KEGIATAN Tema 7 SubTema 1 PB 5 dan 6

A. Isilah titik-titk di bawah ini dengan menggunakan kata yang tersedia dengan menarik garis

Burung berkembang biak dengan cara ....

- Tunas

Manusia berkembang biak dengan cara ....

- Bergerak

Pohon pisang berkembang biak dengan cara ....

- Tumbuh besar

Aku tahu kuda disebut benda hidup karena ....

- Beranak

Aku tahu ayam disebut benda hidup karena ....

- Bertelur

Aku tahu kucing disebut benda hidup karena ....

- Membutuhkan makanan

Aku tahu ulat disebut benda hidup karena ....

- Berkembang biak

LIVEWORKSHEETS

B. Lengkapi nama bilangan dan nilai tempat sesuai bilangan yang ditunjuk

1. **66**

66 ditulis ...



... puluhan ... satuan

Jadi, 66 = ... + ...

... menempati puluhan.

... menempati satuan.

2. **75**

75 ditulis ...

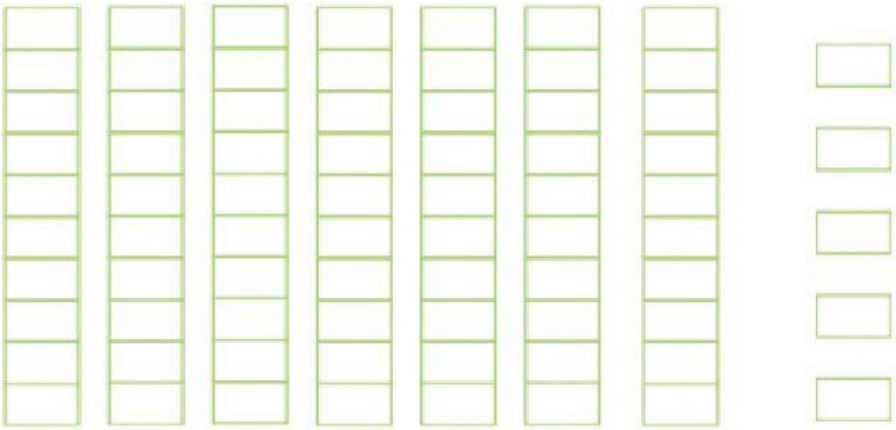

... puluhan ... satuan

Jadi, 75 = ... + ...

... menempati puluhan.

... menempati satuan.

LIVEWORKSHEETS

3. **89**

89 ditulis ...



... puluhan ... satuan

Jadi, 89 = ... + ...

... menempati puluhan.

... menempati satuan.

C. Tulis nama dan bilangan pada tabel berikut ini

1.

Puluhan	Satuan
30	4
.....	
Ditulis	

2.

Puluhan	Satuan
40	7
,.....	
Ditulis	

LIVEWORKSHEETS