Statistika-DATA

Membaca dan Menafsirkan Diagram Batang

NAMA SISWA : _____

KELAS : _____

Mrs. Fitri Yanti
Guru SDS Yasporbi 1
Email : fitriyantimiftah@gmail.com

Isilah titik-titik berdasarkan tabel berikut !

1. Nilai ulangan matematika siswa kelas V adalah sebagai berikut :

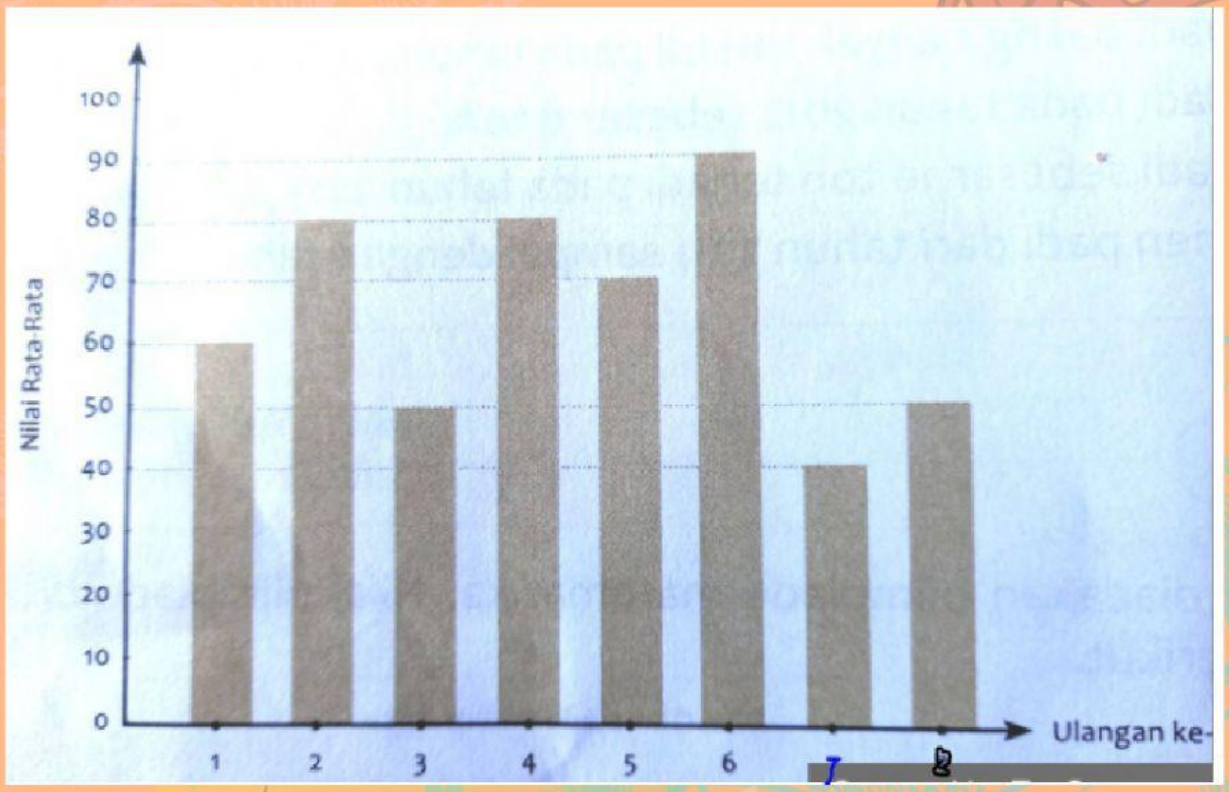

a. Nilai rata-rata paling tinggi terjadi pada ulangan ke- ___, dengan nilai ___

b. Nilai rata-rata ulangan ke-2 adalah ___

c. Nilai rata-rata ulangan ke-4 dan ke-5 adalah ___ dan ___

d. Nilai rata-rata yang sama terjadi pada ulangan ke-___ dan ke-___

LIVEWORKSHEETS

2. Berat badan siswa adalah sebagai berikut :

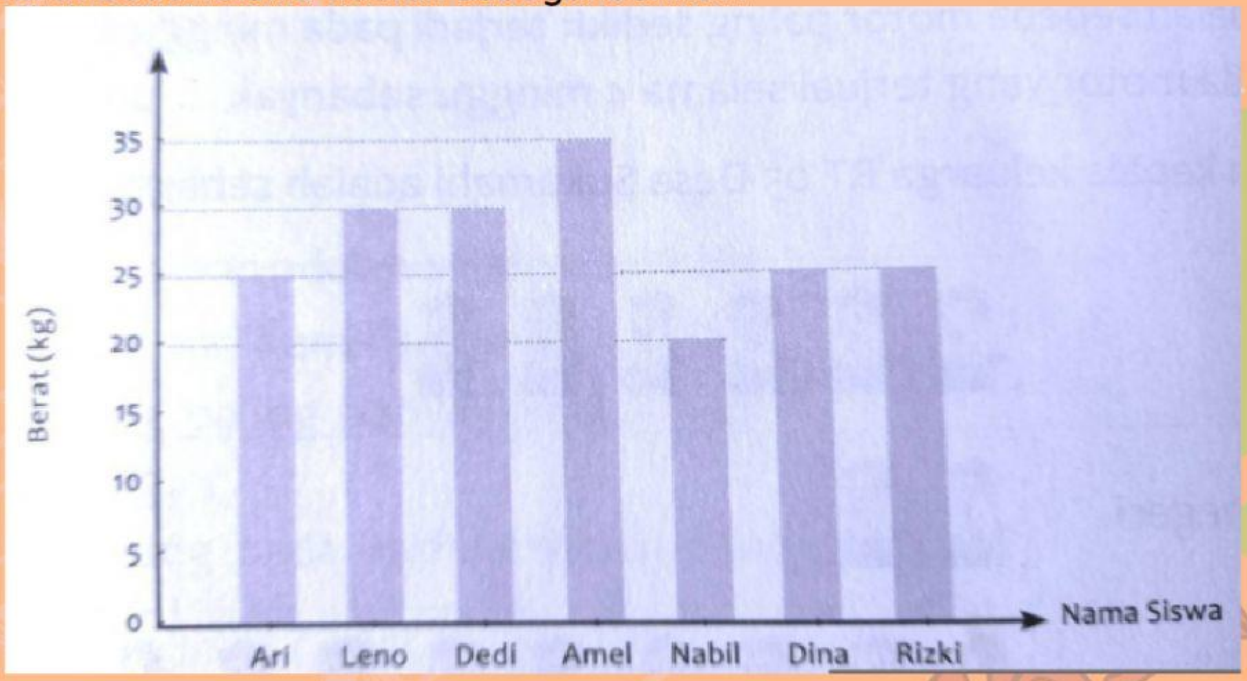

a. Siswa yang memiliki badan paling berat adalah _____, sebesar ___ kg.

b. Siswa yang memiliki berat badan 25 kg adalah _____, _____, _____

c. Leno dan _____ memiliki berat badan yang sama, yaitu ___ kg.

d. Siswa yang memiliki badan paling ringan adalah _____, sebesar ___ kg.

3. Penjualan sepeda motor di sebuah dealer tercatat sebagai berikut :

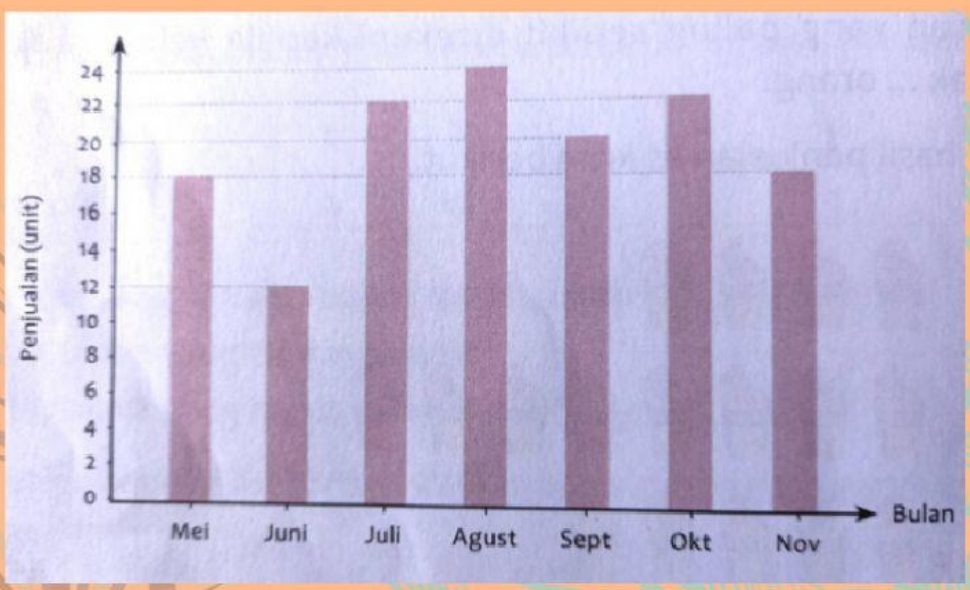

a. Penjualan pada bulan Oktober sebesar ___ unit.

b. Penjualan paling banyak terjadi pada bulan _____, sebesar ___ unit.

c. Penjualan pada bulan Juni dan September sebesar _____ dan _____ unit.

d. Total hasil penjualan dari bulan Mei sampai bulan November adalah ___ unit.

Mrs Fitri Yanti
Guru SDS Yasporbi 1
Email : fitriyantimftah@gmail.com

LIVEWORKSHEETS