היקף המלבן הנתון הוא 32. חשבו את **X**



X=

****

היקף המלבן הנתון הוא 38. חשבו את אורך הצלע החסרה ואת **X**

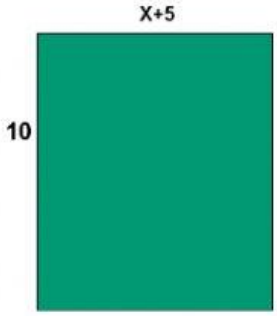

X=

****

היקף המלבן הנתון הוא 36. חשבו את אורך הצלע החסרה ואת **X**



X=

LIVEWORKSHEETS

שטח המלבן הנתון הוא 66. חשבו את אורך הצלע החסרה



X=

****

שטח המלבן הנתון הוא 32. חשבו את אורך הצלע החסרה ואת **X**



X=

LIVEWORKSHEETS