INSTITUTO ANTONIO NARIÑO

FORMACIÓN INTEGRAL CON EXCELENCIA ACADÉMICA

TALLER EN CLASE

ÁREA DE: MATEMÁTICAS
ASIGNATURA: MATEMÁTICAS
GRADO 1°___ PERIODO 1

V4

ESTUDIANTE:		**FECHA:**	
INDICADOR 1.1: Resolver situaciones problema relacionadas con los numeros naturales hasta el 99.		**CRITERIOS:** Interpretación de conceptos, aplicaciòn de algoritmos, verificación de resultados, analisis e interpretación de situaciones.	**ESCALA COLEGIO NARIÑO**
			94-100 SUP
			85-94 ALT
REFERENTES DE CONTENIDO: Situaciones problema			70-84 BSC
			10-69 BJO
REVISADO POR:	**DOCENTE: GISELL TORRES**	**JEFE DE AREA: Yeison Heredia Sarmiento**	
FIRMA ACUDIENTE:		**NOTA:**	

F O R T A L E Z A

MI CASA... UN LUGAR PARA SOÑAR...

1. Descubre los números que está pensando cada niño.

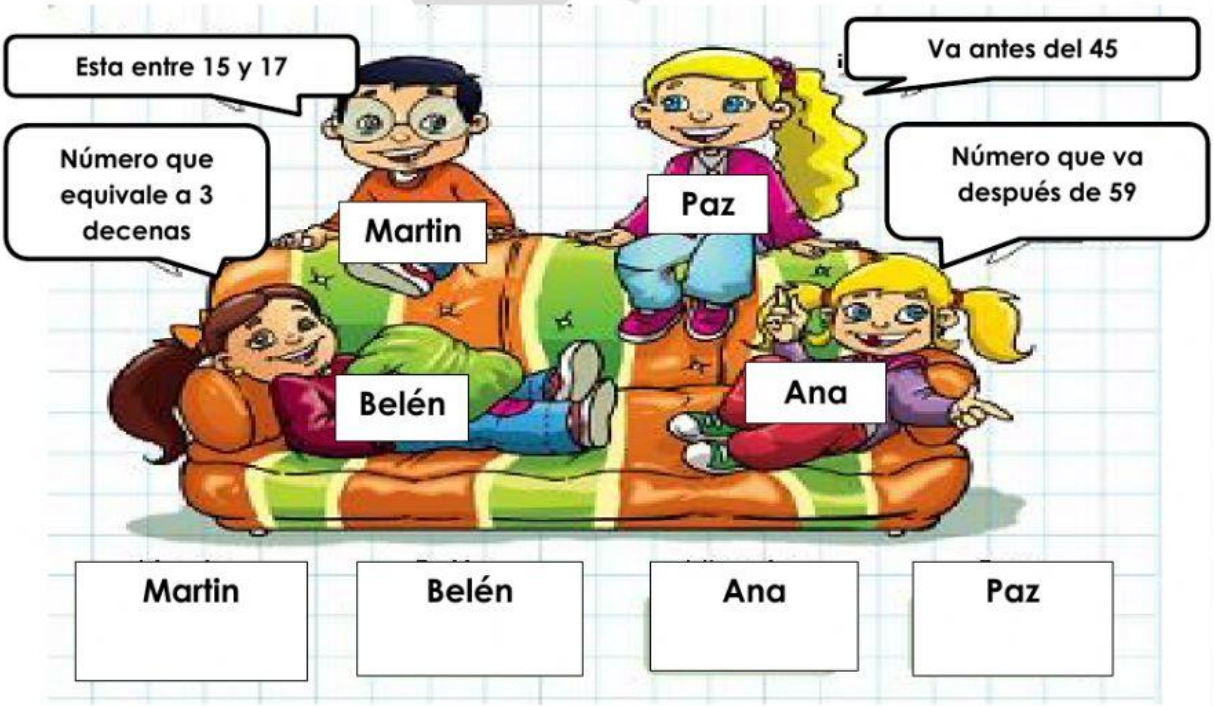

LIVEWORKSHEETS

2. Relaciona cada número con su escritura, para saber dónde vive cada animal

Sesenta y uno	Noventa y seis	Sesenta
Árbol 60	**Conejera 61**	**Establo 96**

Escribe como se lee cada número

89_____

53_____

78_____

95_____

3. Observa el camino los saltos de cada animal y selecciona la cantidad correcta de saltos que dio cada uno.

0 1 2 3 4 5 6 7 8 9

0 1 2 3 4 5 6 7 8 9

LIVEWORKSHEETS

4. Lee la cantidad de años que cumple cada persona y selecciona la cantidad de velitas que apagará.



☺La persona que tiene más años por cumplir es: _____

☺¿Quién es el menor de edad? _____

5. Lee con atención y responde las situaciones.

1 Hay 3 arañas y llegan 2. ¿Cuántas hay en total?

2 Hay 5 sombreros y se rompen 3. ¿Cuántos quedan?

3 Tenía 5 calabazas. Si traen 4, ¿cuántas hay en total?

LIVEWORKSHEETS

6. Una tienda de bicicletas presentó la tabla de sus ventas por mes. Observa y responde



RESPONDE

¿Cuántas bicicletas se han vendido cada mes?

enero	febrero	marzo	abril	mayo	junio

¿Cuántas bicicletas se han vendido en total entre abril y mayo?

Se han vendido _____ bicicletas.

¿Cuántas bicicletas se han vendido en total entre junio y enero?

Se han vendido _____ bicicletas.

LIVEWORKSHEETS