5) $(6 \cdot 8) \cdot 5 = 6 \cdot (8 \cdot 5)$

7) $84 + 16 = 16 + 84$

٣) النظير الجمعي للعدد 3 عكس الاشارة							
Ⓐ	3	Ⓑ	−3	Ⓒ	0	Ⓓ	1
٤) النظير الضربي للعدد $\frac{2}{7}$ مقلوب العدد							
Ⓐ	$\frac{2}{7}$	Ⓑ	$\frac{7}{2}$	Ⓒ	$-\frac{2}{7}$	Ⓓ	$-\frac{7}{2}$

٣- حدّد نوع الدالة في الشكل المجاور:

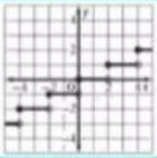

Ⓐ	دالة ثابتة	Ⓑ	دالة محايدة	Ⓒ	دالة درجية	Ⓓ	دالة القيمة المطلقة

1)

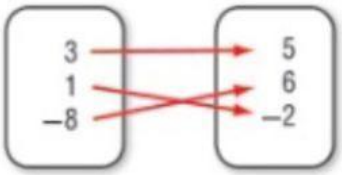

3) أي مجموعات الأعداد الآتية لا ينتمي إليها العدد −25؟

A الأعداد الصحيحة

B الأعداد النسبية

C الأعداد الحقيقية

D الأعداد الكلية

6) عل الشكل أدناه منطقة حل النظام:

$y \le \frac{1}{2}x - 2$

$y \le -\frac{2}{3}x - 1$

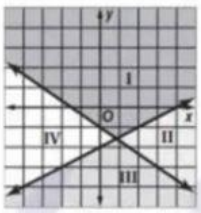

A المنطقة I

B المنطقة II

C المنطقة III

D المنطقة IV

1)

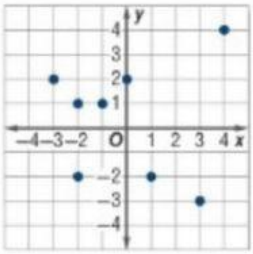

حدد مجموعات الأعداد التي ينتمي إليها كل عدد مما يأتي:

1A) -185 Z , Q , R

1B) $-\sqrt{49}$ Z , Q , R

1C) $\sqrt{95}$ R ، I

1D) $-\frac{7}{8}$ Q , R

53) **اكتشف الخطأ:** بسّطت كلٌّ من فاطمة وخديجة العبارة: $4(14a - 10b) - 6(b + 4a)$. فهل أيٌّ منهما تبسيطها صحيح؟ وضِّح إجابتك.

فاطمة	خديجة
$4(14a - 10b) - 6(b + 4a)$	$4(14a - 10b) - 6(b + 4a)$
$= 56a - 40b - 6b + 24a$	$= 56a - 40b - 6a - 24b$
$= 80a - 46b$	$= 50a - 64b$

LIVEWORKSHEETS