سؤال ٩ وعد أب ابناءه من يحصل على المركز الأول في الاختبار يحصل على ٣٠٠٠ ريال والمركز الثاني ٢٠٠٠ ريال والمركز الثالث ١٠٠٠ ريال ، فإذا حصل اثنان من ابناءه على المركز الثالث وحصل ابن على المركز الأول وحصل ابن على المركز الرابع ،ما اجمالي المبلغ الذي سيدفعه الأب؟

أ ٣٠٠٠ ب ٤٠٠٠ ج ٥٠٠٠ د ٦٠٠٠

س ١

٢ × ١٠٠٠ + ٣٠٠٠ + ٠

٢٠٠٠ + ٣٠٠٠ = ٥٠٠٠ ج

س ٢

مساحه المربع - مساحه المثلث

سؤال ١٠ الشكل المجاور مربع طول ضلعه ٢سم ، أوجد مساحة الجزء المظلل

أ ١ ب ٢ ج ٣ د ٤

٤ × ٤ - ½ × ٢ × ١ + ½ × ٢ × ١

٤ - ٢ = ٢

ب

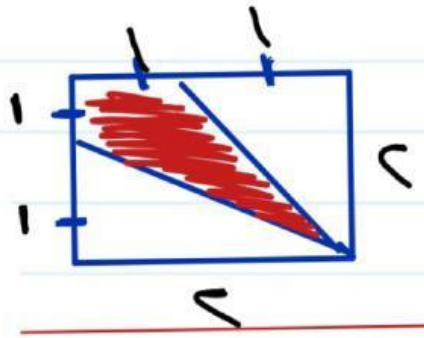

سؤال ١١ قارن بين

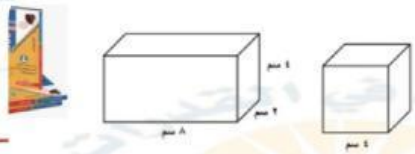

س ٣ :

- القيمة الأولى: حجم المكعب
- القيمة الثانية: حجم متوازي المستطيلات

أ القيمة الأولى أكبر
ب القيمة الثانية أكبر
ج القيمتان متساويتان
د المعطيات غيركافية

٤ × ٤ × ٤ = ٤ × ٢ × ٨ = ٦٤

١٦ × ٤ = ٦٤

ج

LIVEWORKSHEETS

سؤال ١٢ اوجد طول $\overline{\text{د هـ}}$

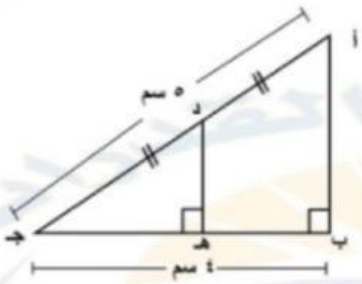

أ ١,٥ ب ٢ ج ٢,٥ د ٣

مثلث فيثاغورس

$\sqrt{\text{د هـ}^2 = ٢,٥^2 - ٢^2}$

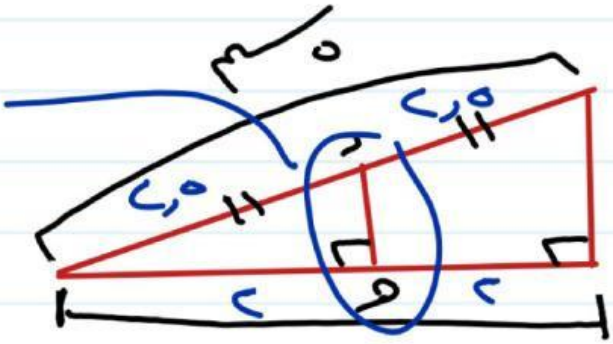

$\sqrt{٦,٢٥ - ٤}$

$\sqrt[٢]{٢,٢٥} = ١,٥$

س ٥

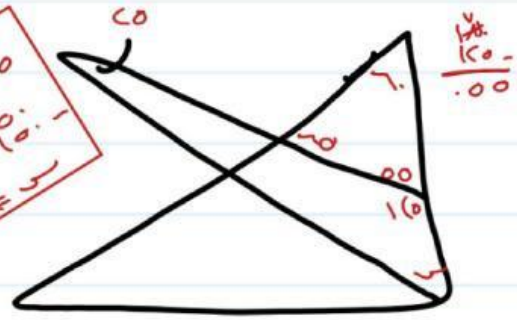

١٨٠ = س + ٢٥ + ٦٠

١٨٠ = س + ١٥٠

١٥٠ − ١٨٠

س = ٣٠

ب

سؤال ١٣ أوجد قيمة س

أ ٢٥ ب ٣٠ ج ٥٠ د ٦٠

LIVEWORKSHEETS

سؤال ١٤ ما القيمة المنزلية للرقم ٦ في العدد ٥٤٦٣؟

أ ٦ ب ٦٠ ج ٦٠٠ د ٦٠٠٠

ب = ٦٠

سؤال ١٥ قارن بين:

- القيمة الأولى: ١٢٥٠ هللة
- القيمة الثانية: ٢٥ ريال

أ القيمة الأولى أكبر
ب القيمة الثانية أكبر
ج القيمة متساويتان
د المعطيات غير كافية

س ٧)

١ ريال يحتوي ١٠٠ هلله لذلك سوف اقسم.

أ) ١٢٫٥ ريال $= \frac{١٢٥٠}{١٠٠}$

ب) ٢٥ ريال

ب اكبر اذا القيمه ٢ اكبر

س ٨)

$\frac{٦}{١} - \frac{١}{٦}$

ج) $\frac{٣٥}{٦} = \frac{٣٦ - ١}{٦}$

سؤال ١٦ $\frac{٦}{١} - \frac{١}{٦} = ...$

أ ٠ ب ١ ج $\frac{٣٥}{٦}$ د $\frac{٦}{٣٥}$

LIVEWORKSHEETS

سؤال ١٧ $\frac{٠,١ \times ٠,١ + ٠,٠٢ \times ٠,٠٢}{٠,٢ \times ٠,٢ + ٠,٠٤ \times ٠,٠٤} = ...$

أ $\frac{١}{٤}$ ب $\frac{١}{٢}$ ج ٢ د ٤

$\frac{١ن \times ١ن + ٠,٠٢ن \times ٠,٠٢ن}{٢ن \times ٢ن + ٠,٠٤ن \times ٠,٠٤ن} =$

١) ترتيب العمليات مهم الضرب اولا

$\frac{١ن + ٠,٠٠٤ن}{٤ن + ٠,٠١٦ن} = \frac{٠,١٠٤ن}{٠,٤١٦ن} = \frac{١٣ \div ١٠٤}{٥٢ \div ٤١٦} = \frac{١}{٤}$

س ١٠)

سؤال ١٨ قارن بين:

- القيمة الأولى: $\frac{١}{٢}$ س
- القيمة الثانية: ص

أ القيمة الأولى أكبر
ب القيمة الثانية أكبر
ج القيمتان متساويتان
د المعطيات غير كافية

$\frac{١}{٢}$ س = ٦٠
ص = ٦٠

س = ١٢٠
ص = ٦٠

ج

عمل الطالب: لارا المهوس
الصف: ٢/١

LIVEWORKSHEETS