الفصلُ ٣

الاختبارُ التراكميُّ

الفصولُ ١-٣

الجزء ١ اختيار من متعدد

اخترِ الإجابةَ الصَّحيحةَ:

١ سألَ مهندٌ طُلَّابَ صفِّهِ عنِ الرِّحلةِ المدرسيَّةِ المفضَّلةِ لديْهِم. ثمَّ عرضَ النَّتائجَ بتمثيلِ الأعمدةِ التَّالِي:

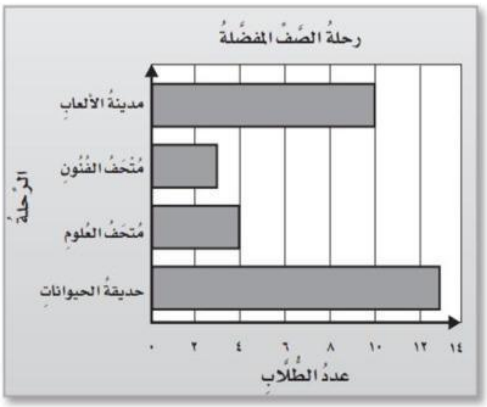

كمْ يزيدُ عددُ الطُّلَّابِ الذِينَ يفضِّلُونَ الذّهابَ إلى حديقةِ الحيواناتِ علَى عددِ الذينَ يفضّلُونَ الذّهابَ إلى متحفِ العلومِ؟

أ) ٣ جـ) ٧

ب) ٦ د) ٩

---

٢ مَا العددُ الَّذي يزيدُ بمِقدارِ ١٠٠٠٠ علَى العددِ ٨٢٧٥٣؟

أ) ٨٢٨٥٣ جـ) ٩٢٧٣٥

ب) ٨٣٧٥٣ د) ٩٢٧٥٣

٣ طريقٌ طولُه ٩٤٨٥ مترًا. إذَا قطعَ سعدٌ مِنهُ مسافةَ ٦٢٠٨ مترًا بدرَّاجتِهِ، فكم مترًا بَقِيَ؟

أ) ١٥٧٩٣ جـ) ٣٢٧٧

ب) ١٥٢٦٧ د) ٣١٨٣

---

٤ لدَى هندٍ العملات النقديةُ الآتيةُ، إذَا اختارتْ عملة نقديةً واحدةً عشوائيًّا، فمَا احتمالُ أنْ تكونَ خمسة ريالات واحدة؟

٥ عملات ٤ عملات عملتان ٣ عملات

أ) ٥ من ٦٦ جـ) ٥ من ١٤

ب) ١ من ٦٦ د) ١ من ١٤

---

٥ ما القِيمةُ المنزليةُ للرَّقمِ ٩ في العددِ ١٦٩٣٢٨٤٥٧؟

أ) ٩٠٠٠٠٠ جـ) ٩٠٠٠٠٠٠٠

ب) ٩٠٠٠٠٠٠ د) ٩٠٠٠٠٠٠٠٠

---

٦ قرِّبِ العددَ ٧٣٦٢٤٩ إلى أقربِ مئةٍ؟

أ) ٧٣٦٠٠٠ جـ) ٧٣٦٢٥٠

ب) ٧٣٦٢٠٠ د) ٧٤٠٠٠

LIVEWORKSHEETS

٧ ما الرمزُ الذِي يجبُ وضعُه في ▢ لتكونَ الجملةُ الآتيةُ صحيحةً؟

١٢٩٣٥٣٧٤ ▢ ١٢٩٥٣٧٤٨

أ) > جـ) =

ب) < د) +

٨ قطعَ أحمدُ بسيارتهِ يومَ الأربعاءِ ١٤٦ كلم، ويومَ الخميسِ ٢٠٦ كلم، ويومَ الجمعةِ ١٧٥ كلم. قدِّرْ عددَ الكيلومتراتِ التي قطعَها في الأيامِ الثلاثةِ.

أ) ٤٠٠ كلم جـ) ٥٠٠ كلم

ب) ٦٠٠ كلم د) ٧٠٠ كلم

٩ تبينُ لوحةُ الإشاراتِ أدناهُ عددَ السياراتِ التِي باعَهَا أحدُ معارضِ السياراتِ

السياراتُ المبيعة	
اليومُ	الإشاراتُ
السبتُ	𝍸
الأحدُ	𝍸
الإثنينِ	𝍸
الثلاثاءُ	𝍸
الأربعاءُ	𝍸

ما اليومانِ اللَّذانِ باعَ فيهِمَا أقلَّ عددٍ منَ السياراتِ ؟

أ) السبتُ والأربعاءُ جـ) الأحدُ والثلاثاءُ

ب) الإثنينِ والأربعاءُ د) الثلاثاءُ والأربعاءُ

الجزء ٢ الإجابة القصيرة

أجبْ عنِ السؤالِ التالِي:

١٠ أكملِ الفـراغَ واكتبِ اسـمَ الخاصيةِ التي استعملتَها.

أ) ١٣٦ + ٠ = ▢ .....

ب) (٤+ ▢) + ٧ = ٤ + (٢+٧) .....

جـ) ٥٨ + ٩٨ = ▢ + ٥٨ .....

الجزء ٣ الإجابة المطولة

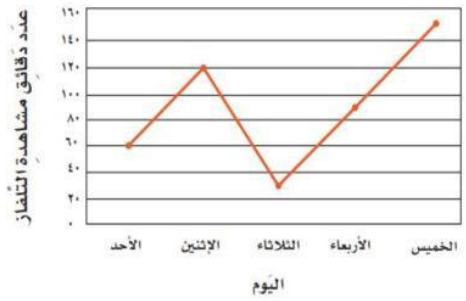

١١ الشَّكلُ يمثِّلُ عددَ الدَّقائقِ الَّتي يقضيهَا خالدٌ أمامَ التِّلفاز يوميًا.

أ) أيُّ يومٍ يقضِي خالـدٌ وقتًا أطولَ في مشاهدةِ التِّلفاز؟

ب) أيُّ يومٍ يقضِي خالدٌ وقتًا أقصرَ في مشاهدةِ التِّلفاز؟

LIVEWORKSHEETS

الفَصْلُ ٣

اخـتـبـر نفسك

١ فِي أَيِّ عُمُرٍ (بَينَ أَيِّ سَنَتَيْنِ) زَادَ طُولُ أَيْمَنَ بِأَكبَرِ مِقْدَارٍ؟

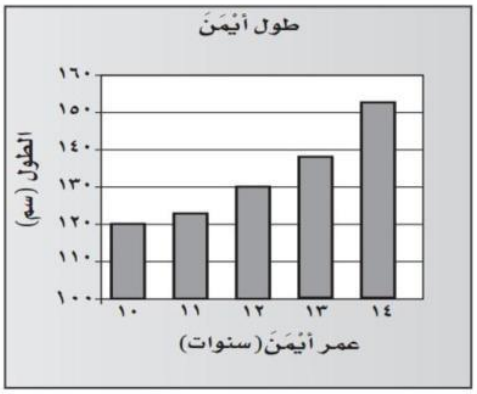

أ) ١٠ و ١١ جـ) ١١ و ١٢

ب) ١٢ و ١٣ د) ١٣ و ١٤

٢ مَا مِقْدَارُ المَاءِ الَّذِي تَستَعمِلُه الأُسْرَةُ كُلَّ يَومٍ؟



أ) ٩٠ جـ) ١٨٥

ب) ٢٠٠ د) ٢١٠

٣ يُشِيرُ الرَّسمُ البَيَانِيُّ إِلى أَعْمَارِ ٤ أَشخَاص، بِكَم سَنَةٍ يَزِيدُ عُمُرُ حُسَينٍ عَلى عُمُرِ مَرْوَى؟

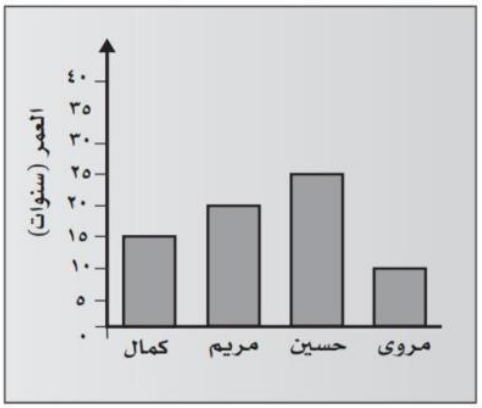

أ) ٥ جـ) ١٠

ب) ١٥ د) ٢٠

٤ يُشِيرُ الرَّسْمُ البَيَانِيُّ إِلى عَدَدِ الزِّيَارَاتِ لِـمَوقِعِ «ابْحث عَن الإِجَابَةِ» كَمْ كَانَ عَدَدُ الزِّيَارَاتِ يَوْمَ الْأَربِعَاء؟

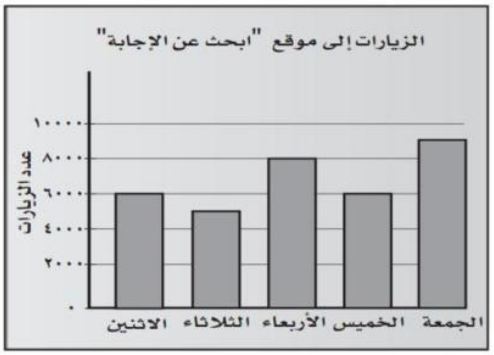

أ) ٤٠٠٠ جـ) ٦٠٠٠

ب) ٨٠٠٠ د) ١٠٠٠٠

LIVEWORKSHEETS

٥ قَامَ أَحْمَدُ بِاسْتِطْلَاعٍ حَوْلَ اللَّونِ المُفَضَّلِ لَدَى التَّلَامِيذِ فِي ٤ صُفُوفٍ، فِي أَيِّ صَفٍّ اخْتَارَ أَقَلُّ عَدَدٍ مِنَ التَّلَامِيذِ اللَّونَ الأَزرَقَ؟

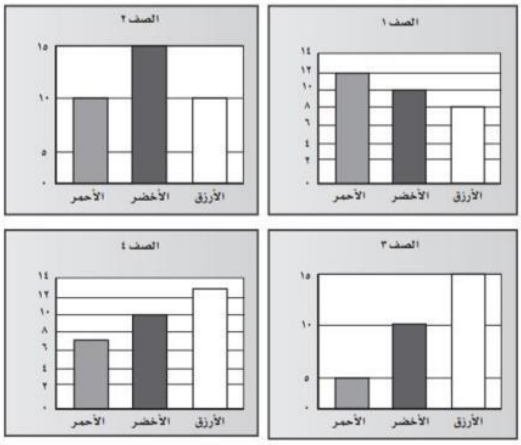

أ) الصَّف١ جـ) الصَّف٢

ب) الصَّف٣ د) الصَّف٤

---

٦ فِي مَدْرَسَةِ النَّجَاحِ هُنالك مَقَاعِدُ بِكُلِّ صَفٍّ لـ ٣٠ تِلْمِيذًا، كَم تِلْمِيذًا إِضَافِيًّا يُمكِنُ أَنْ تَسْتَوعِبَهُ المَدرَسَةُ؟

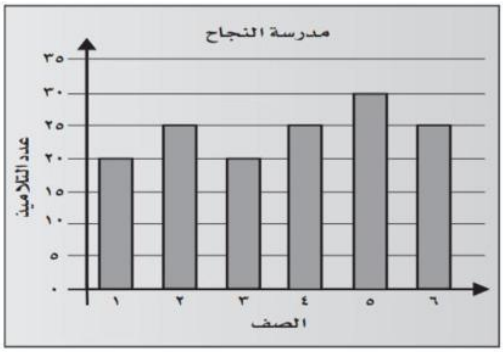

أ) ٢٠ جـ) ٢٥

ب) ٣٠ د) ٣٥

٧ أُكْتُبْ وَصْفًا لِتجْرِبَةِ سَحْبِ كُرَةٍ مِنْ هَذا الكِيسِ يَكُونُ نَاتِجُها:

أ) مُؤَكَّدًا

.....

ب) أَكثَرُ احْتِمَالًا

.....

جـ) مُستَحِيلًا

.....

د) أقل احتمالًا

.....

أتدَّربُ

من خلال الإجابة عن الأسئلة؛ حتى أعزِّزَ ما تعلمتُهُ من مفاهيمَ وما اكتسبتُهُ من مهارات.

أنا طالبٌ معدٌّ للحياةِ، ومنافسٌ عالميًّا.

LIVEWORKSHEETS