LATIHAN PAT KELAS 2 MATEMATIKA

1.

Lambang bilangan di samping di baca …

Tiga

Empat

Lima

2. Di antara gambar berikut yang berjumlah **DELAPAN** adalah …



3. Perhatikan gambar berikut!

LIVEWORKSHEETS

Buah yang paling banyak adalah buah …

Anggur

Pisang

Mangga

4. Hasil dari 8 + 9 adalah …

17

16

18

5. Beni memetik 15 buah tomat. Di berikan Udin 5 buah. Banyaknya tomat Beni sekarang adalah …

8

9

10

6. Boni mempunyai 13 kelereng dan Kevin mempunyai 16 kelereng. Kelereng Boni … dari pada kelereng kevin.

Lebih sedikit

Lebih banyak

Sama banyak

7. Perhatikan gambar berikut!



Pernyataan yang benar berdasarkan gambar adalah …

LIVEWORKSHEETS

Kelereng lebih sedikit dari pada mobil

Kelereng lebih banyak dari pada mobil

Kelereng sama banyak dengan mobil

8. 8, 9, 10, 11 … ,13

Bilangan yang tepat untuk mengisi titik-titik di atas adalah …

12

13

14

9. Urutan bilangan dari yang terkecil adalah …

6, 7, 8, 9, 10

6, 8, 7, 9, 10

6, 9, 8, 7, 10

10. **28**

Angka 2 pada bilangan di samping menempati nilai tempat …

Satuan

Puluhan

Ratusan

11. Buah yang memiliki bentuk seperti bola adalah …

Pisang

Semangka

Jambu air

LIVEWORKSHEETS

12. Setiap hari Beni membawa botol air saat pergi ke sekolah. botol air mempunyai bentuk seperti …

Kubus

Tabung

Balok

13.

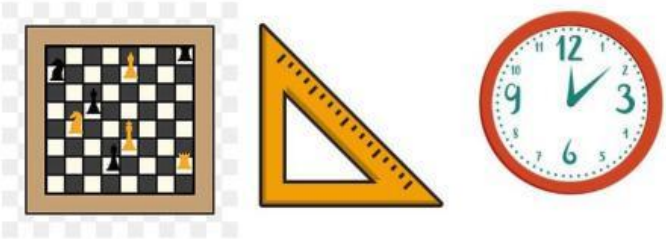

Dari benda-benda di atas, yang berbentuk segitiga adalah …

Penggaris

Papan catur

Jam dinding

14. Perhatikan gambar pola berikut!

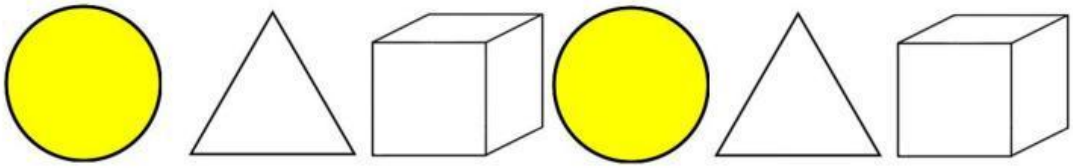

Lanjutan dari pada di atas adalah …

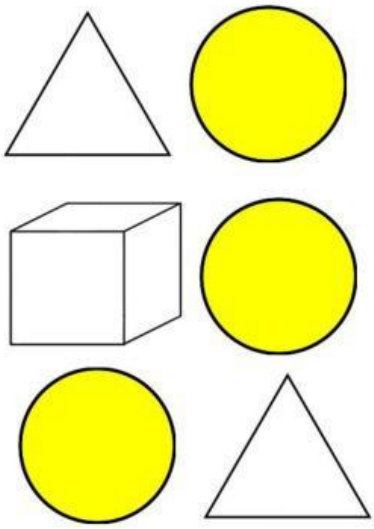

LIVEWORKSHEETS

15. Gambar di bawah ini yang berbentuk tabung adalah …

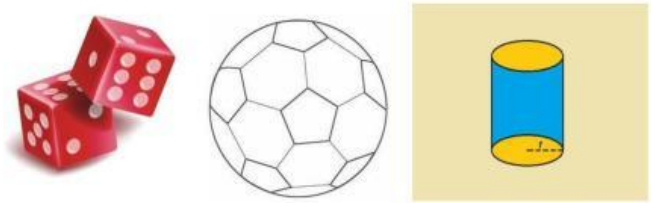

16. Lambang bilangan dari tiga belas adalah …

17. 

Banyak kelinci di atas adalah …

18. Hasil dari 9 + 8 adalah …

19. Rika membeli 9 buah apel, namun 3 apel busuk. Jumlah apel Rika yang masih baik berjumlah …

20. 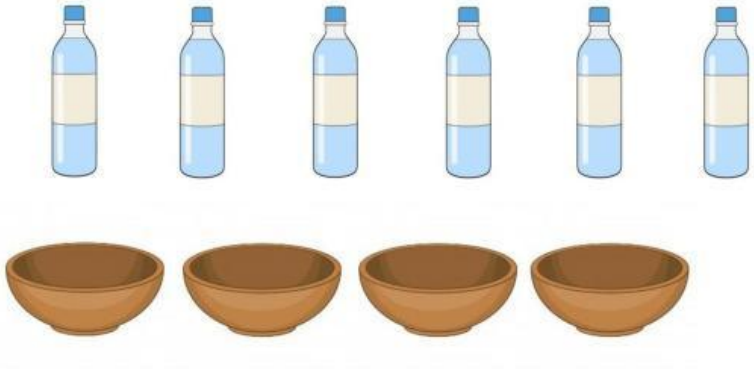

6 Botol … dari pada 4 Mangkok

21. 9, 8, 12, 11, 10 Urutan bilangan di samping dari yang terbesar adalah …

LIVEWORKSHEETS

22. Yang menempati nilai tempat satuan dari bilangan 34 adalah angka …
23. Bangun ruang yang memiliki bentuk seperti bola adalah …

24. Urutan nama bangun datar berdasarkan gambar di atas adalah …
25. Pasangkan gambar sesuai dengan bentuknya!

Persegi

Lingkaran

26. Perhatikan gambar berikut!



LIVEWORKSHEETS

Buah apakah yang memiliki jumlah paling banyak ?

27. Di dalam kandang ada 10 sapi. Paman beli lagi 8 sapi. Berapa jumlah sapi paman sekarang ?
28. Tania mempunyai 12 buah mangga. Di berikan kepada temannya 5 buah. Berapa buah mangga Tania sekarang ?

Untuk mengerjakan soal nomor 29 dan 30.

Perhatikan kolom di bawah ini !

No.	Nama Bangun Ruang	Gambar Bangun Ruang	No.	Nama Bangun Ruang	Gambar Bangun Ruang
1	BOLA		1	BALOK	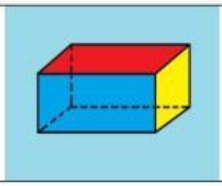
2	KUBUS		2	TABUNG	

29. Bangun ruang dan nama benda yang sesuai ditunjukan pada nomor berapa ?
30. Bangun ruang dan nama benda yang tidak sesuai di tunjukan pada nomor berapa ?

LIVEWORKSHEETS