1. Дэлхийн гадаргыг хавтгай дээр олон дахин багасгаж дүрсэлснийг ..... гэнэ.
   A. газарзүйн зураг B. гэрэл зураг C. глобус D. байрзүйн зураг

2. Дэлхийн гадаргыг бүхэлд нь үзүүлсэн зураг дээр гажилт их гардаг бол газар нутгийн талбай бага болох тутам газарзүйн зураг дээрх гажилт ямар байх вэ?

   A. ихэснэ B. багасна C. нэмэгдэнэ D. өөрчлөгдөхгүй

3. Хаяалбар хоорондын зай ойр зурагдсан байвал гадаргын налуу ямар байх вэ?

   A. эгц B. налуу C. гүдгэр D. хотгор

4. Масштабыг хэлбэрээс нь хэд ангилдаг вэ?

   A. 2 B. 3 C. 4 D. 5

5. ..... нь дэлхийн гадаргыг хавтгай дээр олон дахин багасган буулгасан хэмжээ.

A. газарзүйн зураг B.газарзүйн зургийн гажилт C. масштаб D. тусгаг

6. Газарзүйн зурагт азимут зүг чигээр байршлыг тодорхойлоход 180 градус нь аль чиглэлийг заах вэ?

   A. Баруун B. Зүүн C. Хойд D. Өмнө

7. Байрзүйн зурагт "цэг"-ээр ямар обьектыг дүрслэх вэ?

   A. нуур B. тоглоомын талбай C. гол мөрөн D. худаг

8. Дэлхийн гадарга дээрх аливаа байрлалын уртраг ба өргөргийн огтлолцлыг ..... гэнэ.

A. газарзүйн солбицол B. голдож C. зэргэд D. тусгаг

9. 1:25000 зураг нь ямар масштабтай зураг вэ?

   A. Том B. Дунд C. Жижиг D. Байрзүйн зураг

10. Хойд туйл дээр зуны туйлын өдөр болж байхад нар хаана эгц тусах вэ?
    A. Матрын зам дээр B. Экватор дээр
    C. Мэлхийн зам дээр D. Өмнөд туйлын цагираг дээр

11. 1-н тоогоор ямар зүгийг тэмдэглэсэн байнаа вэ?

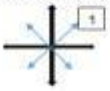

A. баруун өмнөд B. зүүн хойд C. зүүн өмнөд D. баруун хойд

12. 2-н тоогоор ямар зүгийг тэмдэглэсэн байнаа вэ?

A. баруун өмнөд B. зүүн хойд C. зүүн өмнөд D. баруун хойд

LIVEWORKSHEETS

13. 1: 12 000 000 –ын тоон масштабыг нэрлэсэн масштаб болгон бичсэн зөв хувилбарыг сонгоно уу?

A. 1 см-т 12 км B. 1 см-т 120 км C. 1 см-т 1200 км D. 1 см-т 12000 км

14. Тусгагийн ямар төрлүүдийг нэрлэж бичээрэй.

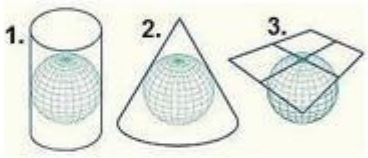

1-Азимут 2-конус 3-цилиндр

15. Зурагт дүрсэлсэн тусгагийг ажиглаад дараах асуултанд хариулна уу?

Тусгаг	Өргөрөгийн шугам	Уртрагийн шугам
	1.	2. .....

1. Нум 2. шулуун

16. Дараах зурагт 3-ын тоогоор ямар тусгагийн төрлийг дүрсэлсэн байна вэ?

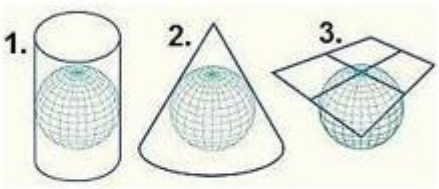

A. конус тусгаг B. гүүдийн тусгаг C. азимут тусгаг D. цилиндр тусгаг

17. Дараах зурагт юуг харуулсан вэ?

A. голдож B. уртраг C. экватор D. зэргэд

LIVEWORKSHEETS