ورقة عمل 2

السؤال الأول: حلل المتجهات الى مركباتها في الأشكال التالية:

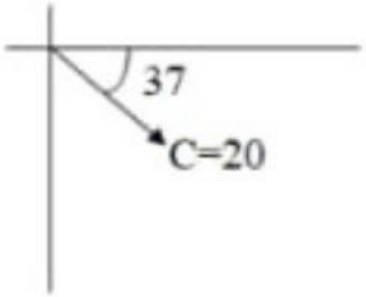

$C_X =$

$C_y =$

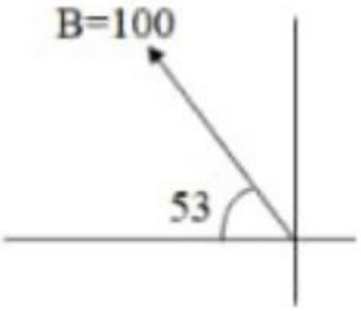

$B_X =$

$B_y =$

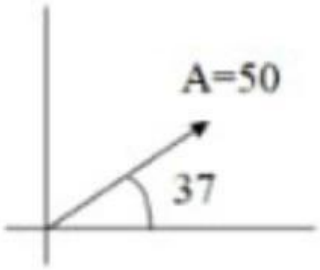

$A_X =$

$A_y =$

السؤال الثاني: إذا علمت أن مركبتي التســارع لجســم هما

$a_x = 60\ m/s^2$ و $a_y = -80\ m/s^2$ ، جد مقدار واتجاه تسارع الجسم.

"تذكروا دائمًا أن الجهد الذي بذلتموه اليوم هو خطوة نحو مستقبل مشرق.
اجتهدوا وكونوا فخورين بما قدمتم، فالأفضل دائماً ينتظركم."

معلمتكم المحبة: أنسام بني عطا

LIVEWORKSHEETS