ESCOLA MUNICIPAL _____

JOÃO PESSOA, 11/03/2021.

ALUNO (A):_____

5º ANO:_____ **TURMA:**_____ **TURNO:**____

QUINTA-FEIRA 11/03

1º)Daniel representou o número 1.540 no ábaco. Marque o ábaco que corresponde a esse número.

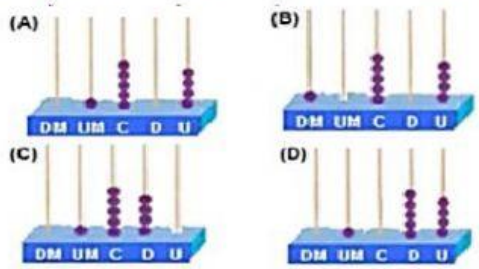

2º)O número representado no ábaco da figura é:

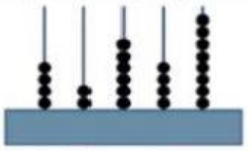

(A)46.482 (B)42.648 (C)84.624 (D)86.424

3º)No ábaco abaixo, Cristina representou um número:

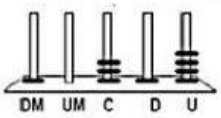

Qual foi o número representado por Cristina?

(A)1.314 (B)4.131 (C)10.314 (D)41.301

4Observe os ábacos e registre os numerais representados.

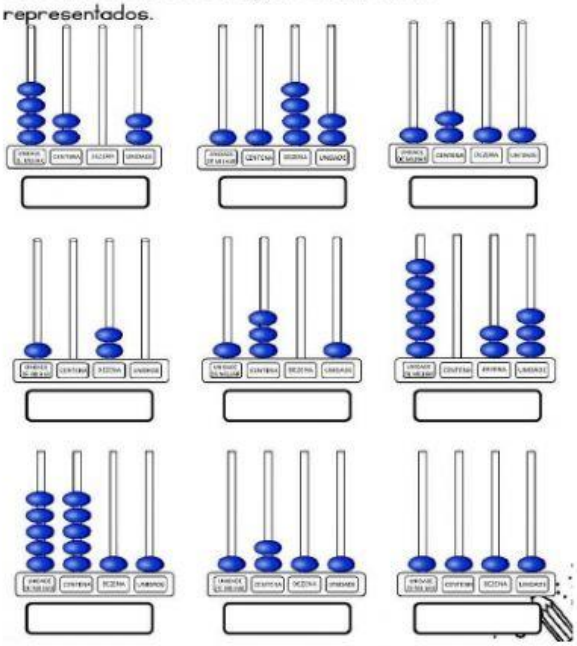

5º)Que número está representado em cada ábaco?

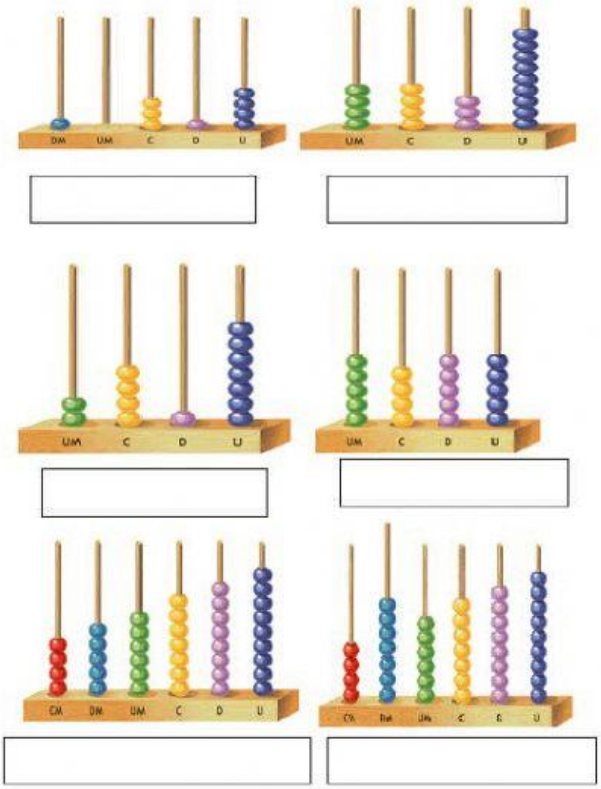

6º)Mário representou alguns números nos ábacos.

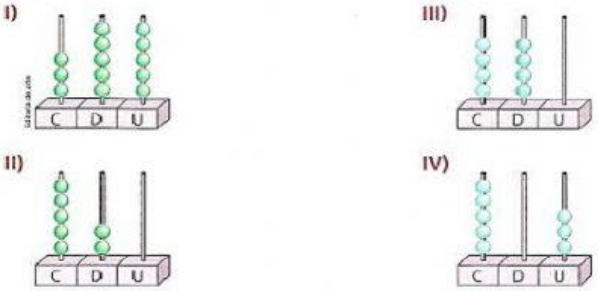

a)Qual é o número representado em cada ábaco?

_____ _____ _____ _____

b)Qual deles é o maior?

_____

c)Qual é o menor?

_____

LIVEWORKSHEETS