BELAJAR MEMBUAT SOAL DI LIVE WORKSHEET
(BELAJAR MATEMATIKA)

1 Pilihan Ganda

select

Berikut ini yang termasuk gambar balok adalah ....

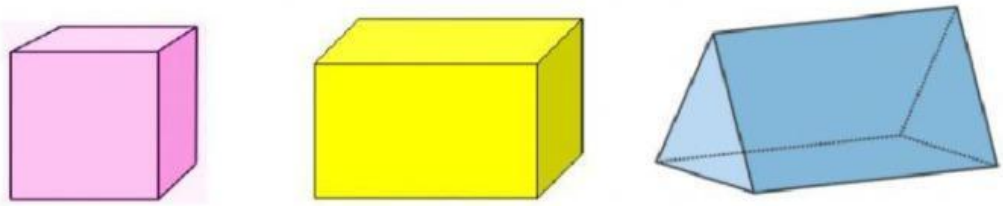

2 Isian singkat/essai

teksfieled

Nama bangun di samping adalah .....

Jelaskan apa yang kamu ketahui tentang gambar di samping!

3 Drop Down

Pilihan jawaban banyak
Siswa disuruh memiih satu

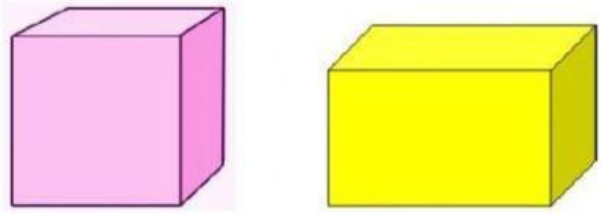

Pilihan Jawaban

Pilihan Jawaban

LIVEWORKSHEETS

LIVEWORKSHEETS

4 Check Box

Pilih salh satu …dg centang

Berikut ini yang merupakan gambar bangun ruang adalah .....

- Lingkaran
- Kerucut
- Balok
- Persegi

5 Join Arrow

Tetp pakai join pertanyaan dan Jawaban diberi nomor sama

Jodohkan antara gambar dan nama bangun dengan cara menarik garis penghubung!

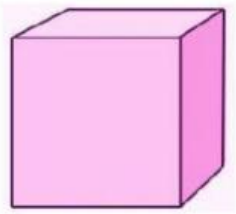

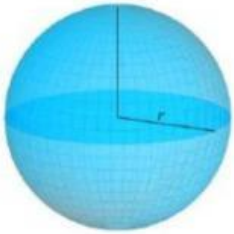

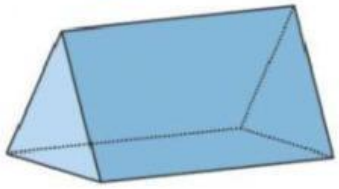

- Prisma
- Kerucut
- Bola
- Kubus

LIVEWORKSHEETS

LIVEWORKSHEETS

6 Drag and Drop

Jawaban kita drag
Pertanyaannya kita drop

Tarik gambar berikut ke dalam kotak yang sesuai!

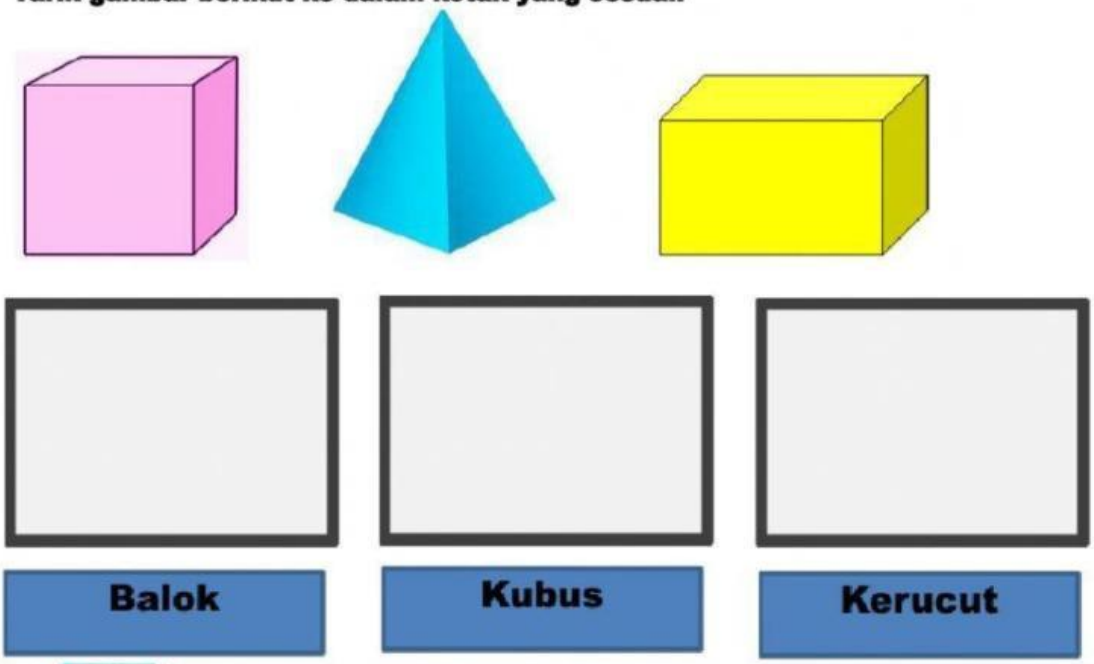

7 Listening

Pertanyaan deng listening
Jawaban menggunakan teksfiled

Dengarkan suaranya, dan pilih benar atau salah!

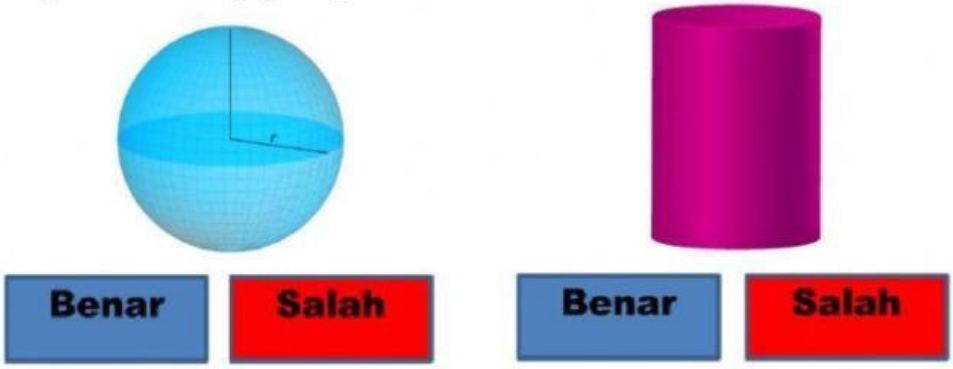

LIVEWORKSHEETS

LIVEWORKSHEETS

8 Speaking

Rekam jawaban dg mengubah bahasa indonesia

Rekam suaramu untuk menyebutkan nama bangun berikut dengan cara menekan tombol rekam!

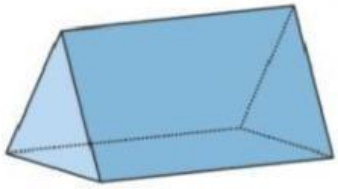

9 Word Search

Carilah jawaban yg ada…
diblok semu, terus centang jawaban yg ada

Carilah nama-nama bangun ruang!

A	B	A	L	I	N	G	U
T	A	P	U	T	R	R	O
P	L	P	R	I	S	M	A
B	O	C	D	K	E	F	G
L	K	E	R	U	C	U	T
O	O	T	A	B	U	N	G
K	L	U	I	U	J	I	H
L	I	M	A	S	K	U	I

LIVEWORKSHEETS

LIVEWORKSHEETS

LIVEWORKSHEETS

LIVEWORKSHEETS