ชื่อ-สกุล.....เลขที่.....ห้อง.....

คำชี้แจ้ง:ให้นักเรียนบอกลักษณะรูปทรงเรขาคณิต

1. 

2. 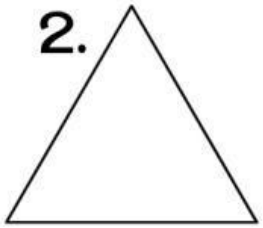

3. 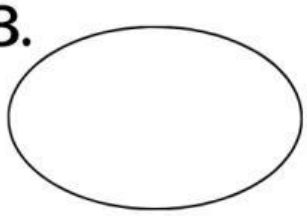

....

คำชี้แจ้ง:ให้จับคู่รูปภาพสีให้ถูกต้อง

1. ●

2. ●

3. ●

● สีชมพู

● สีเขียว

● สีแดง

คำชี้แจง:จงเลือกสีตามภาพให้ถูกต้อง

☐ สีเขียว ☐ สีส้ม ☐ สีแดง

LIVEWORKSHEETS