UNIDADES DE MEDIDA

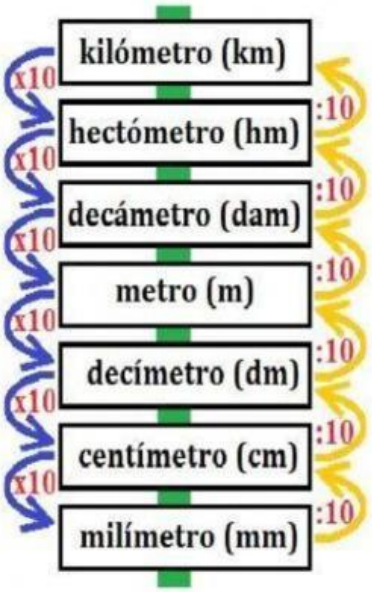

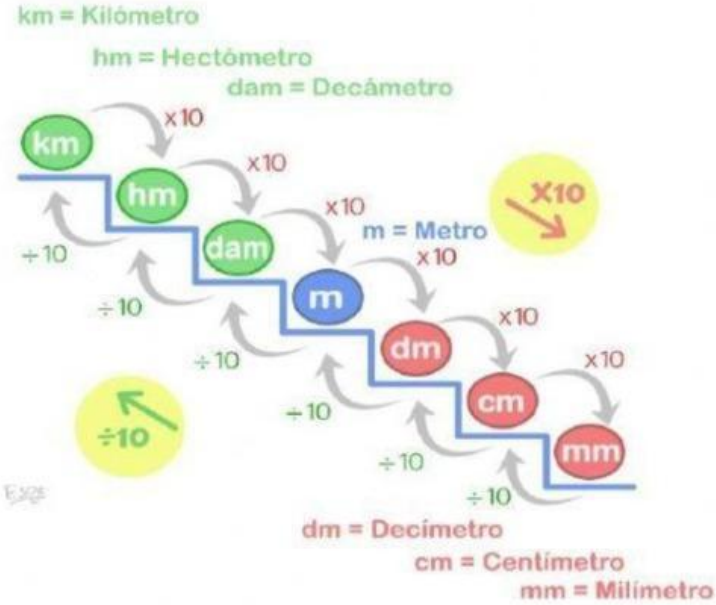

Completa

- ☐ 2 m= cm
- ☐ 4 m= cm
- ☐ 20 m= cm
- ☐ 70 m= cm
- ☐ 58 m= cm
- ☐ 63 m= cm

Expresa cada medida en centímetros

EJEMPLO

2 m y 38 cm= 200 cm + 38 cm = 238 cm

- ☐ 2 m y 24 cm = cm + cm = cm
- ☐ 3 m y 35 cm = cm + cm = cm
- ☐ 4 m y 47 cm = cm + cm = cm
- ☐ 5 m y 51 cm = cm + cm = cm
- ☐ 6 m y 3 cm = cm + cm = cm
- ☐ 7 m y 80 cm = cm + cm = cm
- ☐ 8 m y 1 cm = cm + cm = cm
- ☐ 9 m y 90 cm = cm + cm = cm

LIVEWORKSHEETS

Expresa en metros

- ☐ 4 km = m
- ☐ 5 km = m
- ☐ 3 km y 5 m= m + m = m
- ☐ 5 km y 46 m= m + m = m
- ☐ 3 km y 5 m= m + m = m
- ☐ 7 km y 59 m= m + m = m
- ☐ 9 km y 186 m= m + m = m
- ☐ 65 km= m
- ☐ 73 km = m

Completa estas equivalencias de longitud.

- 4 m = ____ cm
- 7 cm = ____ mm

- 5 m y 3 cm = ____ cm
- 6 cm y 2 mm = ____ mm

Completa los huecos.



- 800 cm = ____ m
- 2.000 m = ____ km
- 723 cm = ____ m y ____ cm
- 6.514 m = ____ km y ____ m

Expresa en metros.

- 9 km = ____ m
- 5 km= ____ m
- 6 km y 234 m = ____ m
- 7 km y 3 m = ____ m

Completa las frases

- La unidad principal de longitud es el ____
- Su símbolo es ____

- Un **kilómetro** son ____ metros.
- El símbolo del kilómetro es ____

LIVEWORKSHEETS