แบบฝึกหัดที่ 2
เรื่อง หมู่ฟังก์ชัน

ชื่อ.....เลขที่.....

<u>จงโยงจับคู่สูตรโครงสร้างและประเภทของสารประกอบให้ถูกต้อง</u>

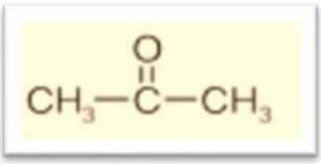

แอลกอฮอล์

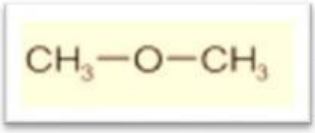

เอไมด์

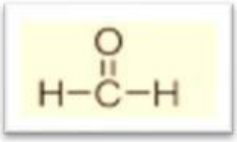

ฟีนอล

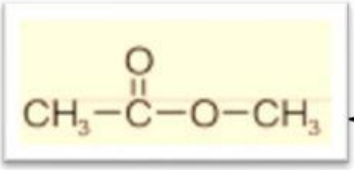

อีเทอร์

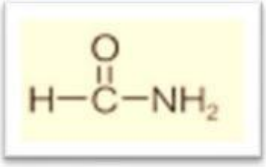

เอสเทอร์

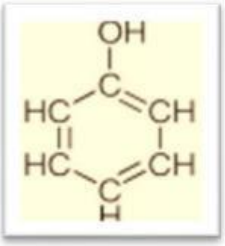

แอลดีไฮด์

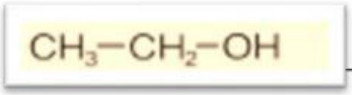

คีโตน

LIVEWORKSHEETS