Bahagian A

[60 *markah*]

1 Format-format fail grafik berikut digunakan dalam penghasilan grafik.

.png	.gif	.pdf	.tiff

Tuliskan padanan yang **betul** bagi format fail itu dengan terminologi berikut di dalam ruang jawapan.

Terminologi	Ruang Jawapan
Portable Document Format	
Tagged Image File Format	
Graphics Interchange Format	
Portable Network Graphics	

[4 *markah*]

LIVEWORKSHEETS

3 Tema-tema fotografi berikut digunakan dalam penghasilan sesebuah karya fotografi.

Binaan	Potret	Makro	*Silhouette*

Tuliskan padanan yang **betul** bagi tema fotografi itu dengan hasil karya fotografi berikut di dalam ruang jawapan.

Hasil Karya Fotografi	**Ruang Jawapan**
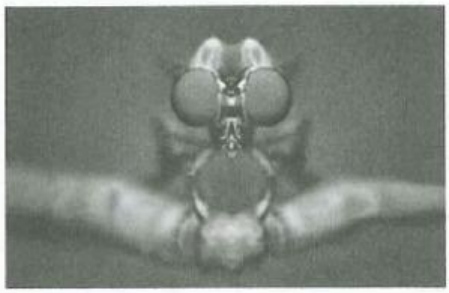	

[4 markah]

LIVEWORKSHEETS

2 Rajah 1 ialah reka letak sebuah majalah percutian di Pulau Langkawi. Labelkan elemen reka letak berikut di dalam ruang yang disediakan.

Rancang Percutian Menarik

[ ]

arca burung helang ni? Anda wajib patah balik!

emerahan, manakala 'lang' ula adalah daripada perkataan 'helang', maka, Langkawi sebenarnya bermaksud burung

peluang untuk bergambar berlatar belakangkan arca ini dan untuk singgah ke Dataran Lang ini kerana dari sini anda juga dapat menyaksi-

[ ]

Di antara tempat-tempat menarik di Pulau Langkawi

Laluan di dalam hutan rimba Gunung Mat Cincang yang disediakan sepanjang perjalanan ke kawasan air terjun juga cukup mesra pengunjung, lengkap dengan beberapa buah gazebo yang boleh anda singgahi untuk merehatkan badan dan menghirup kesegaran oksigen yang ditawarkan.

[ ]

mercu tanda terpenting di Langkawi. Mesti anda tertanya-tanyakan, apa sebenarnya kaitan burung helang dengan Langkawi?"

Berdasarkan bahasa Melayu klasik, 'kawi' bermaksud perang yang

g yang berwarna perang rahan. Namun ada juga yang mengatakan bahawa Langkawi ini adalah gabungan dua perkataan Sanskrit iaitu 'langka' dan juga 'wi' yang membawa maksud 'keindahan' dan 'tidak terkira'.

Walau apa pun maksud sebenar, anda tidak patut melepaskan

Sebagai peringatan, Air Terjun Temurun adalah sebuah tarikan yang mengikut musim yang mana anda dapat menikmati curahan air yang banyak hanya ketika musim hujan iaitu dari bulan September - Oktober.

Rajah 1

[3 *markah*]

LIVEWORKSHEETS

4 Jadual 1 menunjukkan padanan nama *tool* dan fungsi *tool* dalam perisian Adobe Photoshop.

Tandakan (✓) bagi padanan yang **betul** dan (×) bagi yang **tidak berkaitan** di dalam ruang jawapan.

Nama *Tool*	**Fungsi *Tool***	**Ruang Jawapan**
Navigation Tool	Digunakan untuk mengubah suai semula objek	
Drawing Tool	Digunakan untuk pengukuran dan susun atur lukisan	
Painting Bucket Tool	Digunakan untuk meletak warna pada objek yang dilukis	
Selection Tool	Digunakan untuk memilih objek tunggal atau sebahagian objek dalam imej	
Pencil Tool	Digunakan untuk membuat teks dan mempunyai banyak ketetapan untuk mengawal sifat teks	

Jadual 1

[5 *markah*]

LIVEWORKSHEETS

5 **P**, **Q**, **R** dan **S** ialah bentuk pengiklanan yang digunakan untuk mengiklankan sesuatu produk atau perkhidmatan.

P

Q

R

S

Nyatakan bentuk pengiklanan bagi:

P : .....

Q : .....

R : .....

S : .....

[4 markah]

LIVEWORKSHEETS

6 Bahan-bahan berikut digunakan untuk pembungkusan barangan.

Tin keluli	Plastik keras
Foil aluminium	Kaca
Plastik fleksibel	Kotak salutan (*tetra pack*)
Kotak kertas	*Styrofoam*

Pilih dan tuliskan **empat** bahan yang sesuai untuk pembungkusan barangan cecair.

(i) .....

(ii) .....

(iii) .....

(iv) .....

[4 *markah*]

7 Sebahagian daripada maklumat berikut perlu ada pada label pembungkusan sesuatu produk.

Tuliskan **BENAR** bagi maklumat yang **betul** dan **PALSU** bagi yang **tidak berkaitan** di dalam ruang jawapan.

Maklumat	**Ruang Jawapan**
Mempunyai nama produk	
Mempunyai kuantiti produk yang dikeluarkan	
Mempunyai senarai pembekal produk	
Mempunyai tarikh pengeluaran dan tarikh luput produk	

[4 *markah*]

LIVEWORKSHEETS

8 Karya-karya penerbitan meja berikut dihasilkan melalui gabungan penggunaan teks, ilustrasi, simbol dan warna.



Poster

Majalah

Simbol

Risalah

Brosur

e-Jurnal

Pilih dan tuliskan **empat** karya penerbitan meja bagi media cetak.

(i) .....

(ii) .....

(iii) .....

(iv) .....

[4 *markah*]

LIVEWORKSHEETS

9 Perkara-perkara berikut perlu ada dalam kertas cadangan Projek Pameran Kreatif.

Objektif	Jadual masa	Sasaran pengguna	Anggaran kos	Kesimpulan

Tuliskan padanan yang **betul** bagi perkara itu dengan penyataan berikut di dalam ruang jawapan.

Penyataan	**Ruang Jawapan**
Semua murid di bawah panitia reka bentuk	
Membuka minda berfikir secara kreatif	
Projek pameran ini dijalankan selama seminggu	
Projek pameran ini diharap akan dapat mencapai matlamat projek	
Peruntukan kewangan mata pelajaran dan sumbangan individu	

[5 *markah*]

LIVEWORKSHEETS

10 **A**, **B**, **C**, **D** dan **E** ialah proses menghasilkan reka letak yang tidak mengikut urutan.

Proses	
A	Lakaran komprehensif
B	Lakaran kecil (*Thumbnail*)
C	Produk akhir
D	Lakaran kasar
E	Kajian lapangan

Susun proses menghasilkan reka letak itu mengikut urutan yang **betul** dengan menulis **A**, **B**, **C**, **D** dan **E** di dalam ruang jawapan.

Ruang Jawapan

Proses 1	Proses 2	Proses 3	Proses 4	Proses 5

[5 *markah*]

LIVEWORKSHEETS

11 Rajah 2 ialah hasil akhir reka bentuk grafik yang dihasilkan menggunakan perisian Adobe Photoshop.



Rajah 2

Penyataan-penyataan berikut ialah langkah kerja untuk memasukkan teks ke dalam reka bentuk grafik itu yang tidak mengikut urutan.

Langkah Kerja
Tetapkan jenis, saiz dan warna teks
Klik menu *File* > *Save As* dan namakan fail
Pilih *Horizontal Type Tool* (T)
Klik pada paparan, taip teks 'Buah Epal'
Tetapkan kedudukan menggunakan *move tool*

LIVEWORKSHEETS

Berdasarkan Rajah 2 dan penyataan langkah kerja, lengkapkan carta alir memasukkan teks ke dalam reka bentuk grafik mengikut urutan yang **betul** di dalam ruang yang disediakan.

.....
↓
.....
↓
.....
↓
.....
↓
.....
↓
Klik butang *Save*

[5 *markah*]

LIVEWORKSHEETS

12 Rajah 3(*a*) ialah objek yang dilukis menggunakan *tool* dalam perisian Macromedia FreeHand dan Rajah 3(*b*) ialah logo identiti korporat hasil suntingan menggunakan fitur gabungan daripada Rajah 3(*a*).



Rajah 3(*a*)

Rajah 3(*b*)

Berdasarkan Rajah 3(*a*) dan Rajah 3(*b*), lengkapkan carta alir menghasilkan logo identiti korporat berikut mengikut urutan yang **betul** di dalam ruang yang disediakan.

Lukis epal dan bulatan

↓

.....

↓

.....

↓

.....

↓

Klik butang *Save*

[3 *markah*]

LIVEWORKSHEETS

13 **A**, **B**, **C**, **D** dan **E** ialah penyataan langkah kerja menghasilkan mekap contoh karya penerbitan atas meja yang tidak mengikut urutan.

Langkah Kerja	
A	Menentukan skema warna
B	Menetapkan jenis produk
C	Menghasilkan lakaran reka letak
D	Menetapkan cara lipatan
E	Menghasilkan mekap contoh

Susun langkah kerja itu mengikut urutan yang **betul** dengan menulis **A**, **B**, **C** dan **D** di dalam ruang jawapan.

Langkah 5 diberi.

Ruang Jawapan

Langkah 1	Langkah 2	Langkah 3	Langkah 4	Langkah 5
				E

[4 *markah*]

LIVEWORKSHEETS

14 Rajah 4 mempunyai ciri-ciri tertentu yang telah diaplikasikan semasa proses merakam foto itu.

Rajah 4

Berdasarkan Rajah 4 dan ciri-ciri itu, nyatakan tetapan bagi aspek-aspek berikut di dalam ruang jawapan.

Aspek	**Ruang Jawapan**
Aperture	
Shutter Speed	
ISO	

[3 *markah*]

LIVEWORKSHEETS

15 **A**, **B**, **C** dan **D** ialah beberapa contoh muka taip jenis dekoratif dan skrip.

A	MUKA TAIP
B	MUKA TAIP
C	MUKA TAIP
D	MUKA TAIP

Kelaskan contoh muka taip itu mengikut jenis yang **betul** dengan menulis **A**, **B** dan **C** di dalam ruang yang disediakan.

Dekoratif	**Skrip**
	D

[3 *markah*]

LIVEWORKSHEETS