APLICO LO APRENDIDO

Ejemplo: Dados los conjuntos, hallar la **intersección:**

B={e, m, j, k, o} E={a, n, k, o, l, u}

B∩E= { }

1. Observar los conjuntos. Luego, completar cada conjunto con su **intersección.**

A={ gato, tigre, libélula} **B**={zancudo, mosca, libélula} **C**={perro, gato, mosca}

- A∩B= { _____}
- B∩C= { _____}
- C∩A= {_____}

2. Identificar la intersección en cada conjunto.

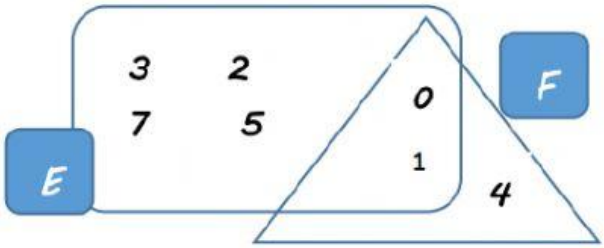

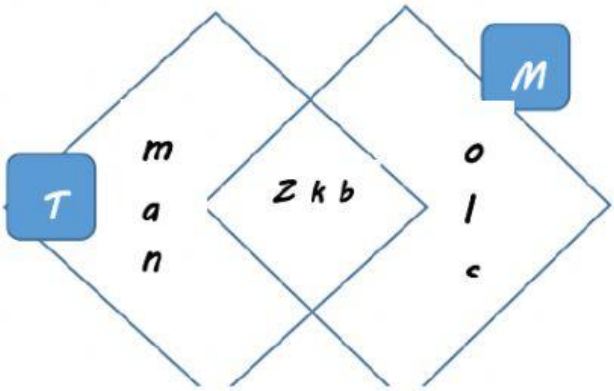

E∩F= { _____}

T∩M= { _____}

3. Completa el gráfico de intersección, escribiendo los elementos de cada conjunto.

C = {0; 1; 2; 3; 4; 5}
D = {0; 2; 4}

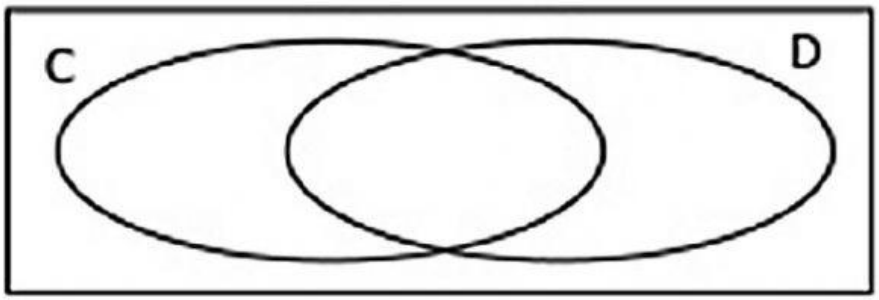

G = {1; 3; 5; 7; 9}
H = {2; 4; 5; 6; 8}

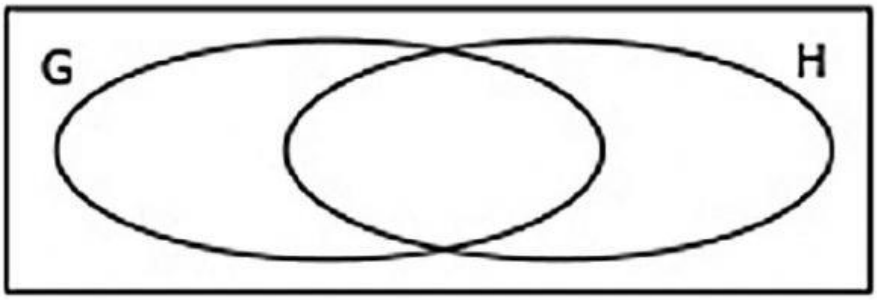

LIVEWORKSHEETS