الاسم:

(١-٤) حل المعادلات التي تحوي متغيرًا في طرفيها

١/ حل المعادلة: ١٣ س + ٢ = ٤ س + ٣٨

أ) س = ٣ ب) س = ٤ ج) س = ٥ د) س = ٦

٢/ حل المعادلة: ٢ ك + ١٢ = ٨ ك

أ) ك = ٢ ب) ك = ٤ ج) ك = ٥ د) ك = ٦

٣/ حل المعادلة: ٨ل + ٣ = ٥ل + ٩

أ) ل = ٢ ب) ل = ٣ ج) ل = ٦ د) ل = ٩

٤/ حل المعادلة: ٣ ص – ٢ = ٤ ص

أ) ص = ١ ب) ص = -١ ج) ص = ٢ د) ص = -٢

٥/ حل المعادلة: ٥ (ع – ١) = ٤٠ - ١٠ ع

أ) ع = ٢ ب) ع = ٣ ج) ع = ٤ د) ع = ٥

٦/ حل المعادلة: ٤ (م + ٣) = -٣ ($\frac{2}{3}$ + م)

أ) م = -٢ ب) م = ٢ ج) م = -٣ د) م = ٣

٧/ أوجدي قيمة ع التي تجعل مساحتي الشكلين الآتيين متساويتين:

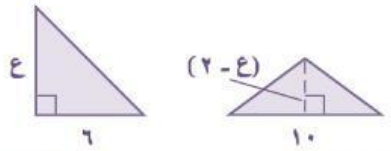

أ) ع = ١ ب) ع = ٢ ج) ع = ٤ د) ع = ٥

٨/ أوجدي قيمة س التي تجعل محيطي الشكلين الآتيين متساويتين:

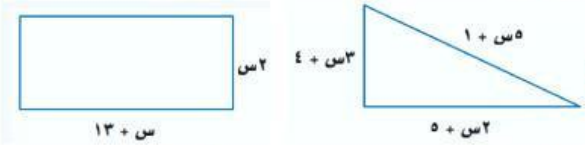

أ) س = ٤ ب) س = ٥ ج) س = ٦ د) س = ٧

٩/ أوجدي قيمة س التي تجعل محيطي الشكلين الآتيين متساويتين:

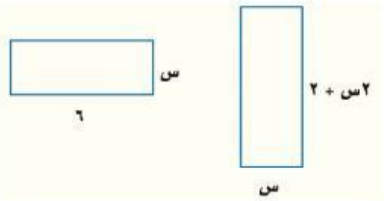

أ) س = ١,٥ ب) س = ٢ ج) س = ٣,٢ د) س = ٤

١٠/ أوجدي قيمة س التي تجعل محيطي الشكلين الآتيين متساويتين:

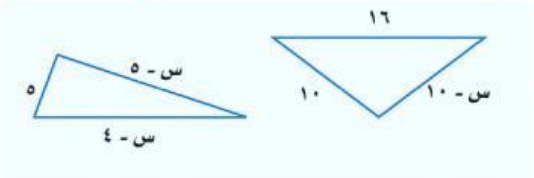

أ) س = ١٠ ب) س = ١٥ ج) س = ٢٠ د) س = ٢٥

الأشخاص العظماء هم أشخاص عاديون طوروا من قدراتهم ومجهوداتهم . .

أمنياتي لك بالتفوق الباهر

معلمتك المحبة/د . إيمان التركي

LIVEWORKSHEETS