NAMA :

KELAS :

TRANSLASI

Tulis komponen translasi yang menggeser segitiga ABC ke bayangannya yaitu segitiga A'B'C '

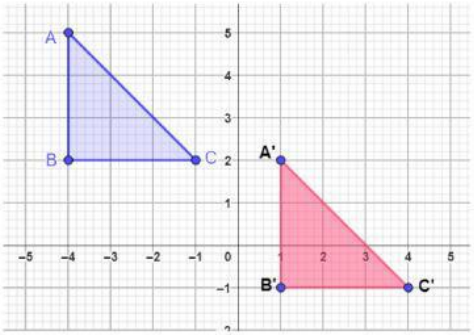

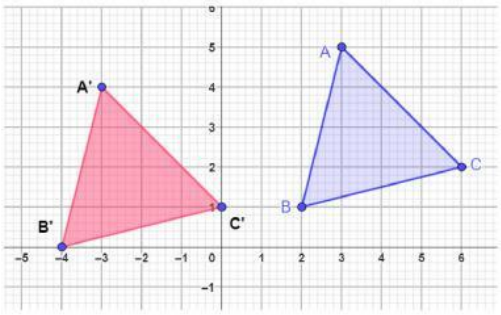

(,) **(,)**

Tentukan koordinat bayangan segitiga ABC pada gambar di bawah ini jika ditranslasi dengan komponen translasi (4,-2).

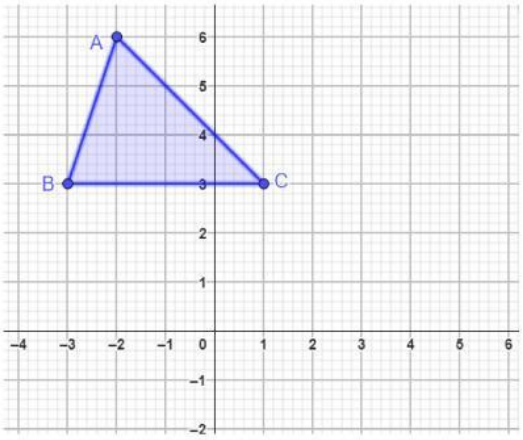

A' (,)

B' (,)

C' (,)

LIVEWORKSHEETS