| บทที่ 3 ปริซึมและทรงกระบอก | ใบงาน พื้นที่ผิวของปริซึม (2) | คะแนน |
|---|---|---|
| สาระที่ 2 การวัดและเรขาคณิต<br>มาตรฐาน ค 2.1 ม.2/1 | ชื่อ.....ชั้น.....เลขที่..... | |

**คำชี้แจง** จากรูปที่กำหนดให้ต่อไปนี้ ลากคำตอบเติมลงในช่องว่างให้ถูกต้อง

| | | | | |
|---|---|---|---|---|
| 750 | 180 | 12 | 286 | 275 |
| 203 | 126 | 465 | 96 | 160 |
| 180 | 108 | 570 | 636 | 72 |

| ข้อ | รูปปริซึม | พื้นที่ของฐาน ทั้งสอง(ตารางหน่วย) | พื้นที่ของด้านข้าง (ตารางหน่วย) | พื้นที่ผิวของปริซึม (ตารางหน่วย) |
|---|---|---|---|---|
| 1 | 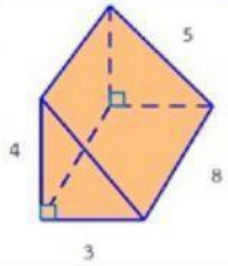 | | | |
| 2 | 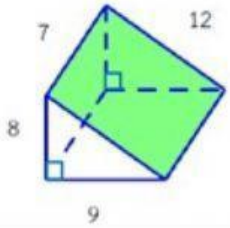 | | | |
| 3 | 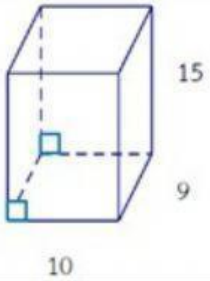 | | | |
| 4 | 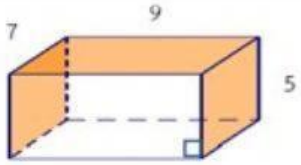 | | | |
| 5 | 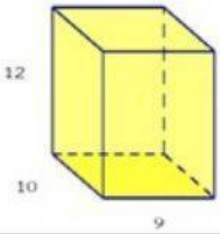 | | | |

LIVEWORKSHEETS