ชื่อ ..... ชั้น..... เลขที่ .....

1. จงเติม มุมแย้ง และมุมภายในที่อยู่บนข้างเดียวกันของเส้นตัดให้ถูกต้อง

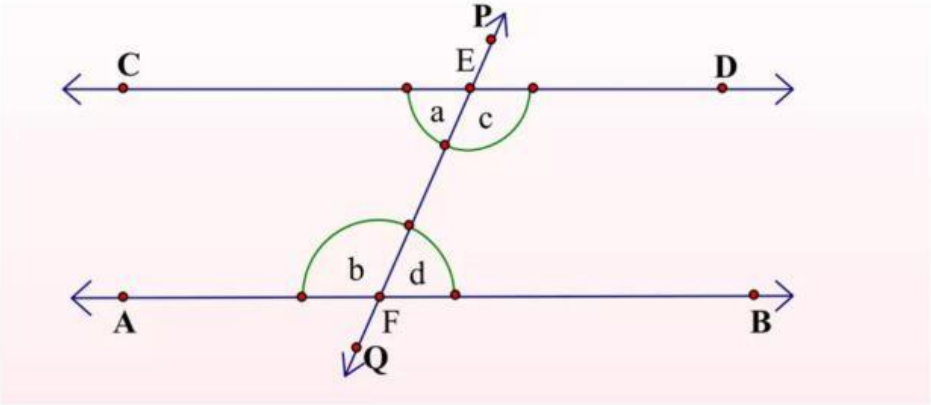

มุมแย้ง คือ .....

มุมภายในที่อยู่ข้างเดียวกัน คือ .....

มุมภายใน คือ.....

2. จงเติมเส้นตรงสองเส้นขนานกันหรือไม่

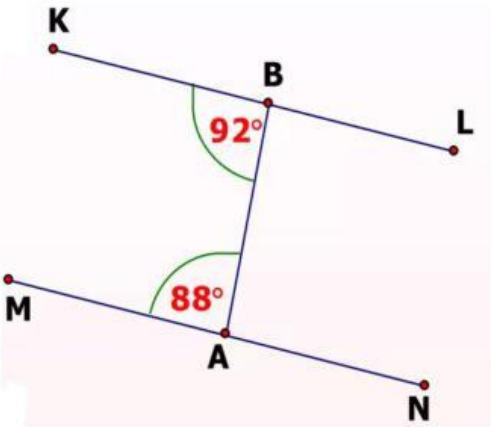

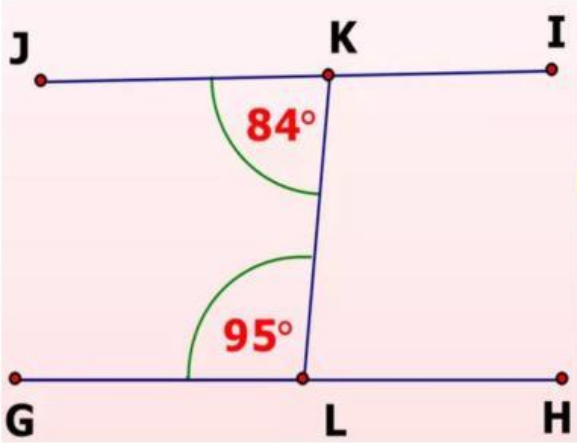

ตอบ _____ ตอบ _____

LIVEWORKSHEETS