ใบงานที่ 3.7 แผนภาพการกระจาย

คำชี้แจง

1. ให้นักเรียนทำใบงานที่ 3.7 แผนภาพการกระจาย ให้แล้วเสร็จ โดยใช้เวลาไม่เกิน 10 นาที
2. เมื่อนักเรียนทำแบบทดสอบเสร็จแล้วให้นักเรียนกดปุ่ม Finish! เพื่อตรวจคำตอบ

16. ร้านขายผลไม้แห่งหนึ่งได้บันทึกยอดขายส้มกับราคาขายต่อกิโลกรัมในหนึ่งสัปดาห์ ได้ผลดังนี้

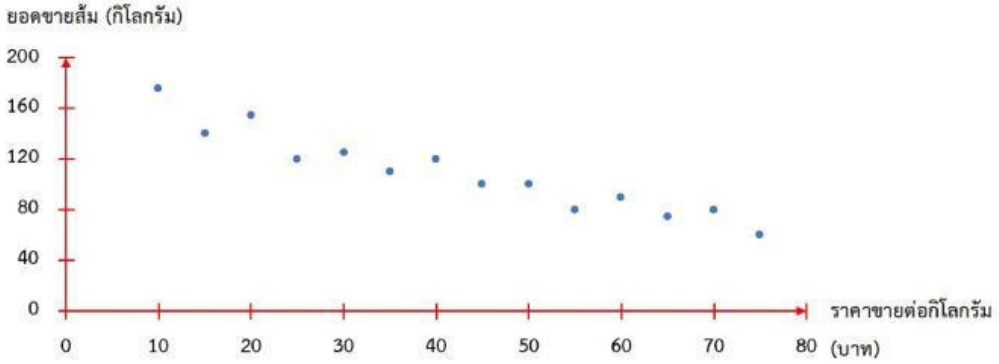

จงพิจารณาว่าราคาขายต่อกิโลกรัมและยอดขายส้มมีความสัมพันธ์กันหรือไม่ อย่างไร

วิธีทำ จากแผนภาพการกระจายจะเห็นว่า

เมื่อราคาขายต่อกิโลกรัมมากขึ้น _____ จะมีแนวโน้ม _____

ดังนั้น จึงกล่าวได้ว่าราคาขายต่อกิโลกรัมและยอดขายส้มมีความสัมพันธ์ในทิศทาง _____

16. รายได้ต่อปีและอายุแสดงด้วยแผนภาพการกระจายได้ดังนี้

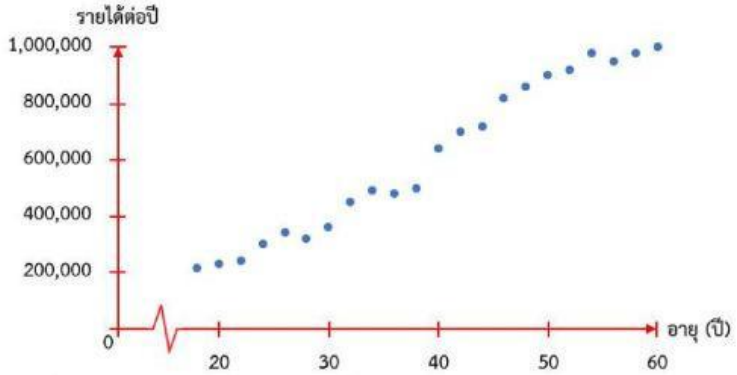

จงพิจารณาว่าอายุและรายได้ต่อปีมีความสัมพันธ์กันหรือไม่ อย่างไร

วิธีทำ จากแผนภาพการกระจายจะเห็นว่า

เมื่ออายุมากขึ้น _____ จะมีแนวโน้ม _____

ดังนั้น จึงกล่าวได้ว่าอายุและรายได้ต่อปีมีความสัมพันธ์ในทิศทาง _____

LIVEWORKSHEETS

17. มูลค่าขายต่อของรถยนต์และอายุของรถยนต์แสดงด้วยแผนภาพการกระจายได้ดังนี้

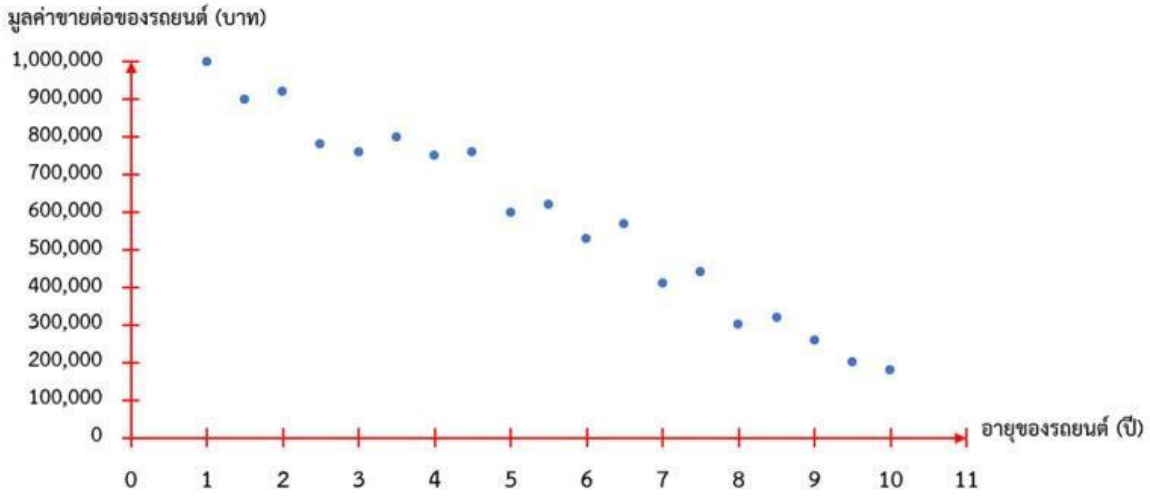

จงพิจารณาว่าอายุของรถยนต์และมูลค่าขายต่อของรถยนต์มีความสัมพันธ์กันหรือไม่ อย่างไร

วิธีทำ จากแผนภาพการกระจายจะเห็นว่า

เมื่ออายุของรถยนต์มากขึ้น _____ จะมีแนวโน้ม _____

ดังนั้น จึงกล่าวได้ว่าอายุของรถยนต์และมูลค่าขายต่อของรถยนต์มีความสัมพันธ์ในทิศทาง _____

18. ครูได้ทำการสำรวจส่วนสูงและจำนวนตัวอักษรในชื่อของนักเรียนห้องหนึ่งแสดงด้วยแผนภาพการกระจายได้ดังนี้

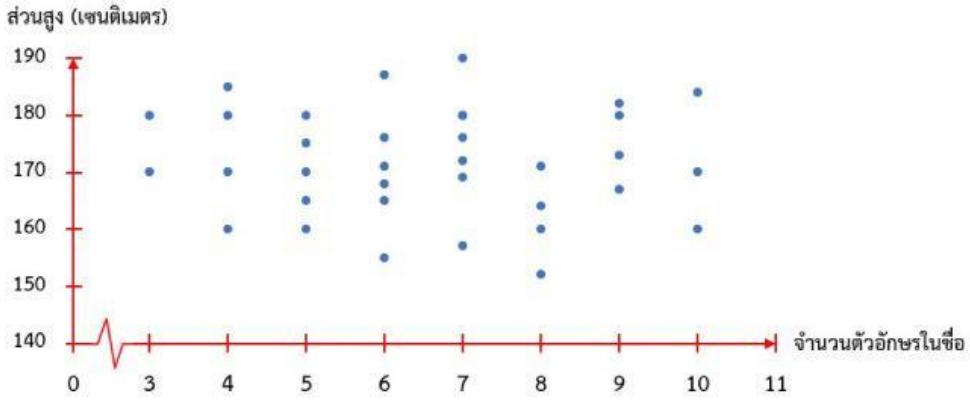

จงพิจารณาว่าจำนวนตัวอักษรในชื่อและส่วนสูงมีความสัมพันธ์กันหรือไม่ อย่างไร

วิธีทำ จากแผนภาพการกระจายจะเห็นว่า

เมื่อจำนวนตัวอักษรในชื่อเพิ่มขึ้น _____ จะมีแนวโน้ม _____

ดังนั้น จึงกล่าวได้ว่าจำนวนตัวอักษรในชื่อและส่วนสูงมีความสัมพันธ์ในทิศทาง _____

LIVEWORKSHEETS