Lembar Kerja Peserta Didik

LKPD

MATEMATIKA

Satuan Pendidikan : SD
Mata Pelajaran : Matematika
Kelas/Semester : 2/1
Materi : Penjumlahan
Sub Materi : Penjumlahan Menggunakan Sahabat 10
Alokasi Waktu : 4x30 menit

Tujuan Pembelajaran:
Peserta didik dapat mengaitkan operasi hitung penjumlahan dalam kehidupan sehari-hari

Nama : _____

Kelas : _____

LIVEWORKSHEETS

Ayo Menghitung !

Nama: _____

Kelas: _____

Zia membawa 7 bungkus permen. Rea membawa 6 bungkus permen. Berapa jumlah semua permen yang dibawa Zia dan Rea?

cara I: 7+... =10+...=13

cara II: ...+...+6 =13

Ayah dan Paman pergi memancing. Ayah mendapatkan 8 ikan. Paman mendapat 5 ikan. Berapa jumlah ikan yang di dapatkan Ayah & Paman?

cara I: 8+...=10+...=13

cara II: ...+...+5=13

LIVEWORKSHEETS

Nama: Kelas:

AYO BERHITUNG

Jumlahkan sayuran dan isilah kolom pada setiap kotak di bawah ini dengan benar!



+



=





=

+



=

LIVEWORKSHEETS

Nama: _____ Kelas: _____

pasanglah dengan tepat !

7 + 5	22
10 + 3	17
12+10	12
11 + 6	11
8 + 3	24
9 + 5	14
14+10	13

LIVEWORKSHEETS

Isilah titik-titik dibawah ini sehingga menghasilkan jawaban yang benar !

Nama : _____ Kelas : _____

7	+	...	=	12	+	5	=	...	+	2
		+				+				+
3	+	7	=	...		6	+	...	=	13
		=				=		+		=
8	+	...	=	...		11		...		15
+								=		
7	+	3	=	...		...	+	14	=	20
=		+				+				+
...		7				6				...
		=				=				=
		...	+	2	=	...				25

LIVEWORKSHEETS