ประชาชนทั่วไป ชุดที่ 2

ให้ท่านเติมคำตอบลงในช่องว่าง
พร้อมทั้งระบายสีภาพตามรหัสสีที่กำหนดให้ถูกต้อง

A. ถ้า A + B = 21 , A – B = 7 ถ้า A = 14 แล้ว B = ☐

B. $X^2 - 90 = 10$ แล้ว X = ☐

C. $[(2^2 + 3^2) - 5]$ = ☐

D. 4,800 ตารางวา เท่ากับ ☐ ไร่

E. 13579 97531 13579 9753 ☐ 13579

F. 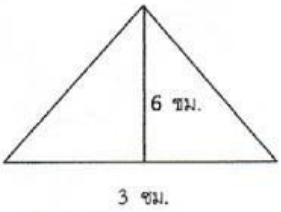

จากรูป สามเหลี่ยมนี้มีพื้นที่เท่ากับ ☐ ตารางเซนติเมตร

G. 10, ☐ , 13, 16, 20 ควรเติมเลขใดลงในช่องว่าง

H. 6 เมตรเท่ากับ ☐ วา

ANSWER (คำตอบ)	COLOR (สี)
1	RED (สีแดง)
2	PURPLE (สีม่วง)
3	PINK (สีชมพู)
4	LIGHT BLUE (สีฟ้าอ่อน)
5	YELLOW (สีเหลือง)
6	GREEN (สีเขียว)
7	ORANGE (สีส้ม)
8	YELLOW GREEN (สีเขียวอ่อน)
9	BLUE (สีน้ำเงิน)
10	BROWN (สีน้ำตาล)/ NUDE (สีเนื้อ)
11	WHITE (สีขาว)/ GREY (สีเทา)
12	BLACK (สีดำ)

I. Z + X = 12 , Z + 2X = 17 ถ้า Z = 7 แล้ว X เท่ากับ ☐

J. 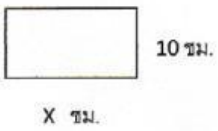

พื้นที่สี่เหลี่ยมผืนผ้ารูปนี้ คือ 160 แล้ว X ÷ 8 = ☐

K. 2,400 ÷ 400 = ☐

L. 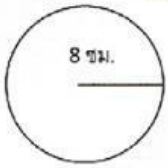

$\frac{1}{2}$ ของวัดมีในวงกลมนี้ คือ ☐

LIVEWORKSHEETS