LATIHAN KOORDINAT 7

Tandakan kedudukan pokok buah-buahan berikut pada satah *Cartes* yang disediakan.

Pokok	Kedudukan
Pokok pisang (P)	(5, 1)
Pokok betik (B)	(6, 3)
Pokok kelapa (K)	(0,7)
Pokok belimbing (M)	(5, 0)

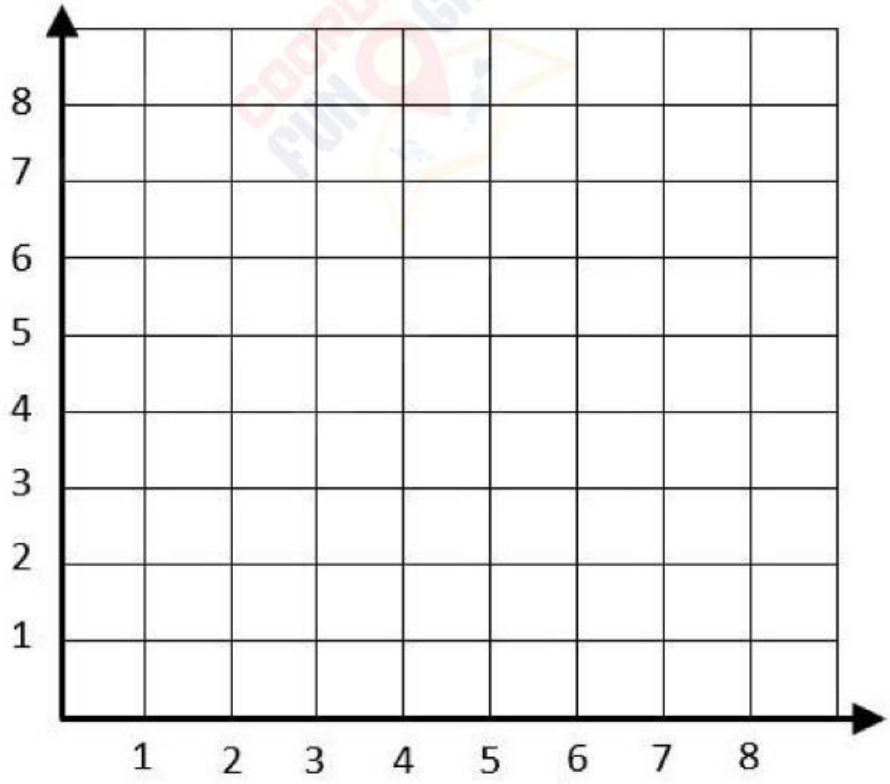

LIVEWORKSHEETS

LATIHAN KOORDINAT 8

Tandakan kedudukan perkakasan pembersihan berikut pada satah *Cartes* yang disediakan.

Perkakasan pembersihan	Kedudukan
Vakum (V)	(6, 2)
Penyapu (P)	(5, 4)
Berus (B)	(0,8)
Mop (M)	(9, 3)

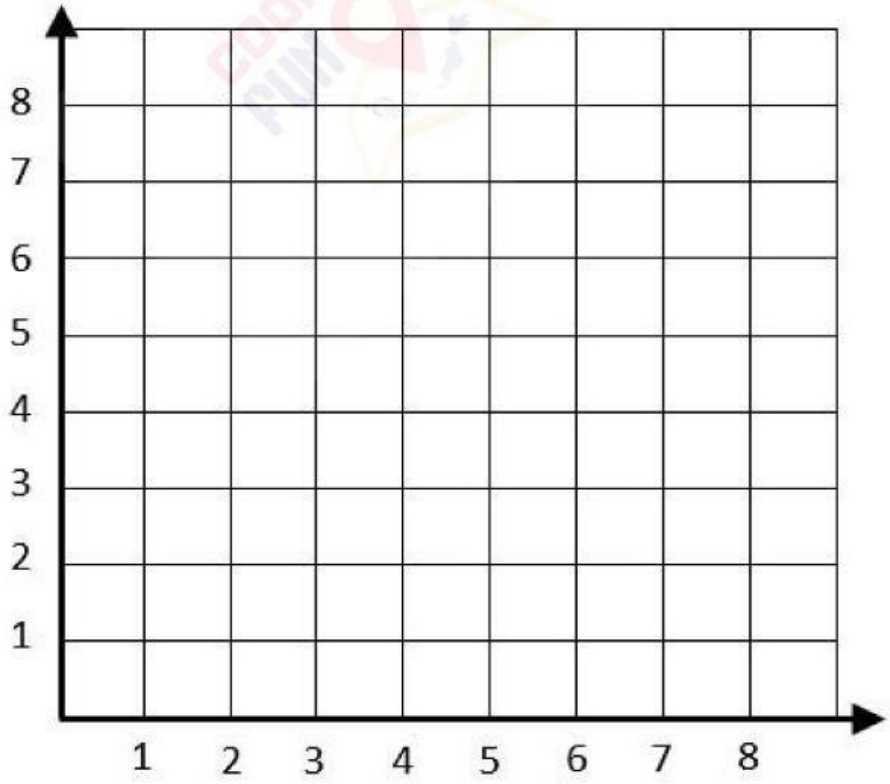

LIVEWORKSHEETS

LATIHAN KOORDINAT 9

Tandakan kedudukan alatan solek yang berikut pada satah *Cartes* yang disediakan.

Alatan solek	Kedudukan
Gincu (G)	(0, 4)
Bedak (B)	(9, 2)
Pemerah pipi (P)	(4,3)
Krim muka (K)	(6, 5)

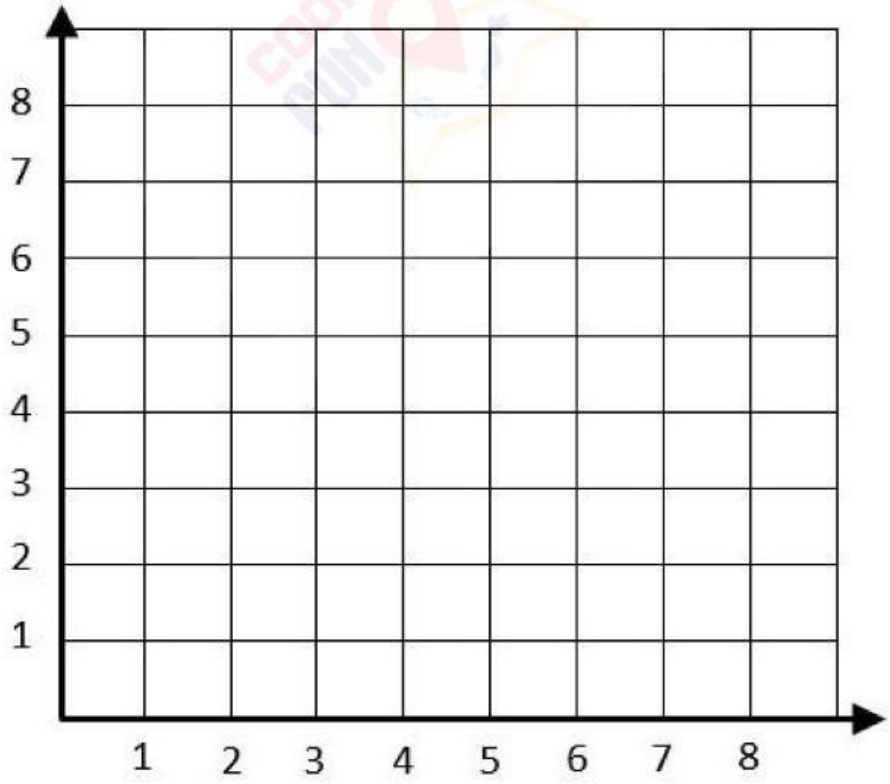

LIVEWORKSHEETS

LATIHAN KOORDINAT 10

Tandakan kedudukan bahan mandian yang berikut pada satah *Cartes* yang disediakan.

Bahan mandian	Kedudukan
Sabun mandi (S)	(6, 0)
Berus gigi (B)	(7, 3)
Syampu rambut (R)	(9,2)
Span badan (B)	(4, 5)

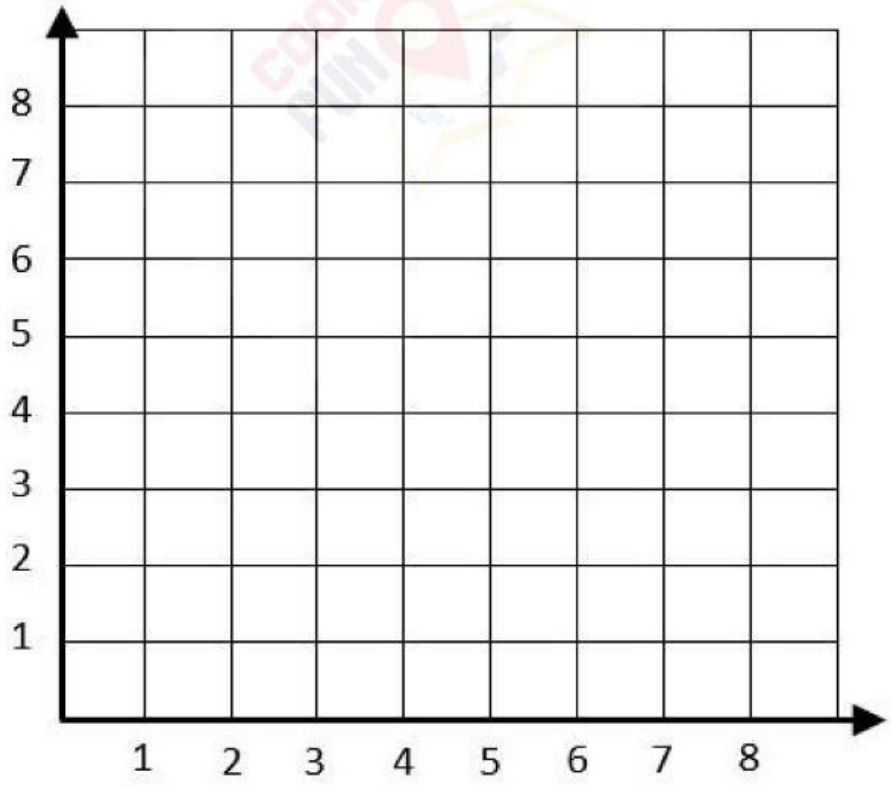

LIVEWORKSHEETS

LATIHAN KOORDINAT 11

Tandakan kedudukan bahan dandanan rambut yang berikut pada satah *Cartes* yang disediakan.

Bahan dandanan rambut	Kedudukan
Serum rambut (R)	(3, 1)
Minyak (M)	(0, 8)
Syampu (S)	(5,3)
Pewarna rambut (P)	(7, 9)

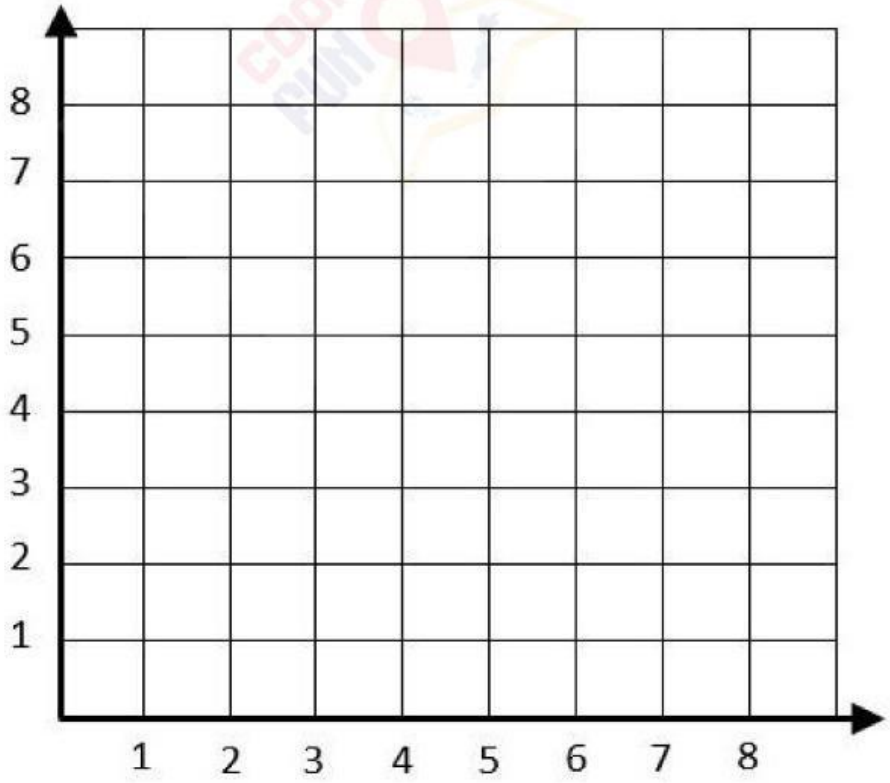

LIVEWORKSHEETS

LATIHAN KOORDINAT 12

Tandakan kedudukan refleksologi yang berikut pada satah *Cartes* yang disediakan.

Refleksologi	Kedudukan
Perut (P)	(2, 1)
Hati (H)	(0, 7)
Jantung (J)	(5,0)
Kaki (K)	(9, 3)

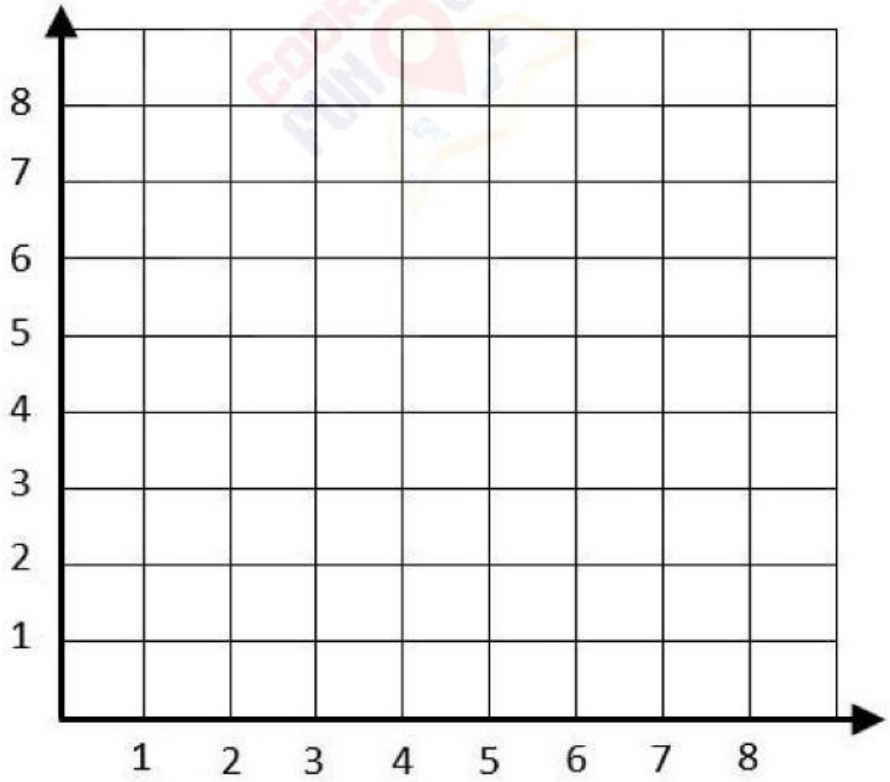

LIVEWORKSHEETS