ชื่อ - นามสกุล : ชั้น : เลขที่ :

การบวก ลบ คูณ หารจำนวนนับ

วิชา คณิตศาสตร์ ชั้นประถมศึกษาปีที่ 4

คำสั่ง : จงแสดงหาวิธีการคูณและการหารต่อไปนี้

1

$$3{,}267 \times 3$$

2

$$7{,}536 \div 6$$

3

$$2{,}390 \div 2$$

4

$$2{,}135 \times 2$$

5

$$9{,}645 \div 5$$

6

$$4{,}018 \times 2$$

LIVEWORKSHEETS

การบวก การลบ จำนวนนับ

คำสั่ง : ให้นักเรียนลากคำตอบที่กำหนดให้ลงวางในช่องให้ถูกต้อง

4,608 1,205 1,884

5,918 2,933 1,704

1. 2564 + 369

2. 2158 - 274

3. 512 × 9

4. 8520 ÷ 5

LIVEWORKSHEETS

จับคู่ให้ถูกต้อง

คำสั่ง : ให้นักเรียนโยงเส้นจับคู่ประโยคสัญลักษณ์กับผลลัพธ์ให้ถูกต้อง

684,657 - 35,4241 = ?	19,569
951,047 - 347,987 = ?	330,416
6,523 × 3 = ?	603,060
2,561 × 5 = ?	12,805
1,256 ÷ 8 = ?	57
513 ÷ 9 = ?	157

LIVEWORKSHEETS

การบวก ลบ คูณหารจำนวนนับ

คำสั่ง : ให้นักเรียนเติมเครื่องหมาย ✓ ลงในช่องว่างให้ถูกต้อง

$4 \times 18 \times 25 \div 9$
มีค่าเท่ากับ 60

◯ จริง
◯ เท็จ

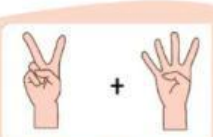

มีค่าเท่ากับ 6

◯ จริง
◯ เท็จ

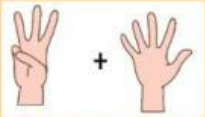

มีค่าเท่ากับ 8

◯ จริง
◯ เท็จ

$(58 \times 3) - 12$
มีค่าเท่ากับ 162

◯ จริง
◯ เท็จ

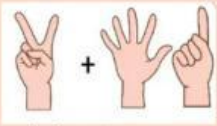

มีค่าเท่ากับ 7

◯ จริง
◯ เท็จ

$6,512 - 856 - 352$
มีค่าเท่ากับ 5,304

◯ จริง
◯ เท็จ

มีเงินอยู่ 5,200 บาท
ซื้อวิทยุ 3,200 บาท
เงินที่เหลือนำไปซื้อผ้าห่ม
ผืนละ 250 บาทได้ 8 ผืน

◯ จริง
◯ เท็จ

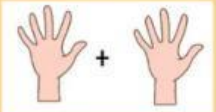

มีค่าเท่ากับ 5

◯ จริง
◯ เท็จ

LIVEWORKSHEETS

ข้อสอบทบทวนความรู้

คำสั่ง : ให้นักเรียนเลือกคำตอบที่ถูกที่สุดเพียงคำตอบเดียว

1. 47304 - 1850 +276 = ☐

2. (254 × 2) + (425 ÷ 5) = ☐

3. ส้ม 2,500 กิโลกรัม แบ่งใส่เข่งเข่งละ 25 กิโลกรัม ขายเข่งละ 300 บาท จะได้เงินทั้งหมดเท่าไหร่

4. ดินสอ 7 โหล แบ่งให้นักเรียนเท่า ๆ กัน จะได้รับคนละกี่แท่ง เขียนเป็นประโยคสัญลักษณ์ได้ตามข้อใด

LIVEWORKSHEETS