1.) Írd a négyszögek sorszámát az állítás után, növekvő sorrendben, vesszővel elválasztva!

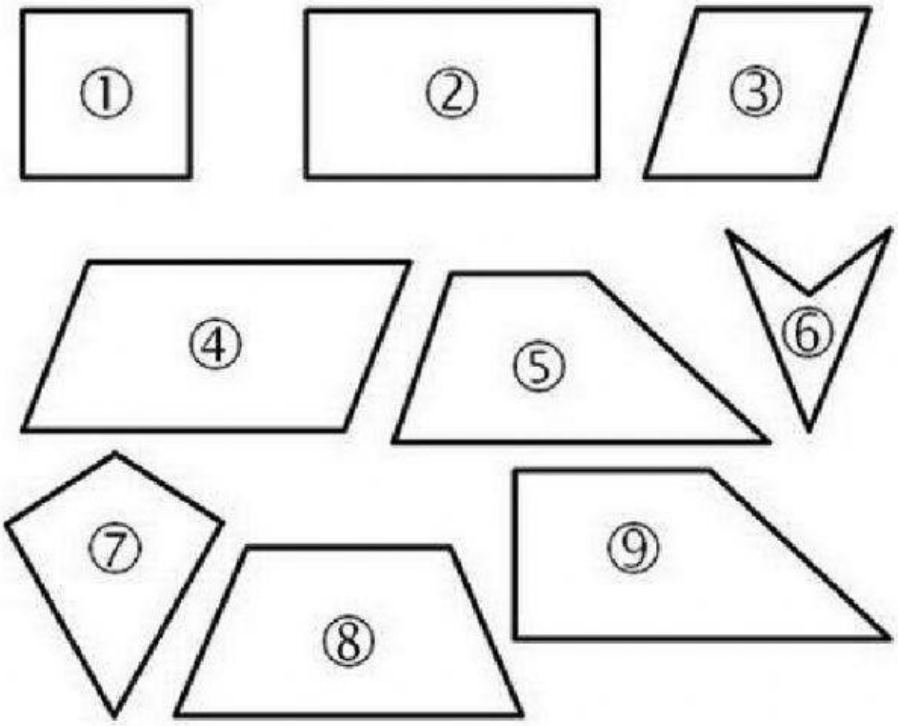

- Minden oldala egyenlő: .....
- Van derékszöge: .....
- Minden szöge egyenlő:.....
- Van párhuzamos oldalpárja:.....
- Derékszögű trapéz:.....
- Nincs párhuzamos oldalpárja: .....
- Paralelogrammák: .....
- Téglalapok: .....
- Mi a neve a 3-as négyszögnek? .....

2.) Írd be a háromszög hiányzó szögeit!

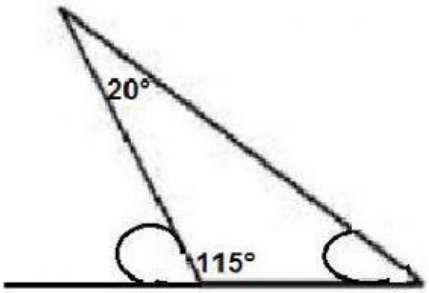

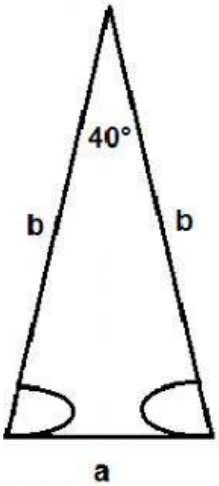

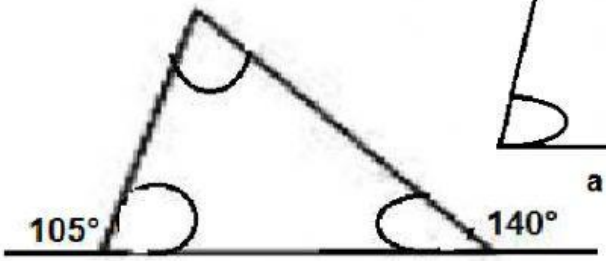

LIVEWORKSHEETS

3.) Igaz vagy hamis az állítás?

- Minden téglalap trapéz:
- Minden rombusz négyzet:
- Minden rombusz paralelogramma:
- Minden téglalap négyzet:
- Van homorúszögű háromszög:
- Van olyan trapéz, amelynek minden oldala egyenlő:

4.) Írd be a helyes válasz4! csak számot írj!

- Minden háromszög belső szögeinek összege: _____
- Egyenlő oldalú háromszög egy belső szögének nagysága:_____
- A derékszög nagysága: _____
- A teljesszög $\frac{3}{10}$ $rész e$: _____
- Az egyenesszög ötöde: _____
- Nyolcszög összes átlójának száma: _____
- A kör sugara 3,5 cm. Mekkora az átmérője: _____

5.) Egészítsd ki a mondatokat:

- A rombusz _____ egyenlőek.
- A trapéznak van _____ oldalpárja.
- A téglalapnak minden_____.
- A derékszögű paralelogrammát_____nevezzük.
- Az egyenlő oldalú paralelogramma a _____.
- A kör középpontját a körvonallal összekötő szakasz a kör_____
- A kör leghosszabb húrja: _____.

6.) Kösd össze a kör részeit!

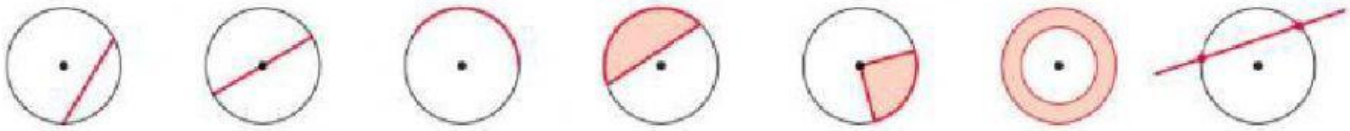

átmérő körcikk **húr** körív szelő körszelet körgyűrű

LIVEWORKSHEETS