مملكة البحرين
وزارة التربية و التعليم
مدرسة سعد ابن أبي وقاص للبنين

اسم التلميذ: .....

الصف : رابع ف .....

نشاط مراجعة لدروس الفصل الثامن و التاسع

س١ : حدد إذا كان كل شكل مما يلي مضلع أم غير مضلع

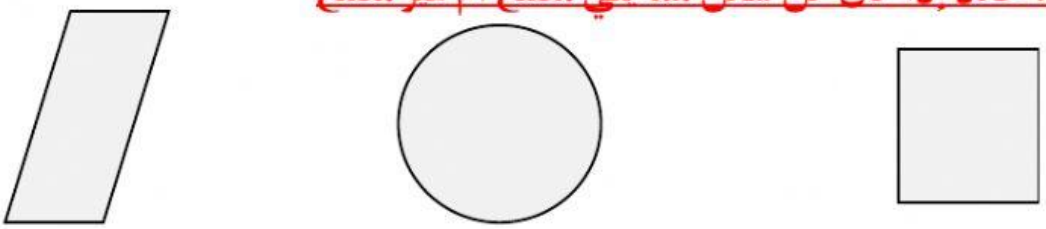

س٦: اختر الشكلين المتطابقين بين الأشكال التالية المتطابقة في كل مما يلي :

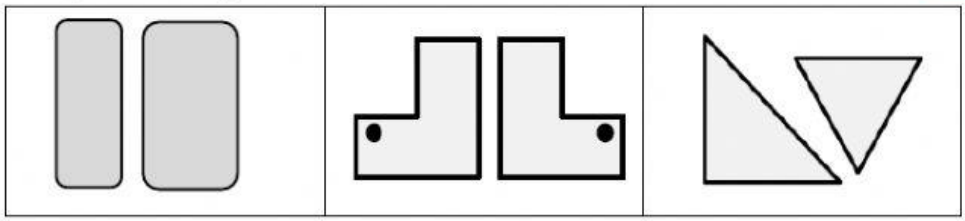

س٢: صل كل شكل مما يلي باسمه

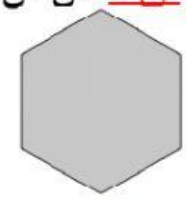

سداسي



خماسي

س٣: اسحب الاسم المناسب لكل شكل من الأشكال الرباعية:

مستطيل | شبه منحرف | معين | مربع



إعداد : أ.معصومة الخياط

منسقة المادة : أ. فاطمة مكي

المديرة المساعدة : أ.مريم العثمان

مديرة المدرسة : أ. هالة المران

LIVEWORKSHEETS