Lembar Kerja Peserta Didik

LKPD

BANGUN DATAR

Nama : ----------

Kelas : ----------

Disusun oleh : Damar Nugroho

LIVEWORKSHEETS

Materi Bangun Datar Kelas 1 SD

AYO MENGENAL BANGUN DATAR

Hubungkan gambar bangun datar yang memiliki sisi yang sama!



LIVEWORKSHEETS

Materi Bangun Datar Kelas 1 SD

EVALUASI BANGUN DATAR

Pilihlah jawaban yang benar dengan memberi tanda silang (X) pada jawaban yang benar!

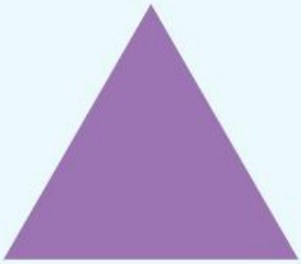

1. Berapa jumlah sisi segitiga ?

A. 3
B. 4
C. 2

2. Mana yang termasuk bangun datar segiempat ?

A. Segitiga sama kaki
B. Lingkaran
C. Trapesium

3. Berapa jumlah titik sudut lingkaran ?

A. 2
B. 5
C. Tidak ada

LIVEWORKSHEETS

Materi Bangun Datar Kelas 1 SD

BANGUN DATAR

Jawablah pertanyaan dibawah ini dengan benar dan tepat!

1

Nama bangun datar : _____

Banyak sisi : _____

Banyak titik sudut : _____

2



Nama bangun datar : _____

Banyak sisi : _____

Banyak titik sudut : _____

3

Nama bangun datar : _____

Banyak sisi : _____

Banyak titik sudut : _____

LIVEWORKSHEETS