Madrasah Negri 2

Tahun Ajar 2024\2024

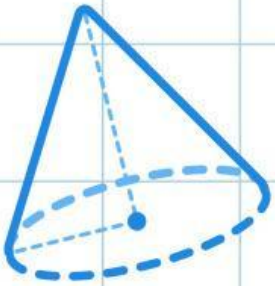

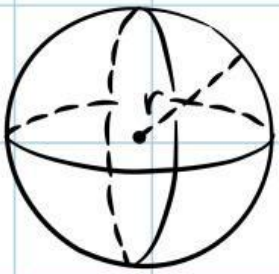

$V = \frac{4}{3}\pi r^3$

LKPD

LEMBAR KERJA PESERTA DIDIK

Nama : _____

Kelas: _____

LIVEWORKSHEETS

Ayo kita belajar penjumlahan bersusun

45 24 +	•	•	78
217 61 +	•	•	503
134 423 +	•	•	69
65 13 +	•	•	557
450 53 +	•	•	278

LIVEWORKSHEETS

Ayo kita belajar Menjumlahkan

1. 400 + a = 515
   Nilai a adalah ....

A. 110

B. 105

C. 115

D. 150

2. Penjumlahan dibawah ini yang hasilnya tidak 700 adalah ...

A. 200 + 500

B 300 + 400

C. 400 + 200

D. 500 + 200

3. Pak mahen membeli 88 ekor bebek. kemudian membeli lagi 37 ekor bebek.berapa jumlah seluruh bebek pak mahen ....

A. 152

B 135

C. 107

D. 125

LIVEWORKSHEETS

Ayo kita belajar Menjumlahkan

Baca crita dibawah ini dan lengkapi titik titik dibawah ini dengan jawaban yang tepat

Pada suatu hari pak andi membeli 100 ekor kambing dan satu minggu kemudian pak andi membeli lagi kambing sejumlah ..... jadi total kambing yang pak andi punya adalah 143. kemudian pak andi membeli lagi kambing 5 ekor kambing serta anaknya ada 7 ekor kambing jadi total kambing yang pak andi punya adalah ..... Seminggu kemudian kambi pak andi dijual 5 ekor jadi total kambing yang pak andi punya adalah ..... Sehari setelahnya kambing milik pak andi ada yang meninggal ..... jadi sisa kambing yang pak andi punya adalah 147



150 ekor

43 ekor

155 ekor

3 ekor

LIVEWORKSHEETS