Дроби

1 Цибулину розрізали навпіл. Одну частину дрібно покришили і посмажили, а половину іншої частини поклали варити. Яка частина цибулини вариться?

2 Яблуко розрізали на 8 однакових частин. Ростик узяв одну частину з восьми, Любчик — дві з восьми, Даринка — три з восьми. Скільки частин із восьми залишилося?

Довідничок

Одну з восьми	однакових частин позначають дробом	$\frac{1}{8}$ «одна восьма»
Дві з восьми		$\frac{2}{8}$ «дві восьмих»
Три з восьми		$\frac{3}{8}$ «три восьмих»

3 Скільки цукерок взяли в кожному випадку? Запиши дробом.

- Дві з трьох;
- дві з п'яти;
- три із семи;
- сім із десяти;
- дев'ять із двадцяти;
- тридцять зі ста.

4 Запишіть дроби

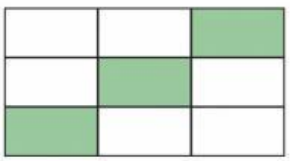

___ ___ ___

LIVEWORKSHEETS

Дроби

1 На скільки рівних частин поділено кожний зображений прямокутник? Запишіть дроби, що позначають розмальовані й не розмальовані частини прямокутників.

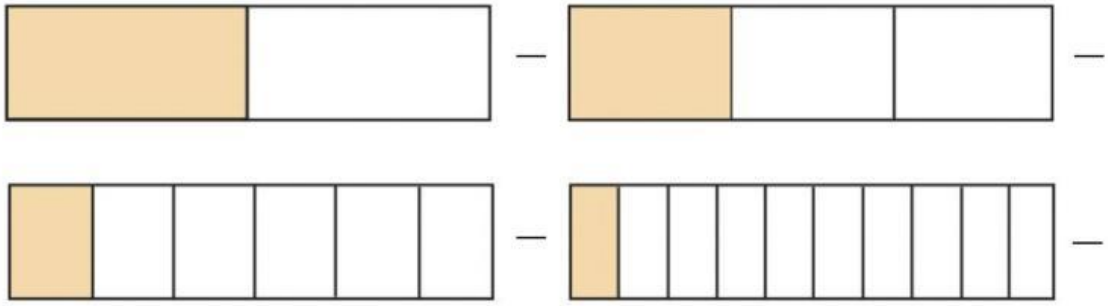

2 Вибери відповідний дріб до кожного малюнка.

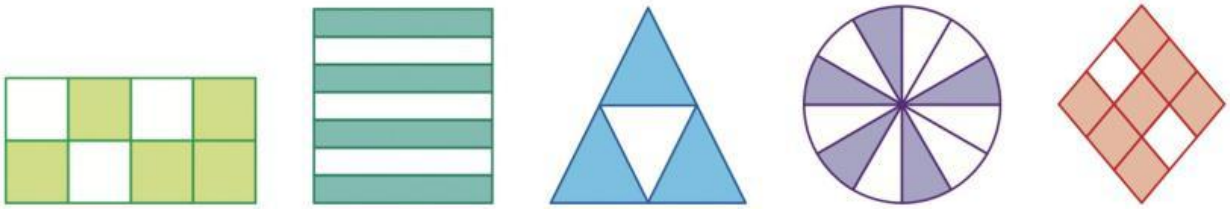

$\frac{3}{4}$ $\frac{5}{12}$ $\frac{1}{8}$ $\frac{7}{8}$ $\frac{7}{9}$ $\frac{3}{5}$ $\frac{5}{8}$ $\frac{4}{7}$

3

Числа виду $\frac{1}{2}, \frac{2}{3}, \frac{3}{4}, \frac{4}{5}, \frac{5}{6}$ називають ***дробовими*** чи ***числами*** **натуральними**

Число $\frac{5}{6}$ - ***дріб***, де 5 – ***чисельник*** чи ***знаменник*** 6 - ***чисельник*** чи ***знаменник*** дробу

Знаменник чи Чисельник показує, на скільки рівних частин поділено ціле.

Знаменник чи Чисельник показує, скільки взято частин цілого.

LIVEWORKSHEETS