LKPD

SUDUT

Nama : .....

Kelas : .....

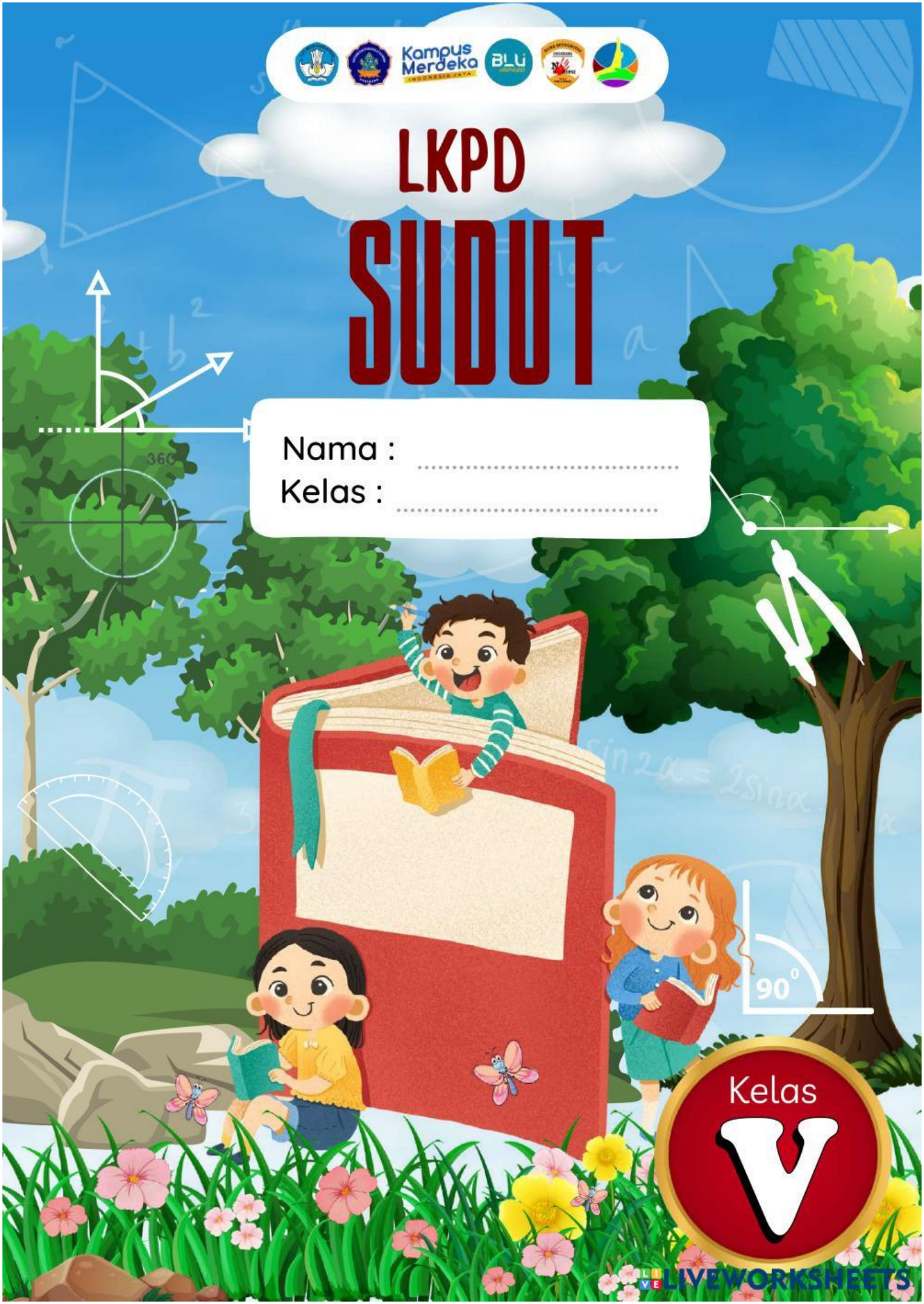

LIVEWORKSHEETS

Nama :

Kelas :

Temukan sudut yang tidak diketahui untuk setiap gambar. Pilih jawabanmu dari opsi yang disediakan dan seret untuk melengkapi sudut.

No	Gambar	Keeterangan	Jenis Sudut yang Terbentuk
1		Sudut yang terbentuk oleh jarum pendek dan panjang saat jam menunjukkan pukul 08.00.	☐ Lancip ☐ Siku-siku ☐ Tumpul
2		Sudut pada persimpangan jalan.	☐ Lancip ☐ Siku-siku ☐ Tumpul
3		Sudut yang terbentuk saat sebuah kipas dibuka.	☐ Lancip ☐ Siku-siku ☐ Tumpul
4		Sudut yang terbentuk saat gunting dibuka.	☐ Lancip ☐ Siku-siku ☐ Tumpul
5		Sudut pada pojokan jendela	☐ Lancip ☐ Siku-siku ☐ Tumpul

LIVEWORKSHEETS

Nama :

Kelas :

Temukan sudut yang tidak diketahui untuk setiap gambar. Pilih jawabanmu dari opsi yang disediakan dan seret untuk melengkapi sudut.

180° 90° 45° 360° 120° 270°

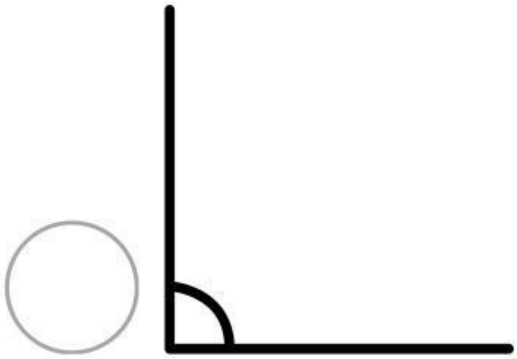

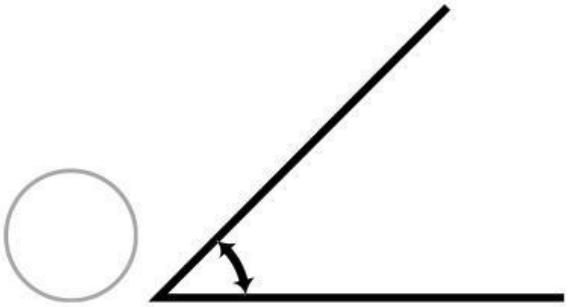

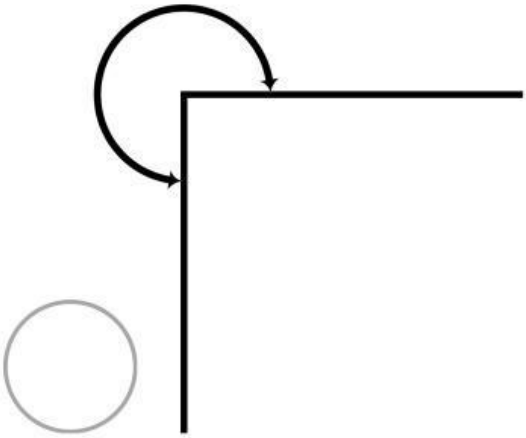

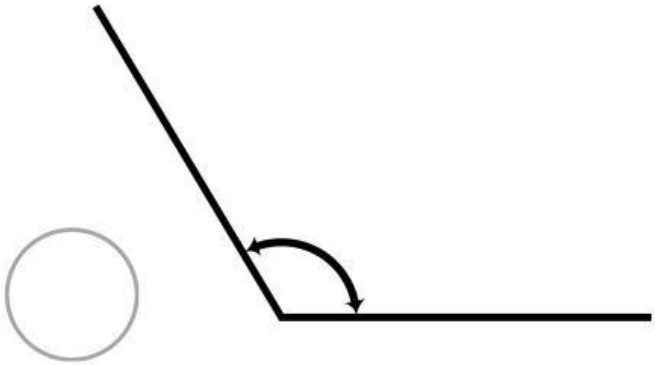

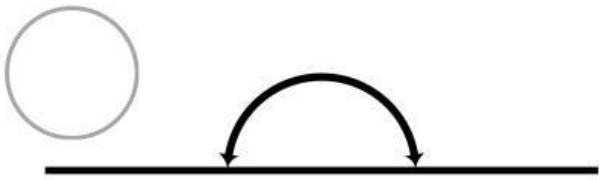

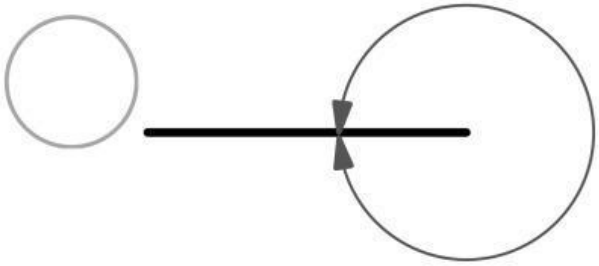

LIVEWORKSHEETS

Nama :

Kelas :

AYO BUAT SUDUT

Gambarlah 2 buah sudut tumpul dan 2 buah sudut lancip dengan menggunakan jarum pendek dan panjang pada jam analog. Kemudian beri keterangan pukul berapa yang ditunjukkan oleh jarum jam tersebut.

Pada pukul 02.00 jarum pendek dan jarum panjang pada jam analog membentuk sudut lanci

Sekarang, teman-teman, ayo kita buat sudut tumpul dan sudut lancip menggunakan jarum jam seperti contoh di atas. Buat sudut yang berbeda dengan contoh, ya.

LIVEWORKSHEETS

Nama :

Kelas :

AYO BUAT SUDUT!









LIVEWORKSHEETS