# LKPD

## Matematika
## Kelas V

## SUDUT

LIVEWORKSHEETS

# Lembar Kerja Peserta Didik

## Tujuan Pembelajaran

1. **Siswa mampu memahami bagian-bagian sudut.**
2. **Siswa mampu menyebutkan Jenis-jenis Sudut.**
3. **Siswa mampu mengukur besar sudut dengan menggunakan busur derajat.**
4. **Siswa mampu menggambarkan sebuah sudut.**

## Petunjuk Pengerjaan LKPD

1. **Berdoalah sebeluum mulai mengerjakan LKPD**
2. **Tuliskan identitas pada kolom yang telah disediakan.**
3. **Perhatikan soal dengan seksama, sebelum menjawab.**
4. **Jawablah soal dengan baik dan benar.**

LIVEWORKSHEETS

Name: _____ Kelas _____

# Jenis-jenis Sudut

Perhatikan gambar di bawah iini, kemudian jodohkanlah gambar sesuai dengan jenis sudut yang tepat.!!

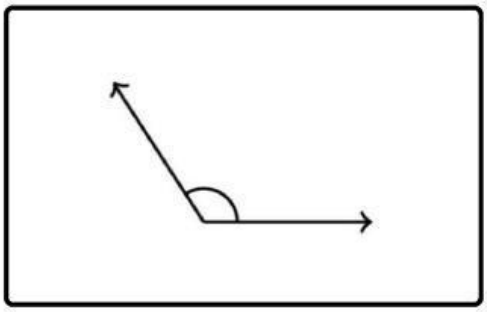

- Lancip

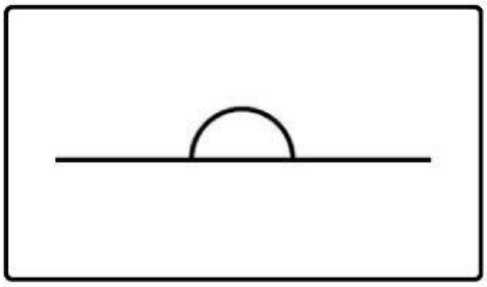

- Siku-siku

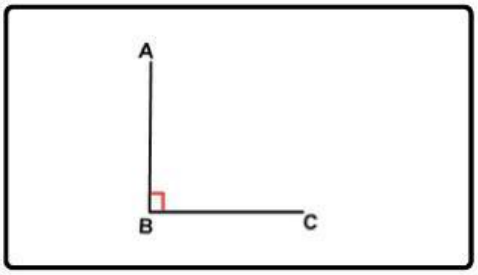


- Tumpul

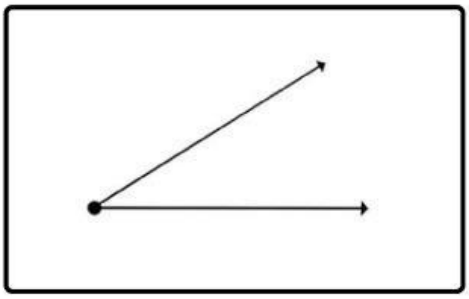

- Lurus

**"Selamat Mengerjakan"**

LIVEWORKSHEETS

# Menghitung Sudut

**Hitungllah besar sudut pada setiap gambar sudut di bawah ini, kemudian tuliskan nama sudut berdasarkan besar setiap sudutnya!!**

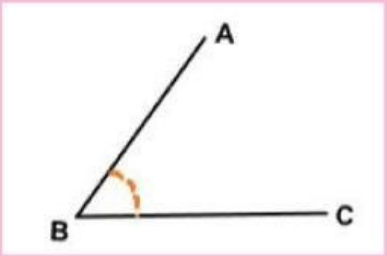


Nama Sudut:

Besar Sudut:

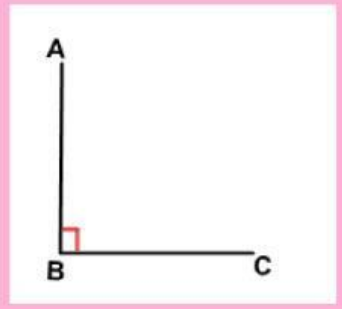


Nama Sudut:

Besar Sudut:

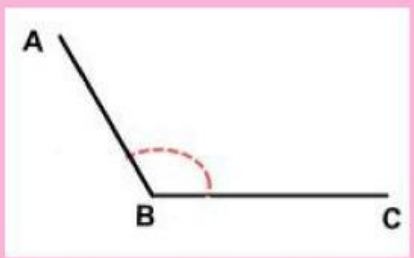


Nama Sudut:

Besar Sudut:

LIVEWORKSHEETS

**Perhatikan gambar jam di bawah ini kemudian hitunglah besar sudutnya!!**

Pukul :

Nama Sudut:

Besar Sudut:

Pukul :

Nama Sudut:

Besar Sudut:

Pukul :

Nama Sudut:

Besar Sudut:

LIVEWORKSHEETS

# Menggambar Sudut

Gambarlah sudut berikut ini dengan benar dan jelas!!

$90^0$

$45^0$

$100^0$

LIVEWORKSHEETS