LKPD

SATUAN BAKU DAN TIDAK BAKU, LUAS DAN KELILING BANGUN DATAR

Materi Pengukuran

Nama : ----------

Kelas : ----------

LIVEWORKSHEETS

PETUNJUK PENGERJAAN

1. Setelah kalian membaca bahan ajar yang sudah disediakan guru maka pahami dan cermati LKPD dibawah ini
2. Setelah memahami isi LKPD maka kerjakanlah soal permasalahan yang terdapat pada lembar LKPD secara Individu
3. Jika mengalami kesulitan mengerjakan LKPD mintalah bantuan kepada guru

LIVEWORKSHEETS

Pasangkanlah tabel di bawah ini dengan tepat!!

Pengukuran Tidak Baku

Pengukuran Baku

- JENGKAL
- DEPA
- LANGKAH
- PANJANG
- VOLUME
- TAPAK



LIVEWORKSHEETS

Gambarlah bangun datar yang kalian ketahui beserta tulislah rumus dan luas keliling pada bangun datar

Bangun Datar	Luas	Keliling
		
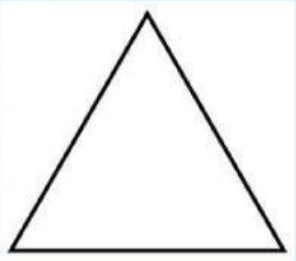		
		

LIVEWORKSHEETS

PERHATIKAN GAMBAR DI BAWAH INI

A

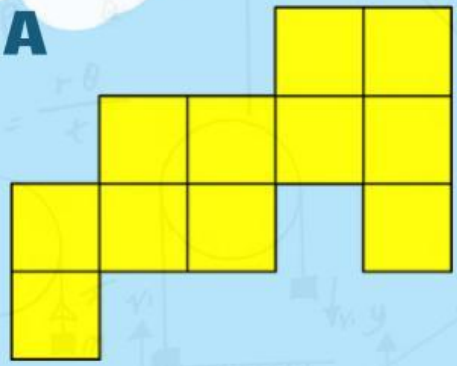

B

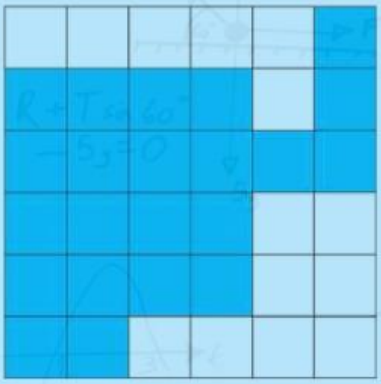

C

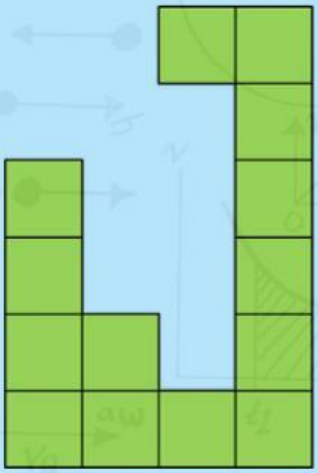

D



Tentukan luas dari gambar A,B,C,D diatas dengan menggunakan persegi satuan

Luas bangunan A adalah ..... Persegi satuan

Luas bangunan B adalah ..... Persegi satuan

Luas bangunan C adalah ..... Persegi satuan

Luas bangunan D adalah ..... Persegi satuan

LIVEWORKSHEETS