TEMA 8 SUBTEMA 3 PEMBELAJARAN 1

Nama: **Kelas:**

Tulislah jawaban yang benar pada kolom yang disediakan!

Gambar rambu lalulintas di samping memiliki arti..

Berdasarkan tabel di samping berapa kuintal hasil panen tanaman singkong ?

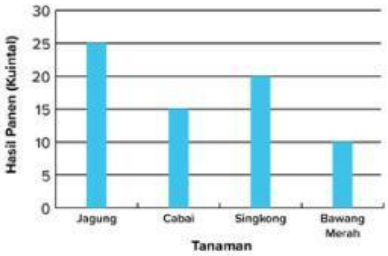

a. 15 Kuintal c. 25 Kuintal

b. 10 Kuintal d. 20 Kuintal

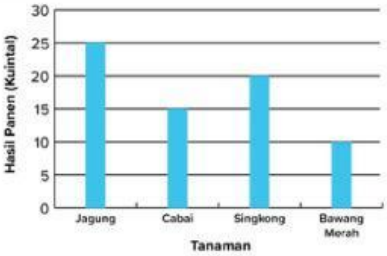

Berdasarkan tabel di disamping, tanaman dengan hasil panen yang sedikit adalah...

a. Singkong c. Cabai

b. Jagung d. Bawang Merah

Gambar disamping menggunakan hiasan berupa...



LIVEWORKSHEETS