CLASIFICACIÓN DE POLIGONOS

Si nos fijamos en el **número de lados** de los polígonos, los podemos clasificar en:

- **Triángulos**: polígono de lados
- **Cuadriláteros**: polígono de lados
- **Pentágonos**: polígono de lados
- **Hexágonos**: polígono de lados

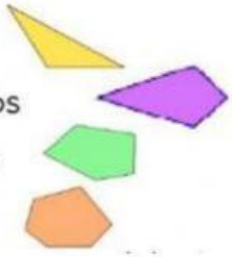

Haz click en las figuras que son polígonos.



3. Cuenta el número de lados y clasifica estos polígonos.



Triángulos	Cuadriláteros	Pentágonos	Hexágonos

Traza segmentos de recta entre los vértices y determina cual polígono es regular y cuál irregular.

LIVEWORKSHEETS