# LKPD

# BANGUN DATAR

1. Perhatikan video berikut ini:

2. Perhatikan meteri presentasi berikut ini



**Materi**

**Materi**

LIVEWORKSHEETS

# LKPD

# BANGUN DATAR

1.**TEKSFIELD**

Bangun datar segi empat yang ke empat sisinyaa sama Panjang dan ke empat sudutnya siku-siku atau 90˚adalah.....

2. **SINGLE CHOICE**

Berikut ini yang bukan merupakan bangunan datar adalah.....

**3. CHECKBOXES**

Pernyataan yang benar adalah.....

Persegi memiliki 4 sisi

Lingkaran memiliki 6 sisi

Segitiga memiliki 3 sisi

LIVEWORKSHEETS

**4. SELECT**

Nama bangunan datar di bawah ini adalah.....

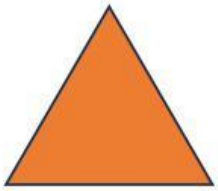

Persegi

Segitiga

Persegi Panjang

Lingkaran

# LKPD

# BANGUN DATAR

**5. WORD SEARCH**

Temukan 3 kata pada kotak di bawah ini.....

| | | | | |
|---|---|---|---|---|
| S | S | I | S | I |
| M | U | L | I | N |
| O | S | D | K | T |
| D | K | C | U | K |
| U | G | X | M | T |

**6. SPEAK**

Sebutkan nama bangunan datar berikut dengan tepat!

LIVEWORKSHEETS

7. **LISTENING**

Dengarkan suara berikut dan tuliskan jawabannya dengan tepat!

**8. DRAG & DROP**

LINGKARAN

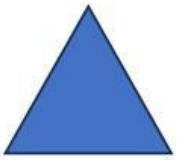

SEGITIGA

PERSEGI PANJANG

$\mathbf{L = \frac{1}{2} \times alas \times tinggi}$

$\boldsymbol{L = Panjang} \times \mathbf{Lebar}$

$\boldsymbol{L = \pi} \times \mathbf{r} \times \mathbf{r}$

LIVEWORKSHEETS

**9. JOIN**

Buatlah garis ke jawaban yang benar



LINGKARAN

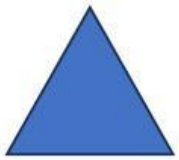

PESEGI PANJANG

SEGITIGA

LIVEWORKSHEETS