PEMERINTAH KOTA PALEMBANG
DINAS PENDIDIKAN
SMP NEGERI 1 PALEMBANG
Jl. P.A.K Abdurrahim, Bukit Kecil Kel. Talang Semut telp. 352740 Palembang
Email : info@smpn1plg.sch.id Website : smpn1plg.sch.id

ASESMEN IPS KELAS 7

Pilih jawaban yang benar

1. Pertimbangan dalam memilih pemanfaatan sumberdaya yang langka adalah pada ....
   A. kekayaan.
   B. kesukaan
   C. keinginan
   D. kebutuhan

2. Daftar yang memuat semua kebutuhan dari yang paling penting harus di dahulukan dan disesuaikan dengan penghasilan, disebut daftar ..
   A. belanja harian
   B. skala prioritas
   C. pendapatan rutin
   D. pengeluaran rutin

3. Perhatikan pernyataan berikut!
   1). agama
   2). minum
   3). rekreasi
   4). makanan
   Berdasarkan penyataan tersebut, contoh kebutuhan jasmani ditunjukkan nomor ....
   A. (1) dan (3)
   B. (2) dan (3)
   C. (2) dan (4)
   D. (3) dan (4)

4. Perhatikan pernyataan berikut!
   1). tahan lama
   2). status sosial
   3). jenis kelamin
   4). perbedaan selera
   5). kepemilikan.
   Berdasarkan pernyataan tersebut, faktor yang membedakan kebutuhan manusia yang satu dengan yang lain tidak sama . di tunjukkan nomor
   A. (1), (2) dan (4)
   B. (1), (3) dan (5)
   C. (2), (3) dan (4)
   D. (3), (4) dan (5)

5. Perhatikan pernyataan berikut!
   1). meja dengan kursi
   2). motor dengan sepeda
   3). bulpoin dengan kertas
   4). daging dengan tempe
   5). mobil dengan bahan bakar
   Berdasarkan pernyataan tersebut, contoh barang komplementer ditunjukkan nomor
   A. (1), (2) dan (4)
   B. (1), (3) dan (5)
   C. (2), (3) dan (4)
   D. (3), (4) dan (5)

LIVEWORKSHEETS

6. Perhatikan pernyataan berikut ini;
   1). barang jadi
   2). barang modal
   3). barang mentah
   4). barang di proses
   5). barang setengah jadi

   Berdasarkan pernyataan tersebut, alat pemenuhan kebutuhan menurut proses pembuatan barang ditujukkan nomor ....
   A. (1), (2) dan (4)
   B. (1), (3) dan (5)
   C. (2), (3) dan (4)
   D. (3), (4) dan (5)

7. Penerapan prinsip ekonomi yang dapat dilakukan peserta didik, dengan cara ....
   A. menyantuni anak yatim
   B. banyak mentraktir teman
   C. aktif dalam kegiatan di sekolah
   D. mengurangi pengeluaran tidak perlu

8. Usaha menyalurkan barang dari produsen sampai kekonsumen disebut kegiatan ..
   A. produksi
   B. konsumsi
   C. distribusi
   D. komunikasi

9. Perhatikan faktor produksi berikut ini;
   1). tanah
   2). hutan
   3). gedung
   4). minyak bumi
   5). tenaga kerja

   Berdasarkan faktor produksi tersebut, contoh faktor produksi alam adalah nomor ....
   A. (1), (2) dan (4)
   B. (1), (3) dan (5)
   C. (2), (3) dan (4)
   D. (3), (4) dan (5)

10. Jumlah barang dan Jasa yang akan dibeli pada berbagai tingkat harga tertentu dan waktu tertentu, disebut ....
    A. penjualan
    B. penawaran
    C. permintaan
    D. perdagangan

11. Perhatikan kurve berikut ini;

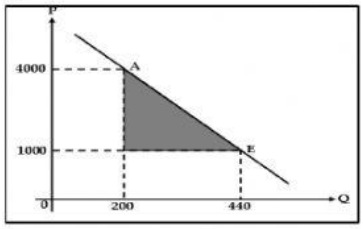

    Hukum permintaan mempengaruhi jumlah barang yang diminta, jika harga barang ..
    A. naik, maka barang diminta berkurang
    B. naik, maka barang diminta bertambah
    C. turun, maka barang diminta berkurang
    D. turun, maka barang diminta tetap

LIVEWORKSHEETS

12. Perhatikan Pernyataan dibawah ini;
   1). harga barang
   2). biaya produksi
   3). bencana alam
   4). larangan Impor
   5). jumlah Penduduk.

   Berdasarkan Pernyataan diatas, faktor yang mempengaruhi dalam menentukan penawaran ditunjukkan nomor ....
   A. (1), (2) dan (4)
   B. (1), (3) dan (5)
   C. (2), (3) dan (4)
   D. (3), (4) dan (5)

13. Perhatikan Kurva berikut ini:

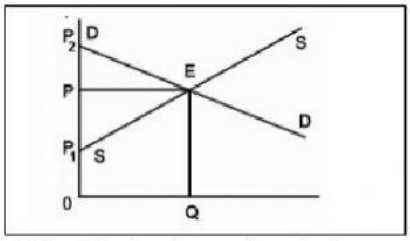

   Berdasarkan kurva tersebut, jumlah dan harga keseimbangan ditunjukkan garis ....
   A. P - E dan Q
   B. P1 - E dan Q
   C. P2 - E dan Q
   D. P - E dan D

14. Perhatikan pernyataan berikut ini;
   1). adanya penjual dan pembeli
   2). keuntungan yang diharapkan
   3). kesepakatan antara penjual dan pembeli
   4). tersedianya tempat yang diperlukan
   5). adanya barang yang diperjual belikan

   Berdasarkan pernyataan tersebut, syarat terbentuknya pasar ditunjukkan nomor ....
   A. (1), (2) dan (4)
   B. (1), (3) dan (5)
   C. (2), (3) dan (4)
   D. (3), (4) dan (5)

15. Pasar dapat memperlancar penyaluran barang dari produsen ke konsumen melalui transaksi jual-beli, hal ini merupakan fungsi pasar sebagai sarana ....
   A . promosi
   B. produksi
   C. konsumsi
   D. distribusi

16. Perhatikan pernyataan berikut ini;
   1). pasar harian
   2). pasar bulanan
   3). pasar regional
   4). pasar nasioanal
   5). pasar Internasional

   Berdasarkan pernyataan tersebut, jenis pasar menurut luas jaringan distribusi adalah
   A. (1), (2) dan (4)
   B. (1), (3) dan (5)
   C. (2), (3) dan (4)
   D. (3), (4) dan (5)

LIVEWORKSHEETS

17. Perhatikan kurva berikut ini;

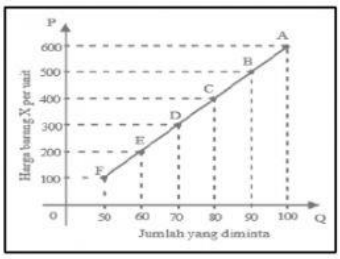

Berdasarkan kurva tersebut, hubungan harga terhadap penawaran terdapat pada, jika harga

A. naik, jumlah yang ditawarkan berkurang
B. naik, jumlah yang ditawarkan bertambah
C. turun, jumlah yang ditawarkan bertambah
D. turun, jumlah yang ditawarkan seimbang

18. Perhatikan ilustrasi berikut!

Pak Sastra pekerja keras, sehari-hari ia menjalani kehidupan dengan bekerja tanpa kenal lelah. Semua pekerjaan diselesaikan dengan penuh tanggung jawab dan memiliki hasil yang memuaskan. Giat bekerja untuk memenuhi kebutuhan yang bersifat materi tidak membuatnya lupa melakukan kegiatan yang membuatnya merasa aman dan tenang, seperti beribadah, membaca buku kesukaannya.

Pak Sastra, merasa senang, aman dan tenang, hal tersebut merupakan kebutuhan …

A. sekarang
B. jasmani
C. masa akan datang
D. rohani

19. Perhatikan ilustrasi berikut!

Pak Bayu pengusaha konveksi. Hasil produksinya berupa jas, gaun, kemeja dan celana. Pak Bayu menjalin kerjasama dengan pabrik tekstil untuk mendapatkan kain sebagai bahan baku. Ia mendirikan usaha di dekat pabrik tekstil untuk menghemat biaya. Kegiatannya mampu menyerap tenaga kerja.
Dari ilustrasi tersebut, barang setengah jadi ialah …

A. kain
B. gaun
C. jas
D. kemeja

20. Perhatikan gambar berikut!

Gambar tersebut merupakan contoh sumber daya manusia yang sedang melakukan kegiatan produksi. Tenaga kerja tersebut termasuk kelompok … .

A. terdidik
B. terlatih
C. terdidik dan terlatih
D. tidak terdidik dan tidak terlatih

LIVEWORKSHEETS

21. Perhatikan gambar berikut!

Pernyataan yang tepat pada gambar, berkaitan dengan materi kegiatan ekonomi ialah … .

A. siswa sedang melakukan kegiatan memproduksi laptop
B. pembelajaran yang dilakukan ialah pembahasan mengenai distribusi barang dan jasa
C. kegiatan belajar di sekolah yang dilakukan siswa merupakan kegiatan mengkonsumsi jasa
D. menghasilkan ilmu untuk kemudian diimbaskan ke masyarakat

22. Perhatikan deskripsi berikut!

Ibu Andani berbelanja di pasar. Ia melihat banyak sekali pedagang buah menjual mangga. Mangga adalah buah kesukaan anaknya. Ia teringat harga mangga pada bulan sebelumnya yaitu Rp. 30.000,00-/kg namun sekarang harga perkilonya Rp. 10.000,00-. Ternyata bulan ini ialah musim mangga berbuah, maka wajar apabila persediaan mangga melimpah.

Faktor harga barang seperti contoh tersebut biasanya akan mempengaruhi permintaan, yaitu … .

A. permintaan akan mangga meningkat dikarenakan harga turun
B. permintaan akan mangga turun dikarenakan harga naik
C. penawaran akan mangga turun dikarenakan harga turun
D. penawaran akan mangga naik dikarenakan harga naik

23. Perhatikan deskripsi berikut!

Pandemi covid-19 mempengaruhi kehidupan ekonomi masyarakat. Akibat pandemi, banyak karyawan yang terpaksa diberhentikan karena perusahaan tidak beroperasi. Hal ini tentu dapat mempengaruhi permintaan masyarakat akan barang dan jasa.
Dari deskripsi tersebut, faktor yang mempengaruhi permintaan barang dan jasa ialah.

A. harga barang
B. pendapatan masyarakat
C. selera masyarakat
D. kualitas barang

24. Berikut ini bunyi hukum penawaran "jika harga barang yang ditawarkan naik, maka jumlah barang yang ditawarkan pun akan bertambah dan sebaliknya, jika harga barang turun, maka jumlah barang yang ditawarkan pun berkurang".

Kesimpulan dari bunyi hukum penawaran ialah … .

A. terdapat hubungan yang selaras antara penawaran dan permintaan pasar
B. permintaan, penawaran dan harga memiliki hubungan yang saling berkaitan
C. antara harga dengan penawaran terdapat suatu hubungan lurus, dimana harga berbanding lurus dengan penawaran
D. antara harga dengan penawaran berbanding terbalik, penawaran akan bertambah jika harga turun

LIVEWORKSHEETS

25. Perhatikan deskripsi berikut!

Pandemi covid-19 membuat kita membatasi gerak untuk mencegah penyebaran virus. Salah satu yang dilakukan oleh ibu ialah mengurangi belanja ke luar rumah. Beberapa kali ibu memesan buah dan sayur secara online, dengan melalui telepon atau internet. Ibu berkomunikasi untuk memesan kebutuhannya, kemudian penjual mengantarkan barang setelah terjadi kesepakatan harga dan jumlah barang.

Dari deskripsi tersebut, pasar yang dikunjungi ibu menurut wujudnya termasuk pasar

A. abstrak
B. konkrit
C. konsumsi
D. produksi

Hubungkan dengan garis, pernyataan dengan gambar!

1. Barang produksi

2. Bahan baku

3. Barang konsumsi

LIVEWORKSHEETS