RECTAS PERPENDICULARES Y ÁNGULOS RECTOS.

1. **Indica cómo se llaman los elementos que conforman un ángulo:**

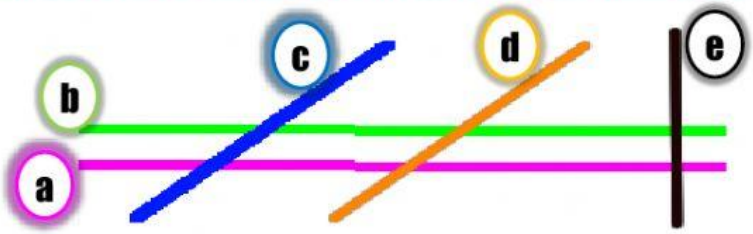

Indica 2 pares de rectas que sean paralelas: _____ y _____

Indica 2 pares de rectas que sean perpendiculares: _____ y _____

Indica 2 pares de rectas que sean secantes (no perpendiculares): _____ y _____

2. **Marca los ángulos de estas figuras geométricas que sean rectos:**

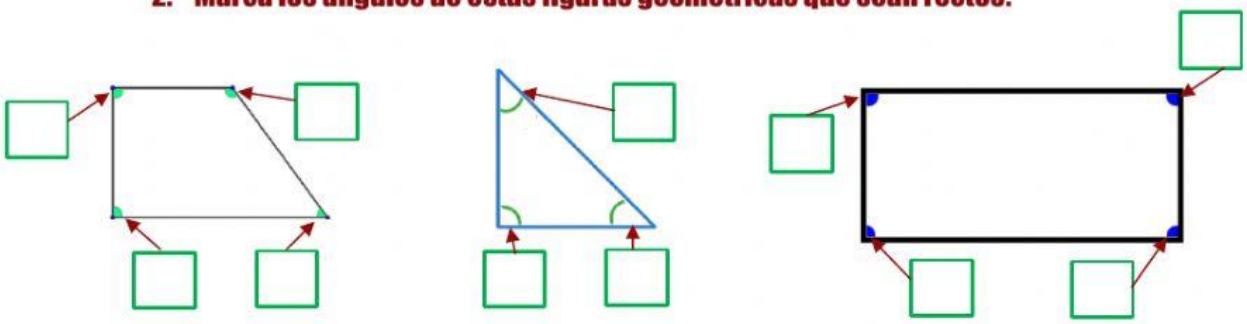

3. **Indica cual de estas figuras tienen todos sus ángulos rectos:**

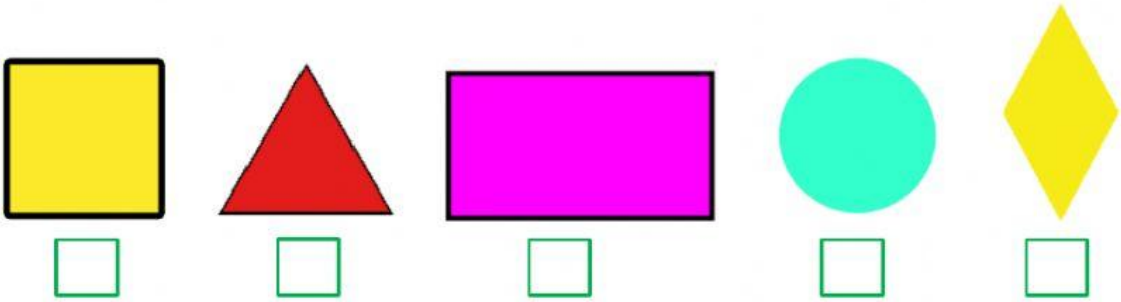

Mario Regodón
LIVEWORKSHEETS