Ziffah Ramadhani
Prayitno (2301025030)

LKPD

BANGUN DATAR

1. Perhatikan Video Berikut :

2. Perhatikan Materi Presentasi Berikut Ini :

Materi

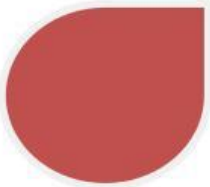

Materi

LIVEWORKSHEETS

LKPD
BANGUN DATAR

1. TEKSFIELD

Bangun datar segi empat yang keempat sisinya sama panjang dankeempat sudutnya siku-siku atau 90 º adalah ...

2. SINGLE CHOICE

Berikut ini yang bukan merupakan bangun datar adalah ...

3. CHECKBOXES

Pernyataan yang benar adalah ...

- [ ] Persegi memiliki 4 sisi
- [ ] Lingkaran memiliki 6 sisi
- [ ] Segitiga memiliki 3 sisi

4. SELECT

Nama bangun datar di bawah ini adalah ...

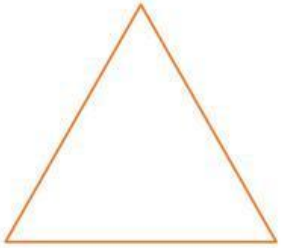

- [ ] Persegi
- [ ] Segitiga
- [ ] Persegi Panjang
- [ ] Lingkaran

LIVEWORKSHEETS

5. WORD SEARCH

Temukan 3 kata pada kotak di bawah ini ...

S	S	I	S	I
M	U	L	I	N
O	S	D	K	T
D	K	C	U	K
U	G	X	M	T

6. SPEAK

Sebutkan nama bangun datar berikut dengan tepat!

7. LISTENING

Dengarkan suara berikut dan tuliskan jawabannya dengan tepat !



LIVEWORKSHEETS

8. DRAG AND DROP

Tentukan rumus yang sesuai dengan gambar

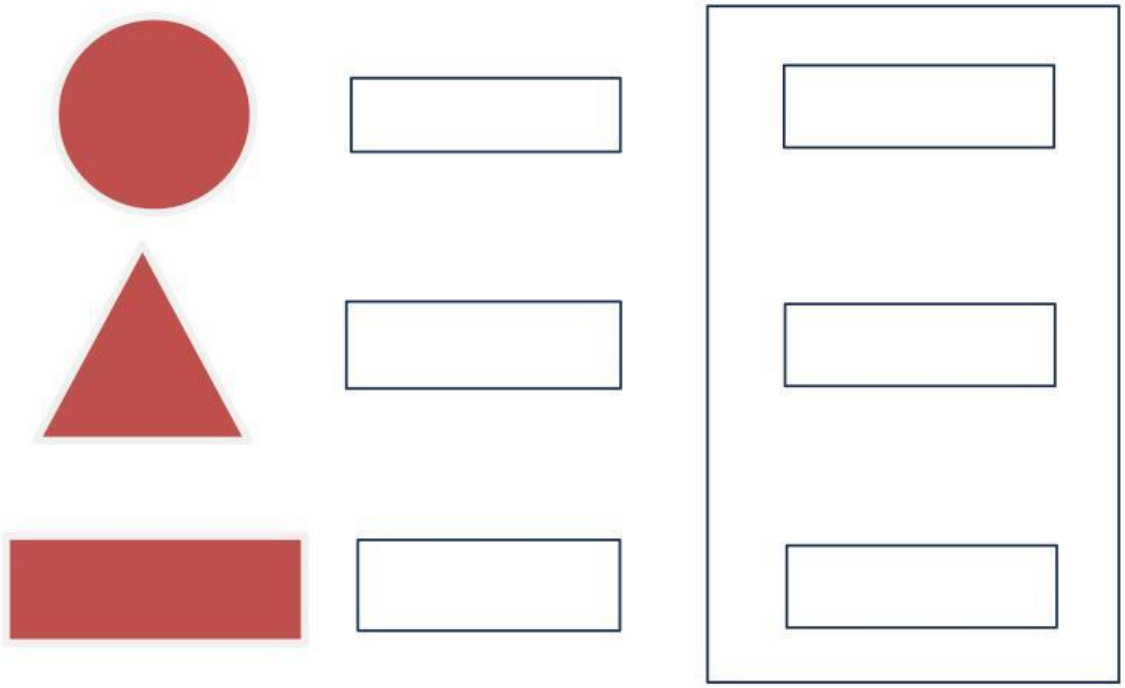

9. JOIN

Buatlah garis ke jawaban yang benar



LIVEWORKSHEETS