LKPD

BANGUN RUANG

Perhatikan video berikut ini!

Perhatikan materi berikut ini!

LIVEWORKSHEETS

LKPD

BANGUN RUANG

1 Banyak rusuk pada kubus adalah ....

2 Banyak sisi pada limas segi empat adalah ....

3 Bangun yang tidak memiliki sudut adalah ....

4 Alas dan tutup tabung berbentuk....

5 Banyak titik sudut pada prisma tegak segitiga adalah ....

LIVEWORKSHEETS

LKPD

BANGUN RUANG

Berikut pernyataan yang benar adalah....

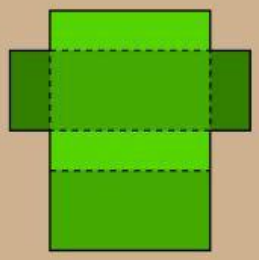

jaring-jaring prisma tegak segitiga



jaring-jaring kubus



jaring-jaring limas

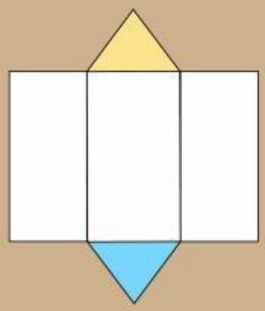

jaring-jaring balok



jaring-jaring kerucut

LIVEWORKSHEETS