TEMA 1. NÚMEROS DE TRES A CINCO CIFRAS

1. Completa la tabla.

……	**500+80+7**	**……..**
2.745	…….+…….+……+…..	……
……..	……..+……..	Ochocientos tres
980	…….+…….	……

2. Une los números con su valor posicional.

2.356	1DM 2UM 3C 8D 9U
671	4C 7D
12.389	2UM 3C 5D 6U
470	6C 7D 1U

3. Escribe la cifra que falta para que las comparaciones sean correctas.

652>65…..

2.387<2.38…..

479>47…..

2…..5<206

32….<321

132<13….

6…..7>657

852<…..52

697>69…..

852<…..52

LIVEWORKSHEETS

4. Observa los bloques y escribe el número que se forma tanto con número como con letra y su descomposición

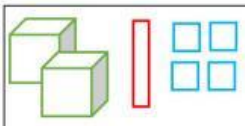	214	200+10+4	Doscientos catorce
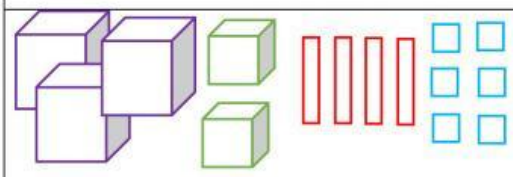			
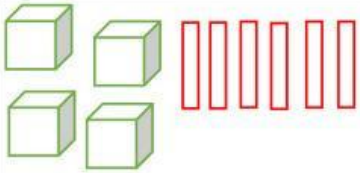			
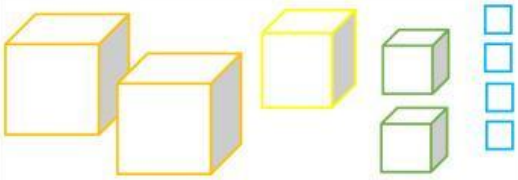			

5. Escribe los siguientes números en la posición correcta de la recta numérica:

9.587

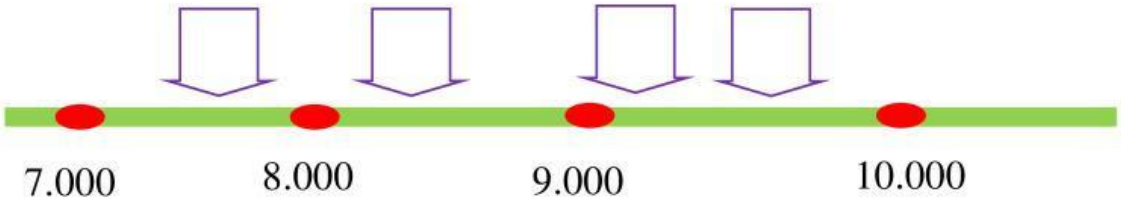

15.296

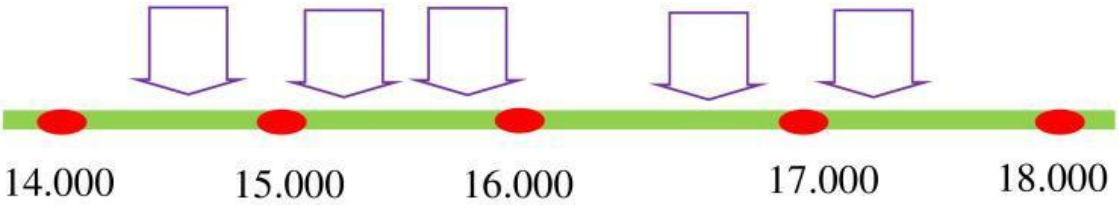

LIVEWORKSHEETS

El hermano de María está entrenando para realizar una Maratón en su ciudad, donde los participantes que estén inscritos deben recorrer una distancia de 38 km.
El año pasado participaron 15.624 corredores y, este año, 17.254 corredores.

1. **¿El número 15.624 es > o < que el número 17.254?**

15.624…..17.254

2. **Une ambos números con su escritura correcta.**

	Diecisiete mil doscientos cuarenta y cuatro
15.624	Catorce mil seiscientos veinticuatro
	Quince mil seiscientos veinticuatro
17.254	Dieciséis mil quinientos cuatro
	Diecisiete mil doscientos cincuenta y cuatro

3. **Indica cuál de las siguientes opciones corresponde con el número 17.254:**
   a) 10.000 + 6.000 + 200 + 50 + 4
   b) 10.000 + 7.000 + 200 + 50 + 8
   c) 10.000 + 7.000 + 200 + 50 + 4
4. **¿A qué número se aproxima el número de corredores que hay este año inscritos en la carrera?**

15.000 16.000 17.000 18.000

LIVEWORKSHEETS