colegio mercedes

1) Escribe cómo son los siguientes tipos de rectas.



2) Arrastra y coloca los siguientes ángulos de mayor a menor.

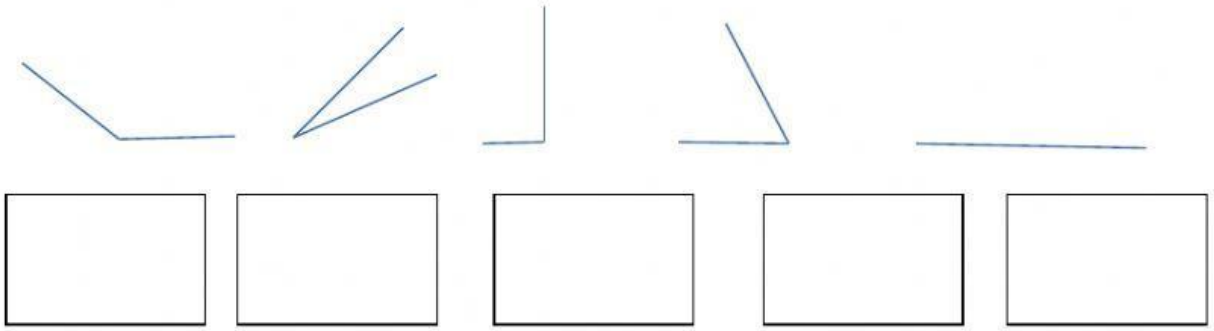

3) Une cada ángulo con el tipo que corresponda.

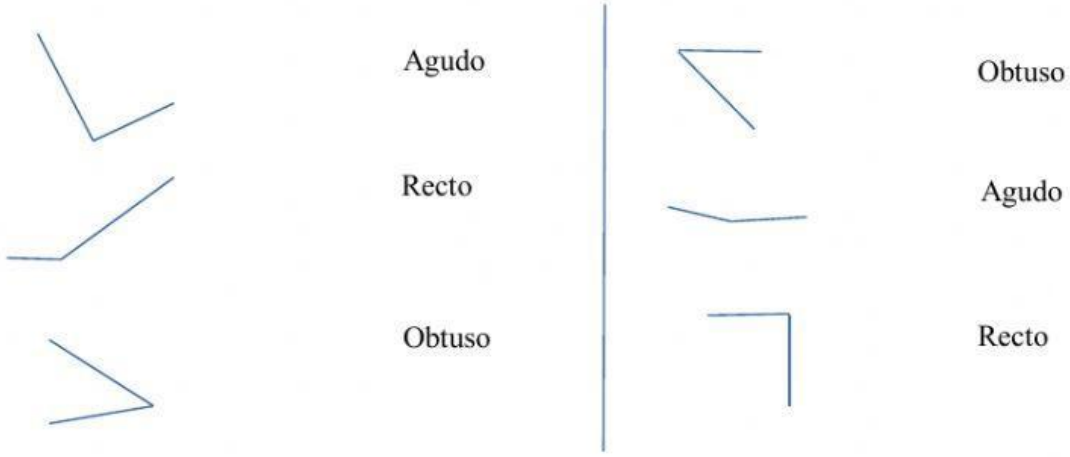

4) ¿Cuáles de las siguientes afirmaciones son verdaderas?

- ☐ - Un ángulo obtuso es menor que un ángulo recto.
- ☐ - Dos rectas paralelas son aquellas que no se cortan en ningún punto.
- ☐ - Un ángulo agudo tiene menos de 90º
- ☐ - Para saber si un ángulo es mayor o menor que otro debemos fijarnos en su abertura.
- ☐ - Dos líneas rectas perpendiculares forman cuatro ángulos rectos.

LIVEWORKSHEETS