Evaluación 2do trimestre 1° A. Miércoles 3 de marzo de 2021.

1- Ordena los listones del 1 al 5, empezando por el más corto.

2- Anota cuántos dulces hay en cada recuadro.

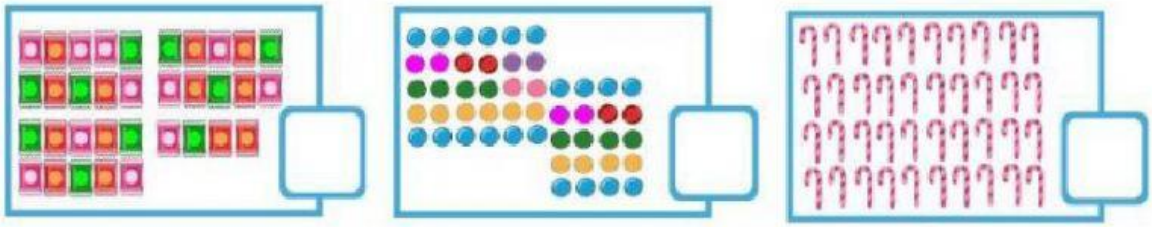

3- Cuenta las manzanas y contesta ¿Cuántas manzanas son?

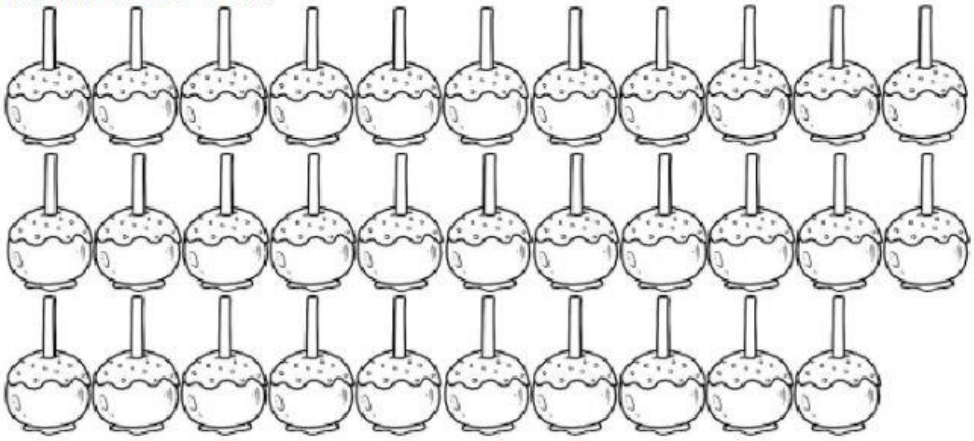

Total de manzanas

Decenas Unidades

LIVEWORKSHEETS

4- Coloca las figuras que hacen falta en el orden correcto.



5- Cuenta y escribe cuántas estampas hay en cada colección.

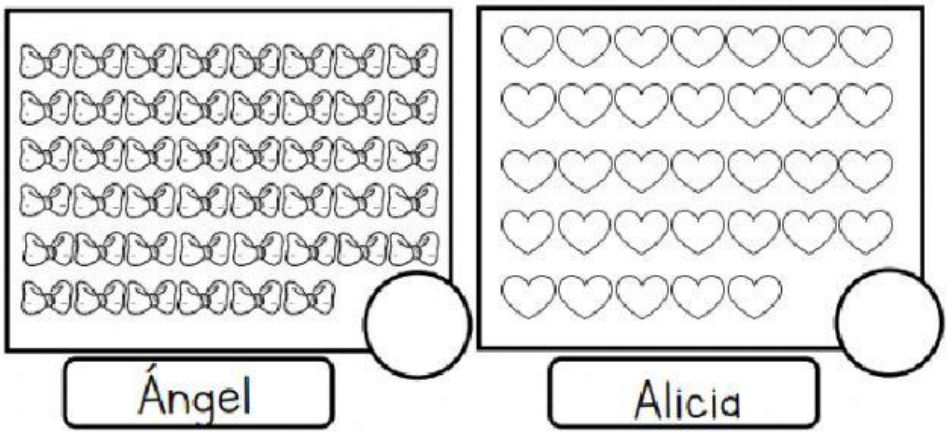

6- ¿Quién tiene más?

7- ¿Cuántas estampas le faltan a Alicia para llegar a 50?

LIVEWORKSHEETS

8- Adrian vende pan, lo entrega en cajas de 10 y sueltos. Cuenta el pan que realizo y completa la tabla.

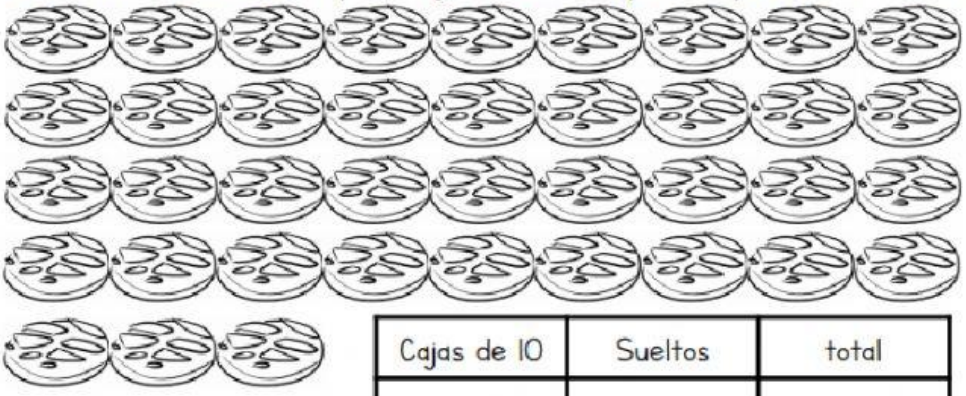

Cajas de 10	Sueltos	total

9- ¿Cuántas conchas faltan para completar una caja más? ☐

10- Cuenta las fichas, escribe cuántas hay y cuántas faltan para completar la decena.

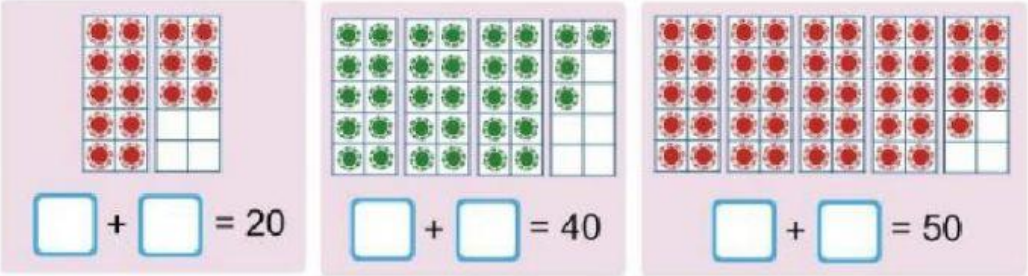

11- Anota a la derecha de cada número cuál es el resultado de sumarle 10.

24 ☐ 16 ☐ 8 ☐ 40 ☐ 10 ☐

LIVEWORKSHEETS

12-Une con una línea a cada figura con el grupo al que pertenece.

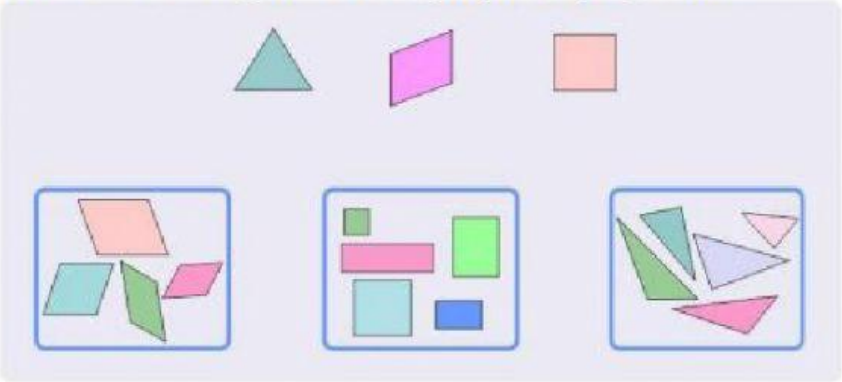

Marca con una ☑ la respuesta correcta.

13- ¿Qué tienen en común las siguientes figuras?

- ☐ Son del mismo color.
- ☐ Las dos tienen tres lados.
- ☐ Las dos tienen cuatro lados.

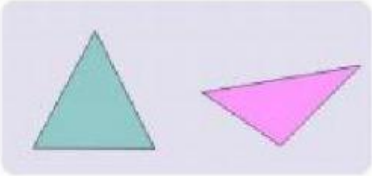

14- Coloca las figuras donde corresponde según la descripción.

Figura de 4 lados iguales.	Figura de 3 lados.	Figura de lados curvos.

LIVEWORKSHEETS

15- Escribe del 1 al 4 para ordenar los recipientes del que le cabe menos al que le cabe más.

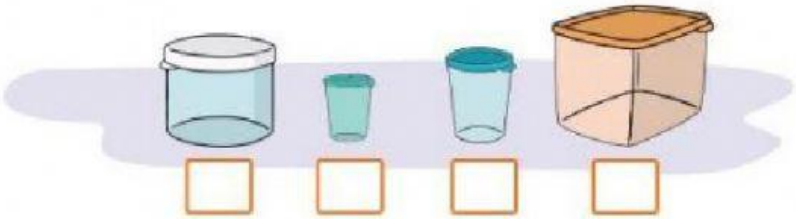

16- Anota los números que faltan.

17- Coloca los puntos que pudieron haber salido en los dados para llegar al número que se indica.

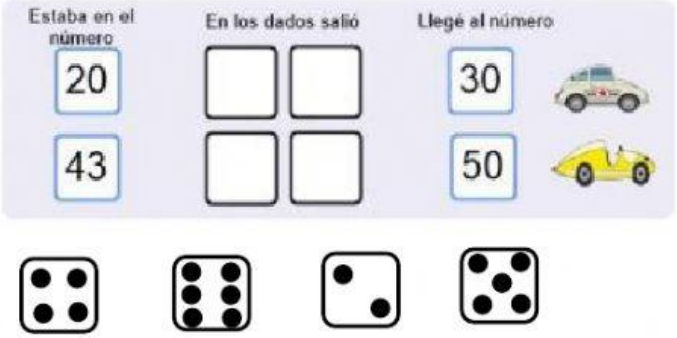

LIVEWORKSHEETS