7 “ ” класс

ФИО_____

Линейная функция и ее график

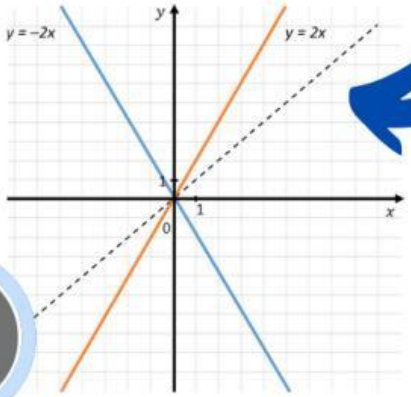

1 Восстанови формулу линейной функции, используя элементы из рамки

Формула

y=

k b + x

2 Послушай аудио и выбери верный график

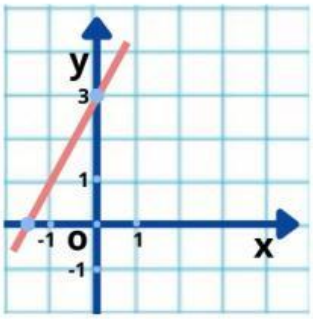

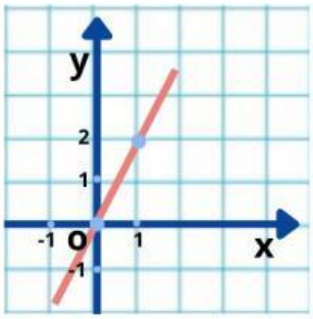

Заметки

3 Восстанови написанное

график функции y= _____, где

k не равно 0, есть _____,

параллельная прямой y = _____

4 Соедини функцию с названием ее вида

$y=x^2+1$

$y=2x-9$

Линейная

Не линейная

$y=3-5x$

$y=\frac{2}{x}$

5

П	Е	Р	Е	М	Е	Н	Н	А	Я	Ш	М
Ф	У	Н	К	Ц	И	Я	В	К	Э	Ь	Э
П	Р	Я	М	А	Я	Ь	В	Л	Ы	Э	Б
У	Р	А	В	Н	Е	Н	И	Е	Ч	У	А
Ё	Л	И	Н	И	Я	Н	П	С	Ц	Е	Й
К	О	Э	Ф	Ф	И	Ц	И	Е	Н	Т	Л
П	Е	Р	Е	М	Е	Н	Н	А	Я	Ю	С
П	М	Ю	Ё	Ы	Ф	В	О	Ч	П	Р	Т
Г	С	Ш	А	Й	Ц	У	Л	Щ	Г	Ы	И
Д	Э	Д	Е	Ы	Ю	Т	О	Ч	К	А	Б
В	Г	Р	А	Ф	И	К	Ч	Н	Б	Ш	П
Н	К	Ц	Ё	З	Н	О	Ч	В	Ы	Б	Ё

Задание для продвинутых.
Найди 9 слов

Не забудь указать свое настроение :

LIVEWORKSHEETS