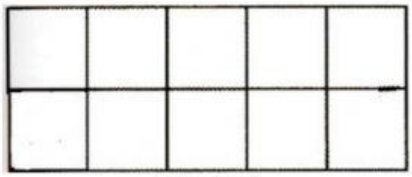

decimi



centesimi



millesimi

OSSERVA E RISPONDI ALLE SEGUENTI DOMANDE.

Quanti **decimi** occorrono per fare 1 unità? .....

E mezza unità?.....

Quanti decimi mancano per avere 1 unità intera se ho 7 decimi?.....

E se ne ho 6? ..... E se ne ho 3? .....

Quanti **centesimi** occorrono per avere 1 unità? .....

E per avere mezza unità? .....

Quanti centesimi per fare 2 decimi?..... E per 5 decimi? ..... E per 8 decimi? .....

Quanti centesimi mancano per avere 1 unità se ho 30 centesimi?.....

E se ne ho 35?..... E se ne ho 73? .....

Quanti millesimi occorrono per avere 1 unità?.....

E per avere 4 unità? ..... E per 3 unità e mezza? .....

Quanti millesimi si ottengono cambiando 1 centesimo? .....

Quanti millesimi mancano per avere 1 unità se ne ho 150? .....

E se ne ho 990? .....

Quanti millesimi mancano per fare un'unità se ho 4 centesimi e 5 millesimi?.....

Quanti millesimi mancano per fare un'unità se ho 8 decimi e 20 millesimi? .....

COMPLETA LE TABELLE:

NUMERO CON LA VIRGOLA	0,5	1,4			3,2	7,4		
FRAZIONE DECIMALE			$\frac{13}{10}$	$\frac{25}{10}$			$\frac{57}{10}$	$\frac{31}{10}$

NUMERO CON LA VIRGOLA	0,7			0,78	1,12			1,06
FRAZIONE DECIMALE		$\frac{16}{10}$	$\frac{27}{100}$			$\frac{11}{100}$	$\frac{142}{100}$	

LIVEWORKSHEETS