Тиждень 25.

_____ (ім'я)

Порівняй числа, подані одиницями; десятками.

1 ◯ 4	8 ◯ 5	6 ◯ 3	2 ◯ 5
1 д. ◯ 4 д.	8 д. ◯ 5 д.	6 д. ◯ 3 д.	2 д. ◯ 5 д.
10 ◯ 40	80 ◯ 50	60 ◯ 30	20 ◯ 50

Роздивись малюнки. Добери до кожного відповідну нерівність.





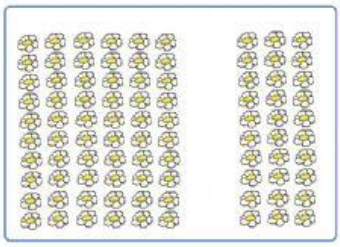

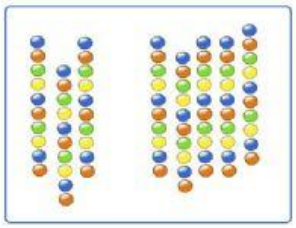

60>30 | 20<40 | 8>7 | 30<50

Заповни таблицю.

Зменшуване	9		10	9		8		7	10		5	4	10
Від'ємник		5		8	1		3			4	4		
Різниця	3	2	1		7	4	5	2	10	3		2	1

Запиши число за зразком.

3 д. = 30	8 д. =	7 д. =
1 д. =	10 д. =	9 д. =
5 д. =	6 д. =	1 д. і 1 од. =
4 д. =	2 д. =	1 д. і 2 од. =

nstrovok

LIVEWORKSHEETS