LKPD

BANGUN RUANG SISI LENGKUNG

Kerjakan soal di bawah ini!

1. Tabung memiliki sisi berbentuk lingkaran sebanyak... buah
   a. Satu
   b. Dua
   c. Tiga
   d. Empat

2. Pernyataan berikut berkaitan dengan kerucut. Pernyataan yang salah adalah...
   a. Kerucut memiliki alas berbentuk lingkaran
   b. Kerucut memiliki satu rusuk
   c. Kerucut memiliki atap berbentuk lingkaran
   d. Garis pelukis kerucut menghubungkan titik puncak dengan titik-titik pada

LIVEWORKSHEETS

3. Pilihlah nama yang sesuai dengan bangun di bawah ini!

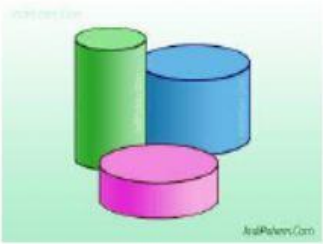

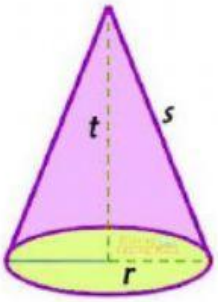

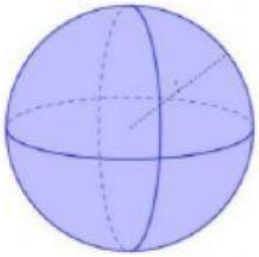

LIVEWORKSHEETS

4. Buatlah garis pada jawaban yang benar!
   Perhatikan gambar kerucut beriku!

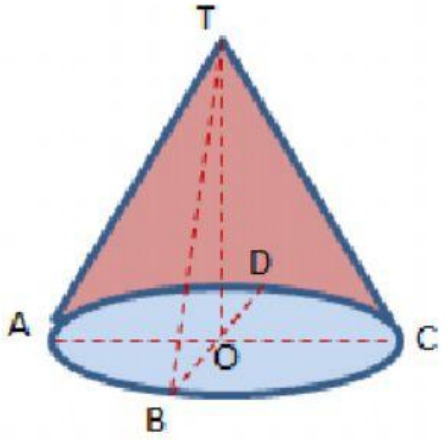

Garis yang merupakan garis pelukis adalah...	Garis TO
Garis yang merupakan tinggi kerucut adalah...	Garis AC
Garis yang merupakan diameter kerucut adalah...	Garis TA

LIVEWORKSHEETS

5. Tariklah rumus volume yang sesuai dengan bangun ruang di bawah ini!

Bangun Ruang	Rumus Volume	Pilihan Rumus
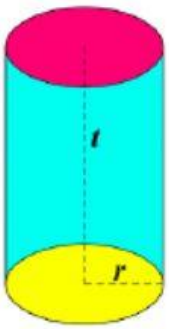		$V = \frac{1}{3}\pi \times r^2 \times t$
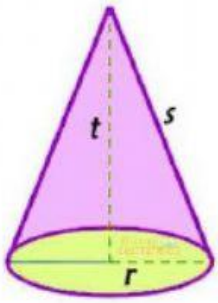		$V = \pi \times r^2 \times t$
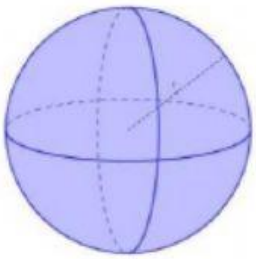		$V = \frac{4}{3}\pi \times r^3$

LIVEWORKSHEETS