LICEO REPÚBLICA DE SIRIA
"Estudiando se abren caminos"

Ñuñoa Educación

Prueba Mensual de Historia 2°básico
Mayo 2024

NOMBRE:	CURSO:	FECHA:
PUNTAJE IDEAL: __32__pts.	PTJE. OBTENIDO:	NOTA:
OBJETIVOS: OA8: Clasificar y caracterizar algunos paisajes de Chile según su ubicación en la zona norte, centro, sur y austral del país. Identificar los relieves de Chile.		

Instrucciones:
Escucha atentamente cada pregunta y luego marca según lo indicado por la profesora.

I: Comprensión lectora: 1pto c/u (8pts total)

LA FLOR DEL COPIHUE

Cuenta la gente de la **zona sur de Chile, en la Araucanía,** que en las profundidades de los bosques habían dos tribus mapuches que vivían en lados opuestos de un gran río.
Aunque compartían la misma tierra, **las tribus eran enemigas** y siempre estaban en guerra.

En una de estas tribus, vivía una hermosa **niña llamada Copih,** de cabellos largos, negros y ojos muy oscuros, pero ella era muy conocida **por su valentía y su corazón bondadoso**. En la tribu del otro lado del río, **vivía un valiente guerrero joven, llamado Hue**, famoso por **su fuerza y coraje.**

Un día, mientras **Copih estaba recogiendo piñones,** (flor de la araucaria) cerca del río, vio a Hue herido en la orilla opuesta. A pesar del peligro, **Copih nadó a través del río y cuidó de Hue** hasta que se recuperó.

Con el tiempo, Copih y Hue se enamoraron. Pero **sabían que su amor era imposible debido a la enemistad** entre sus tribus. Decidieron encontrarse en secreto en **el medio del bosque cada noche, bajo la luz de la luna.**

Pero un día, fueron descubiertos y las dos tribus entraron en una gran batalla. **Copih y Hue, en un intento de detener la lucha**, se lanzaron al río, pero la corriente era demasiado **fuerte y se los llevó.**

Al día siguiente, en el lugar donde Copih y Hue se encontraban cada noche, **creció una hermosa flor que** nunca antes habían visto. **Era roja como el valiente corazón de Copih y Hue.** Las tribus dejaron de pelear, llego la paz y así la **gente de esos dos pueblos llamaron** a esta flor **"Copihue", en honor a los jóvenes amantes.**

1. ¿Qué tipo de texto acabas de leer? A) Una carta B) Una leyenda. C) Una canción.	**2. Según el texto: ¿Quién era Copih?:** A) El jefe de las dos tribus. B) Era un joven guerrero de la otra tribu. C) Era la hermana del joven de la otra tribu.
3. Según lo leído: ¿A qué zona de Chile pertenece esta leyenda? A) A la zona Sur. B) A la zona Norte. C) A la zona Central.	**4. Según el texto leído ¿Cómo era el joven Hue?** A) Valiente y guerrero. B) Cobarde y mu y bondadoso. C) Era de pelo corto y rubio.
5. ¿Qué recogía, Copih cerca del río? A) Porotos. B) Huevos. C) Piñones	**6. Según el texto: ¿Cómo era la relación de las dos tribus?** A) Eran muy amigas. B) Eran enemigas. C) No se conocían. Pi

LIVEWORKSHEETS

7. ¿Qué intentaron Copih y hue para detener la lucha entre las tribus?	8. La gente llamo a la flor copihue, ¿Por qué la llamaron así?
A) Prendieron fuego en un cerro. B) Intentaron detener la lucha. C) Intentaron encontrarse al medio día.	A) En honor a las guerras. B) En honor a las tribus. C) En honor a los jóvenes amantes.

II. Vocabulario geográfico.

9.- Observa las imágenes de elementos de vocabulario geográfico y escribe con letra clara y legible en la línea su nombre 1 pto c/u **(3ptos).**

Volcán	Fiordos	Isla	Valle



A) _____ **B)** _____ **c)** _____

III. Relieve.

10.- Observa la imagen de las cuatro macroformas de relieve. Luego escribe el número según corresponda a cada unidad del relieve chileno. (4ptos)

1 Cordillera de los Andes	2 Planicie Litoral	3 Cordillera de la Costa	4 Depresión Intermedia

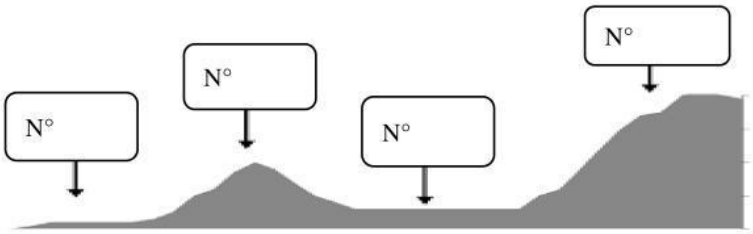

IV. Evaluar.

11. Evalúa lo aprendido contestando con una V si la alternativa es verdadera y con una F, si es falso.

1..... La zona norte de Chile presenta un clima muy lluvioso y frio.

2..... El desierto más seco del mundo se encuentra en la Zona Austral.

3..... La flora es muy escasa en la Zona norte, debido al clima árido.

4..... El cactus está presente solo en la Zona Sur de Chile.

5.....El Huemul corresponde a la Zona Sur de Chile.

6.....La chinchilla es un animal de la Zona Norte de Chile.

LIVEWORKSHEETS

7……. En el relieve Chile presenta cuatro macroformas.

8……. La Cordillera de los Andes, recorre Brasil, Venezuela, Francia, Uruguay.

9……. El cóndor, habita solo en la Cordillera de los Andes de la zona central de Chile.

V.- Los Relieve en el Mapa de Chile.

12. Observa el mapa y sus relieves, luego recorta y pega los nombres de cada uno de ellos, según la ubicación que tienen en el mapa de Chile. (8 ptos)

Chile y sus relieves

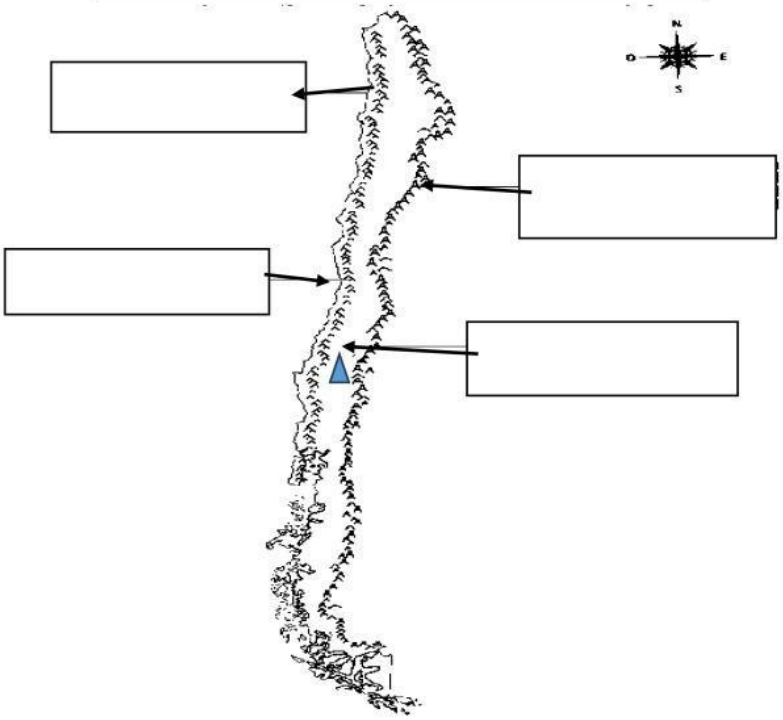

Recortar:

Cordillera de los Andes

Depresión Intermedia

Cordillera de la Costa

Planicie Litoral

LIVEWORKSHEETS